01-02-1

تعداد سوالات : تستی : ۴۰ **تشریحی :** ۰ **زمان آزمون (دقیقه) : تستی :** ۱۲۰ **تشریحی :** ۰ **سری سوال :** یک ۱

عنـــوان درس : اقتصاد کلان (2)،اقتصاد کلان مقدماتی،اقتصاد کلان2،اقتصادکلان 2،اقتصادکلان میانه 2

رشته تحصیلی/کد درس : مهندسی کشاورزی - اقتصادکشاورزی،مهندسی کشاورزی (اقتصادکشاورزی) ۱۱۲۱۰۳۷ - ،علوم اقتصادی،اقتصاد اسلامی،علوم اقتصادی (نظری) ۱۲۲۱۱۲۴ - ،مهندسی کشاورزی - اقتصاد کشاورزی،اقتصاد کشاورزی،۱۳_اقتصاد ومدیریت کشاورز ۱۲۲۱۲۰۲ اقتصاد اسلامی،علوم اقتصادی گرایش اقتصاداسلامی ۱۲۲۱۲۱۸ - ،اقتصاد۱۲۲۱۳۱۰، -

استفاده از ماشین حساب ساده مجاز است

۱- اگر درامد ملی اسمی برابر با 1000 میلیارد و $P=2$ و سرعت گردش پول برابر 10 باشد بر اساس نظریه تقاضای پول کمبریج، تقاضای اسمی پول چقدر است؟

۱. 100 ۲. 10000 ۳. 200 ۴. 1000

۲- به نظر کدام‌یک از اقتصاددانان ذیل، تقاضای حقیقی پول عمدتاً تابع ۳ متغیر درآمد حقیقی، نرخ بهره و نرخ تورم انتظاری است؟

۱. میلتون فریدمن ۲. جیمز توبین ۳. جان استوارت میل ۴. کنت ویکسل

۳- کدام‌یک از گزینه های زیر، باعث افزایش عرضه پول می‌گردد؟

۱. افزایش نرخ تنزیل مجدد اوراق قرضه
۲. خرید اوراق قرضه توسط بانک مرکزی
۳. افزایش نرخ ذخیره قانونی
۴. افزایش نرخ ذخیره اضافی

۴- هر چقدر تقاضای پول نسبت به نرخ بهره ..... باشد و هر چقدر تقاضای پول نسبت به درآمد ..... باشد، LM پرشیب تر خواهد بود.

۱. باکشش تر – باکشش تر
۲. باکشش تر – کم کشش تر
۳. کم کشش تر – باکشش تر
۴. کمک شش تر – کم کشش تر

۵- از دیدگاه کینز، وضعیت دام نقدینگی حکایت از آن دارد که افراد تصور می کنند:

۱. قیمت اوراق قرضه به بالاترین حد خود رسیده است.
۲. قیمت اوراق قرضه در آینده افزایش خواهد یافت.
۳. قیمت اوراق قرضه به پایین ترین حد خود رسیده است.
۴. نرخ بهره به بالاترین حد ممکن رسیده است.

۶- در چه صورتی منحنی LM به صورت موازی به سمت پایین و راست جا به جا می شود؟

۱. عرضه اسمی پول کاهش یابد.
۲. سطح قیمت ها کاهش یابد.
۳. تقاضای مستقل پول افزایش یابد.
۴. نرخ بهره افزایش یابد.

تعداد سوالات : تستی : ۴۰ تشریحی : ۰ | زمان آزمون (دقیقه) : تستی : ۱۲۰ تشریحی : ۰ | سری سوال : ۱ یک

عنوان درس: اقتصاد کلان (2)،اقتصاد کلان مقدماتی،اقتصاد کلان2،اقتصادکلان 2،اقتصادکلان میانه 2

رشته تحصیلی/کد درس: مهندسی کشاورزی - اقتصادکشاورزی،مهندسی کشاورزی (اقتصادکشاورزی) ۱۱۲۱۰۳۷ - ،علوم اقتصادی،اقتصاد اسلامی،علوم اقتصادی (نظری) ۱۲۲۱۱۲۴ - ،مهندسی کشاورزی - اقتصاد کشاورزی،اقتصاد کشاورزی،۱۳_اقتصاد ومدیریت کشاورز ۱۲۲۱۲۰۲ - ،اقتصاد اسلامی،علوم اقتصادی گرایش اقتصاداسلامی ۱۲۲۱۲۱۸ - ،اقتصاد۱۲۲۱۳۱۰

۷- شیب منحنی IS چگونه است و نقاط سمت چپ و پایین این منحنی دارای کدام‌یک از ویژگی های زیر است؟

۱. دارای شیب مثبت - جمع تزریقات کمتر از تراوشات است.
۲. دارای شیب مثبت - جمع تزریقات بیش از تراوشات است.
۳. دارای شیب منفی - جمع تزریقات بیش از تراوشات است.
۴. دارای شیب منفی - جمع تزریقات کمتر از تراوشات است.

۸- کدامیک از عوامل زیر منجر به انتقال منحنی IS به سمت راست و بالا می شود؟

۱. افزایش $\overline{I}$ و کاهش $\overline{C}$
۲. افزایش $\overline{T}$ و افزایش $\overline{I}$
۳. کاهش $\overline{T}$ و کاهش $\overline{C}$
۴. افزایش $\overline{C}$ و کاهش $\overline{T}$

۹- منحنی IS تحت تاثیر چه عاملی سبب افزایش تقاضای کل می شود و به سمت راست منتقل می گردد؟

۱. سیاست مالی انقباضی
۲. سیاست پولی انبساطی
۳. سیاست پولی انقباضی
۴. سیاست مالی انبساطی

۱۰- اگر

$$100+0/25y\ ,TR=350,G=600,I=500-200r,\frac{M^d}{P}=100+0/2y\ -400r,\frac{M^s}{P}=450$$

باشد و دولت مالیات ثابت را ۵۰ واحد کاهش دهد درآمد ملی تعادلی چقدر افزایش می یابد؟

۱. 40
۲. 80
۳. 0/4
۴. 0/8

۱۱- در کل افزایش تقاضای مستقل پول چه اثری در تعادل همزمان بازار پول و کالا دارد؟

۱. افزایش y تعادلی و r تعادلی
۲. کاهش y تعادلی و افزایش r تعادلی
۳. کاهش y تعادلی و r تعادلی
۴. افزایش y تعادلی و کاهش r تعادلی

۱۲- چنانچه بانک مرکزی قصد داشته باشد نرخ بهره را کاهش دهد، با کدامیک از سیاستهای زیر از طریق جابجایی همزمان IS و LM هدف او تأمین می شود؟

۱. سیاستهای مالی و پولی انبساطی
۲. سیاستهای مالی و پولی انقباضی
۳. سیاستهای مالی انقباضی و پولی انبساطی
۴. سیاستهای مالی انبساطی و پولی انقباضی

تعداد سوالات : تستی : ۴۰ تشریحی : ۰ | زمان آزمون (دقیقه) : تستی : ۱۲۰ تشریحی : ۰ | سری سوال : ۱ یک

عنوان درس : اقتصاد کلان (2)،اقتصاد کلان مقدماتی،اقتصاد کلان2،اقتصادکلان 2،اقتصادکلان میانه 2

رشته تحصیلی/کد درس : مهندسی کشاورزی - اقتصادکشاورزی،مهندسی کشاورزی (اقتصادکشاورزی) ۱۱۲۱۰۳۷ - ،علوم اقتصادی،اقتصاد اسلامی،علوم اقتصادی (نظری) ۱۲۲۱۱۲۴ - ،مهندسی کشاورزی - اقتصاد کشاورزی،اقتصاد کشاورزی،۱۳_اقتصاد ومدیریت کشاورز ۱۲۲۱۲۰۲ - ،اقتصاد اسلامی،علوم اقتصادی گرایش اقتصاداسلامی ۱۲۲۱۲۱۸ - ،اقتصاد۱۲۲۱۳۱۰

۱۳- منظور از سیاست همسازی پولی (Monetary Accommodation) چیست؟

۱. افزایش عرضه پول
۲. افزایش هزینه های دولت
۳. افزایش همزمان هزینه های دولت و عرضه حقیقی پول
۴. افزایش عرضه حقیقی پول و کاهش هزینه های دولت

۱۴- در کدام حالت، اثر جایگزینی کامل (full crowding out) وجود دارد؟

۱. در حالت LM با شیب مثبت
۲. در حالت LM افقی
۳. در حالت IS با شیب منفی
۴. در حالت IS افقی

۱۵- در چه حالتی سیاست پولی فاقد کارایی است؟

۱. منحنیIS بیانگر نوعی دیدگاه کینزی وکاملا عمودی است.
۲. منحنیIS بیانگر نوعی دیدگاه کلاسیکی وکاملا عمودی است.
۳. منحنیLM بیانگر نوعی دیدگاه کینزی وکاملا عمودی است.
۴. منحنیLM بیانگر نوعی دیدگاه کلاسیکی وکاملا عمودی است.

۱۶- کدامیک از اقلام زیر در سمت چپ حساب سرمایه کشور ایران ثبت می شوند؟

۱. خریدکارخانه های کشورهای خارج توسط ایرانیان.
۲. فروش زمین و مستقلات به ایرانیان توسط خارجیان.
۳. خرید سهام و اوراق قرضه کشور ما توسط خارجیان.
۴. خرید سهام و اوراق قرضه کشورهای خارج توسط ایرانیان.

۱۷- در تمام نقاط سمت چپ و بالای BP چه شرایطی وجود دارد؟

۱. مازاد تراز پرداخت ها یا اضافه عرضه ارز
۲. مازاد تراز پرداخت ها یا اضافه تقاضای ارز
۳. کسری تراز پرداخت ها یا اضافه عرضه ارز
۴. کسری تراز پرداخت ها یا اضافه تقاضای ارز

۱۸- چنانچه منحنی BP عمود بر محور افقی باشد، حساسیت ورود و خروج سرمایه نسبت به نرخ بهره چگونه است؟

۱. منفی است. ۲. یک است. ۳. صفر است. ۴. زیاد است.

۱۹- در سیستم نرخ ارز شناور، سیاست ..... کارایی چندانی ندارد و سیاست ..... کارایی زیادی دارد.

۱. مالی – مالی ۲. مالی – پولی ۳. پولی – مالی ۴. پولی – پولی

تعداد سوالات : تستی : ۴۰ تشریحی : ۰ | زمان آزمون (دقیقه) : تستی : ۱۲۰ تشریحی : ۰ | سری سوال : ۱ یک

عنوان درس : اقتصاد کلان (2)،اقتصاد کلان مقدماتی،اقتصاد کلان2،اقتصادکلان 2،اقتصادکلان میانه 2

رشته تحصیلی/کد درس : مهندسی کشاورزی - اقتصادکشاورزی،مهندسی کشاورزی (اقتصادکشاورزی) ۱۱۲۱۰۳۷ - ،علوم اقتصادی،اقتصاد اسلامی،علوم اقتصادی (نظری) ۱۲۲۱۱۲۴ - ،مهندسی کشاورزی - اقتصاد کشاورزی،اقتصاد کشاورزی،۱۳_اقتصاد ومدیریت کشاورز ۱۲۲۱۲۰۲ - ،اقتصاد اسلامی،علوم اقتصادی گرایش اقتصاداسلامی ۱۲۲۱۲۱۸ - ،اقتصاد۱۲۲۱۳۱۰

۲۰- اثر ثروت یا پیگو چیست؟

۱. اثر ثروت بر عرضه کل
۲. اثر تغییرتقاضای کل از طریق اثر ثروت حقیقی بر مصرف
۳. اثر ثروت بر سرمایه گذاری و تقاضای کل
۴. اثر سرمایه گذاری بر ثروت

۲۱- کدامیک از عوامل زیر منجر به افزایش شیب منحنی تقاضای کل (AD) می گردد؟

۱. افزایش میل نهایی به مصرف (c)
۲. کاهش نرخ مالیاتی (t)
۳. افزایش ضریب نرخ بهره سرمایه گذاری (b)
۴. افزایش ضریب درآمدی تقاضای پول (k)

۲۲- وضعیتی که در آن چسبندگی قیمتها و دستمزدها وجود ندارد و دستمزدها و قیمتها کاملا انعطاف پذیر هستند، مربوط به کدام مورد است؟

۱. حالت کینزی
۲. حالت نئوکینزی
۳. حالت معمولی
۴. حالت کلاسیک

۲۳- هر آنچه منحنی ..... را کم شیب تر کند منحنی AD را ..... می کند.

۱. IS – کم شیب تر
۲. IS – پرشیب تر
۳. LM – کم شیب تر
۴. LM – پرشیب تر

۲۴- کدام گزینه در وضعیت دام نقدینگی مصداق پیدا می کند؟

۱. در حالت دام نقدینگی، منحنی LM افقی است لذا منحنی AD عمودی است.
۲. در حالت دام نقدینگی، کشش تقاضای پول نسبت به نرخ بهره بینهایت است لذا منحنی LM عمودی است.
۳. در حالت دام نقدینگی، منحنی IS عمودی و در نتیجه منحنی AD نیز عمودی است.
۴. در حالت دام نقدینگی، کشش تقاضای پول نسبت به نرخ بهره صفر است لذا منحنی AD نیز عمودی است.

۲۵- در چه صورتی مقدار انتقال افقی منحنی AD دقیقا برابر با انتقال افقی IS خواهد بود؟

۱. IS عمودی یا LM افقی و دام نقدینگی
۲. IS عمودی یا LM عمودی و دام نقدینگی
۳. IS افقی یا LM افقی و دام نقدینگی
۴. IS افقی یا LM عمودی و دام نقدینگی

تعداد سوالات : تستی : ۴۰ **تشریحی :** ۰ **زمان آزمون (دقیقه) : تستی :** ۱۲۰ **تشریحی :** ۰ **سری سوال :** ۱ یک

عنـــوان درس : اقتصاد کلان (2)،اقتصاد کلان مقدماتی،اقتصاد کلان2،اقتصادکلان 2،اقتصادکلان میانه 2

رشته تحصیلی/کد درس : مهندسی کشاورزی - اقتصادکشاورزی،مهندسی کشاورزی (اقتصادکشاورزی) ۱۱۲۱۰۳۷ - ،علوم اقتصادی،اقتصاد اسلامی،علوم اقتصادی (نظری) ۱۲۲۱۱۲۴ - ،مهندسی کشاورزی - اقتصاد کشاورزی،اقتصاد کشاورزی،۱۳_اقتصاد ومدیریت کشاورز ۱۲۲۱۲۰۲ - ،اقتصاد اسلامی،علوم اقتصادی گرایش اقتصاداسلامی ۱۲۲۱۲۱۸ - ،اقتصاد۱۲۲۱۳۱۰

۲۶- کدام گزینه در ترازنامه بانک مرکزی نشانه دهنده بدهی های بانک مرکزی است؟

۱. ذخایر اضافی بانک ها نزد بانک مرکزی
۲. ذخایر طلای بانک مرکزی
۳. وام های اعطایی بانک مرکزی به بانک های تجاری
۴. خالص ذخایر ارزی بانک مرکزی

۲۷- فرض کنید درآمد سالیانه یک ورقه قرضه برابر 7000 واحد پولی است و نرخ بهره ده درصد است و این ورقه دارای سر رسید نا محدود است قیمت این ورقه در بازار فعلا چند است؟

۱. 7000 ۲. 70000 ۳. 63000 ۴. 46666

۲۸- کدام یک از عوامل زیر در افزایش عرضه پول موثر است؟

۱. افزایش پایه پولی H
۲. کاهش نسبت اسکناس به سپرده Cd
۳. کاهش نرخ ذخیره قانونی rr
۴. همه موارد صحیح است.

۲۹- نقدینگی برابر است با:

۱. پول به علاوه شبه پول
۲. اسکناس به علاوه سپرده دیداری
۳. اسکناس به علاوه پول
۴. سپرده دیداری به علاوه شبه پول

۳۰- کدامیک از گزینه های زیر در دنیای امروز صحیح است؟

۱. ذخیره ارزی نمی تواند بعنوان پشتوانه پول باشد.
۲. وجود پشتوانه صد در صد طلا برای اسکناس ضرورت ندارد.
۳. وجود پشتوانه صد در صد طلا برای اسکناس امکان پذیر است.
۴. اوراق قرضه دولتی نمی تواند بعنوان پشتوانه پول باشد.

۳۱- عامل اصلی تعیین کننده شیب منحنی IS چیست؟

۱. $\bar{I}$ ۲. $t-1$ ۳. b ۴. r

تعداد سوالات : تستی : ۴۰ تشریحی : ۰ | زمان آزمون (دقیقه) : تستی : ۱۲۰ تشریحی : ۰ | سری سوال : ۱ یک

عنوان درس : اقتصاد کلان (2)،اقتصاد کلان مقدماتی،اقتصاد کلان2،اقتصادکلان 2،اقتصادکلان میانه 2

رشته تحصیلی/کد درس : مهندسی کشاورزی - اقتصادکشاورزی،مهندسی کشاورزی (اقتصادکشاورزی) ۱۱۲۱۰۳۷ - ،علوم اقتصادی،اقتصاد اسلامی،علوم اقتصادی (نظری) ۱۲۲۱۱۲۴ - ،مهندسی کشاورزی - اقتصاد کشاورزی،اقتصاد کشاورزی،۱۳_اقتصاد ومدیریت کشاورز ۱۲۲۱۲۰۲ - ،اقتصاد اسلامی،علوم اقتصادی گرایش اقتصاداسلامی ۱۲۲۱۲۱۸ - ،اقتصاد۱۲۲۱۳۱۰

۳۲- در یک مدل ساده خلق پول اگر نرخ ذخیره قانونی 20 درصد و بانک مرکزی 1000 واحد پول بابت کسری بودجه به دولت قرض دهد کدامیک از گزینه ها صحیح است؟

۱. ضریب تکاثر خلق پول 4 است.

۲. در مجموع 5000 واحد سپرده دیداری افزایش می یابد.

۳. پول پایه برابر 4000 است.

۴. در نهایت ذخایر قانونی بانک ها نزد بانک مرکزی برابر 1200 واحد پول می شود.

۳۳- نمودار منحنی LM در شرایط دام نقدینگی دارای چه وضعیتی است؟

۱. عمودی
۲. افقی
۳. شیب مثبت
۴. شیب منفی

۳۴- کدامیک از گزینه ها در ترازنامه بانک مرکزی جزء منابع پایه پولی است؟

۱. اسکناس و مسکوک در دست اشخاص

۲. وامها و اعتبارات اعطایی بانک مرکزی به بانک های تجاری

۳. ذخایر اضافی بانکها

۴. سپرده های قانونی بانک ها نزد بانک مرکزی

۳۵- "الگوی انتظارات تطبیقی" در تحلیل چه کسی به کار رفته است؟

۱. جیمز توبین
۲. جان استوارت میل
۳. فریدمن
۴. کنت ویکسل

۳۶- اگر روی منحنی LM ($r = -0/75 + 0/001y$) درآمد ملی برابر 2000 و نرخ بهره برابر 1/25 باشد در صورتیکه درآمد ملی به 1800 کاهش و نرخ بهره به 1/5 افزایش یابد در چه شرایطی قرار داریم؟

۱. برابری عرضه و تقاضای پول
۲. برابری عرضه و تقاضای کالا و خدمات
۳. اضافه تقاضای پول
۴. اضافه عرضه پول

تعداد سوالات : تستی : ۴۰ **تشریحی :** ۰ **زمان آزمون (دقیقه) : تستی :** ۱۲۰ **تشریحی :** ۰ **سری سوال :** ۱ یک

عنـــوان درس : اقتصاد کلان (2)،اقتصاد کلان مقدماتی،اقتصاد کلان2،اقتصادکلان 2،اقتصادکلان میانه 2

رشته تحصیلی/کد درس : مهندسی کشاورزی - اقتصادکشاورزی،مهندسی کشاورزی (اقتصادکشاورزی) ۱۱۲۱۰۳۷ - ،علوم اقتصادی،اقتصاد اسلامی،علوم اقتصادی (نظری) ۱۲۲۱۱۲۴ - ،مهندسی کشاورزی - اقتصاد کشاورزی،اقتصاد کشاورزی،۱۳_اقتصاد ومدیریت کشاورز ۱۲۲۱۲۰۲ - ،اقتصاد اسلامی،علوم اقتصادی گرایش اقتصاداسلامی ۱۲۲۱۲۱۸ - ،اقتصاد۱۲۲۱۳۱۰

۳۷- کدام گزینه در مورد تقاضای سفته بازی توبین صحیح نیست؟

۱. از یک تحلیل خرد مطلوبیت استفاده شده است.

۲. در مورد نرخ بهره آینده مطمئن نیست.

۳. به لحاظ ریسک در تصمیم گیری ، فرد صرفا اوراق قرضه نگهداری می کند.

۴. منحنی تقاضای سفته بازی فرد نزولی است.

۳۸- اگر دستمزدها به همان نسبت قیمتها افزایش یابد ، بیانگر چه چیزی است؟

۱. وجود توهم پولی است.

۲. عدم توهم پولی است.

۳. دیدگاه کینزی است.

۴. تولید افزایش می یابد.

۳۹- فرض کنید معادله تقاضای سفته بازی پول $L_2 = 150 - 200r$ و معادله تقاضای معاملاتی پول $L_1 = 50 + 0/5y$ باشدو عرضه پول برابر 500 باشد معادله LM را به دست آورید؟

۱. $r = -1/5 + \frac{1}{80}y$

۲. $r = -1/5 + \frac{1}{400}y$

۳. $r = -200 + \frac{1}{400}y$

۴. $r = 150 - 100y$

۴۰- هر آنچه که ضریب تکاثر مدل های ساده کینزی را افزایش دهد ، IS را ..... می کند.

۱. کم شیب تر

۲. عمودی

۳. صعودی

۴. پرشیب تر

1221310 - 01-02-1

وضعیت کلید	پاسخ صحیح	شماره سوال
عادي	الف	1
عادي	الف	2
عادي	ب	3
عادي	ج	4
عادي	الف	5
عادي	ب	6
عادي	ج	7
عادي	د	8
عادي	د	9
عادي	الف،ب،ج،د	10
عادي	ب	11
عادي	ج	12
عادي	ج	13
عادي	الف،ب،ج،د	14
عادي	الف	15
عادي	ج	16
عادي	الف	17
عادي	ج	18
عادي	ب	19
عادي	ب	20
عادي	د	21
عادي	د	22
عادي	الف	23
عادي	الف	24
عادي	الف	25
عادي	الف	26
عادي	ب	27
عادي	د	28
عادي	الف	29
عادي	ب	30
عادي	ج	31
عادي	ب	32
عادي	ب	33
عادي	ب	34
عادي	ج	35
عادي	د	36
عادي	ج	37
عادي	الف،ب،ج،د	38
عادي	ب	39
عادي	الف	40

00-01-3

تعداد سوالات : تستی : ۴۰ **تشریحی :** ۰ | **زمان آزمون (دقیقه) : تستی :** ۱۲۰ **تشریحی :** ۰ | **سری سوال :** یک ۱

عنـــوان درس : اقتصاد کلان (2)،اقتصاد کلان مقدماتی،اقتصاد کلان2،اقتصادکلان 2،اقتصادکلان میانه 2

رشته تحصیلی/کد درس : مهندسی کشاورزی - اقتصادکشاورزی،مهندسی کشاورزی (اقتصادکشاورزی) ۱۱۲۱۰۳۷ - ،علوم اقتصادی (نظری)،علوم اقتصادی،اقتصاد اسلامی ۱۲۲۱۱۲۴ - ،مهندسی کشاورزی - اقتصاد کشاورزی،اقتصاد کشاورزی ۱۲۲۱۲۰۲ - ،اقتصاد اسلامی،علوم اقتصادی گرایش اقتصاداسلامی ۱۲۲۱۲۱۸ - ،اقتصاد۱۲۲۱۳۱۰

استفاده از ماشین حساب ساده مجاز است

۱- کدام یک از گزینه های زیر ، جزء وظایف پول بشمار نمی رود؟

۱. وسیله مبادله
۲. واحد شمارش یا سنجش
۳. جانشین اوراق قرضه
۴. ذخیره ارزش یا ثروت

۲- نظریه مقداری پول بیانگرکدام گزینه زیر است ؟

۱. رابطه همسوی سرعت گردش پول و حجم پول است.
۲. رابطه همسوی سطح قیمت و تولید ملی است
۳. رابطه همسوی قیمت و حجم پول است.
۴. رابطه معکوس نرخ بهره با تقاضای سفته بازی پول است.

۳- کدام گزینه زیر معادل نقدینگی است ؟

۱. اسکناس و مسکوک در دست اشخاص + شبه پول
۲. سپردههای دیداری اشخاص + پول
۳.) اسکناس و مسکوک در دست اشخاص + سپردههای دیداری اشخاص + پول
۴. اسکناس و مسکوک در دست اشخاص + سپرده های دیداری اشخاص + شبه پول

۴- بر اساس نظریه تقاضای معاملاتی باموول – توبین، تقاضای معاملاتی پول طبق کدام گزینه زیر است ؟

۱. تابعی مستقیم از درآمد ملی است.
۲. تابعی معکوس از نرخ بهره است.
۳. تابعی مستقیم از درآمد ملی و نرخ بهره است.
۴. تابعی مستقیم از درآمد ملی و تابعی معکوس از نرخ بهره است.

۵- به نظر کدام‌یک از اقتصاددانان ذیل، تقاضای حقیقی پول عمدتاً تابع 3 متغیر درآمد حقیقی، نرخ بهره و نرخ تورم انتظاری است؟

۱. میلتون فریدمن
۲. جیمز توبین
۳. جان استوارت میل
۴. کنت ویکسل

۶- چنانچه درآمد ماهیانه فرد 20000، نرخ بهره ماهیانه 0/1و هزینه کارمزد 10 باشد، تعداد بهینه دفعات برداشت از حساب چقدر است؟

۱. $n=10$
۲. $n=12$
۳. $n=15$
۴. $n=20$

تعداد سوالات : تستی : ۴۰ **تشریحی :** ۰ | **زمان آزمون (دقیقه) : تستی :** ۱۲۰ **تشریحی :** ۰ | **سری سوال :** ۱ یک

عنـــوان درس : اقتصاد کلان (2)،اقتصاد کلان مقدماتی،اقتصاد کلان2،اقتصادکلان 2،اقتصادکلان میانه 2

رشته تحصیلی/کد درس : مهندسی کشاورزی - اقتصادکشاورزی،مهندسی کشاورزی (اقتصادکشاورزی) ۱۱۲۱۰۳۷ - ،علوم اقتصادی (نظری)،علوم اقتصادی،اقتصاد اسلامی ۱۲۲۱۱۲۴ - ،مهندسی کشاورزی - اقتصاد کشاورزی،اقتصاد کشاورزی ۱۲۲۱۲۰۲ - ،اقتصاد اسلامی،علوم اقتصادی گرایش اقتصاداسلامی ۱۲۲۱۲۱۸ - ،اقتصاد۱۲۲۱۳۱۰

۷- کدام گزینه زیر، جزء مصارف پایه پولی است؟

۱. خالص ذخایر ارزی بانک مرکزی
۲. ذخایر اضافی بانکها
۳. ذخایر طلای بانک مرکزی
۴. مطالبات بانک مرکزی از دولت یا اوراق قرضه دولتی

۸- نرخ ذخیره اضافی با نرخ تنزیل مجدد و ریسک کمبود نقدینگی به ترتیب چه رابطه های دارد؟

۱. مستقیم – مستقیم
۲. معکوس – معکوس
۳. مستقیم – معکوس
۴. معکوس – مستقیم

۹- اگر $C_d = 0/25$ ، $rr = 0/15$ ، $er = 0/1$ ، $\bar{H} = 100$ باشد، مقدار حجم پول و حجم سپرده های دیداری کدام گزینه زیر است؟

۱. $M = 250 , DD = 200$
۲. $M = 220 , DD = 230$
۳. $M = 200 , DD = 250$
۴. $M = 250 , DD = 150$

۱۰- کدام‌یک از گزینه های زیر، باعث افزایش عرضه پول می گردد؟

۱. افزایش نرخ تنزیل مجدد اوراق قرضه
۲. خرید اوراق قرضه
۳. افزایش نرخ ذخیره قانونی
۴. افزایش نرخ ذخیره اضافی

۱۱- هدف از تعادل بازار پول تعیین کدام گزینه زیر است؟

۱. نرخ ارز
۲. نرخ بهره
۳. نرخ تورم
۴. سطح عمومی قیمت ها

۱۲- کدام یک از گزینه های زیر،علت جابجایی منحنی تقاضای پول به سمت راست دراثر افزایش درآمد است؟

۱. با افزایش درآمد مقدار تقاضای معاملاتی پول کاهش می یابد
۲. با افزایش درآمد مقدار تقاضای معاملاتی و سفته بازی پول کاهش می یابد
۳. با افزایش درآمد مقدار تقاضای معاملاتی پول افزایش می یابد
۴. با افزایش درآمد مقدار تقاضای معاملاتی و سفته بازی پول افزایش می یابد

تعداد سوالات : تستی : ۴۰ **تشریحی :** ۰ | **زمان آزمون (دقیقه) : تستی :** ۱۲۰ **تشریحی :** ۰ | **سری سوال :** ۱ یک

عنـــوان درس : اقتصاد کلان (2)،اقتصاد کلان مقدماتی،اقتصاد کلان2،اقتصادکلان 2،اقتصادکلان میانه 2

رشته تحصیلی/کد درس : مهندسی کشاورزی - اقتصادکشاورزی،مهندسی کشاورزی (اقتصادکشاورزی) ۱۱۲۱۰۳۷ - ،علوم اقتصادی (نظری)،علوم اقتصادی،اقتصاد اسلامی ۱۲۲۱۱۲۴ - ،مهندسی کشاورزی - اقتصاد کشاورزی،اقتصاد کشاورزی ۱۲۲۱۲۰۲ - ،اقتصاد اسلامی،علوم اقتصادی گرایش اقتصاداسلامی ۱۲۲۱۲۱۸ - ،اقتصاد۱۲۲۱۳۱۰

۱۳- کدام یک از گزینه های زیر در خصوص عرضه پول صحیح میباشد؟

۱. عرضه پول مقدار ثابت و درونزایی است

۲. عرضه پول مقدار ثابت و برونزایی است که توسط بانک مرکزی تعیین می شود

۳. عرضه پول توسط سیاستگذاران اقتصادی دولتی تعیین می شود

۴. عرضه پول تحت تاثیر نرخ بهره تعیین می شود

۱۴- چنانچه معادله تقاضای پول به صورت $\frac{M^d}{P}=0/4Y-50r$ **باشد و عرضه ی اسمی پول از** 1000 **به** 1200 **تغییر یابد و شاخص قیمتها نیز** 100 **باشد، مقدار انتقال افقی** LM **چقدر خواهد بود؟**

۱. 500 ۲. 400 ۳. 250 ۴. 200

۱۵- منحنی IS **دارای شیب نزولی است چرا که با :**

۱. کاهش تقاضای پول سبب افزایش تولید تعادلی در بازار پول می شود.

۲. کاهش نرخ بهره سبب افزایش تولید تعادلی در بازار کالا می شود.

۳. افزایش نرخ بهره سبب افزایش تولید تعادلی در بازارکالا می شود.

۴. افزایش تقاضای پول سبب افزایش تولید تعادلی در بازار پول می شود.

۱۶- در تمام نقاط سمت چپ و پایین IS **در بازار کالا:**

۱. اضافه تقاضا وجود دارد.

۲. اضافه عرضه وجود دارد .

۳. بازار در تعادل است

۴. هر یک از موارد ممکن است .

۱۷- با فرض $C=600+0/75Y_d$, $T=500+0/4Y$, $I=300-50r$, $G=500$ **شیب منحنی** IS **برابر کدام گزینه زیر خواهد بود ؟**

۱. 0/015 ۲. 0/011 ۳. -0/015 ۴. -0/011

۱۸- با فروش اوراق قرضه، قیمت اوراق قرضه کاهش می یابد، زیرا :

۱. فروش اوراق قرضه سبب کاهش نرخ بهره می شود

۲. قیمت اوراق قرضه و نرخ بهره مستقل از هم هستند

۳. قیمت اوراق قرضه و نرخ بهره رابطه ی معکوس دارند

۴. قیمت اوراق قرضه و نرخ بهره رابطه ی مستقیم دارند

تعداد سوالات : تستی : ۴۰ **تشریحی :** ۰ | **زمان آزمون (دقیقه) : تستی :** ۱۲۰ **تشریحی :** ۰ | **سری سوال :** ۱ یک

عنـــوان درس : اقتصاد کلان (2)،اقتصاد کلان مقدماتی،اقتصاد کلان2،اقتصادکلان 2،اقتصادکلان میانه 2

رشته تحصیلی/کد درس : مهندسی کشاورزی - اقتصادکشاورزی،مهندسی کشاورزی (اقتصادکشاورزی) ۱۱۲۱۰۳۷ - ،علوم اقتصادی (نظری)،علوم اقتصادی،اقتصاد اسلامی ۱۲۲۱۱۲۴ - ،مهندسی کشاورزی - اقتصاد کشاورزی،اقتصاد کشاورزی ۱۲۲۱۲۰۲ - ،اقتصاد اسلامی،علوم اقتصادی گرایش اقتصاداسلامی ۱۲۲۱۲۱۸ - ،اقتصاد۱۲۲۱۳۱۰

۱۹- هرگاه LM جابجا شود، مقدار تغییر در نرخ بهره تعادلی برابر با کدام گزینه زیر است ؟

۱. شیب LM ضربدر تغییر قیمت تعادلی
۲. شیب LM ضربدر تغییر درآمد تعادلی
۳. شیب IS ضربدر تغییر قیمت تعادلی
۴. شیب IS ضربدر تغییر درآمد تعادلی

۲۰- ترکیب سیاست مالی و پولی بصورت افزایش هزینه های دولت و افزایش همزمان عرضه ی حقیقی پول، چه نامیده می شود؟

۱. جانشینی جبری
۲. همسازی پولی
۳. بودجه متوازن
۴. اثر جایگزینی

۲۱- در کدام گزینه زیر، اثر جایگزینی کامل (full crowding out) وجود دارد؟

۱. در حالت LM افقی
۲. در حالت LM عمودی
۳. در حالت IS با شیب منفی
۴. در حالت IS افقی

۲۲- در حالتی که LM افقی و IS عمودی باشد آنگاه:

۱. سیاست پولی دارای بیشترین کارایی بر روی y تعادلی است ولی سیاست مالی فاقد کارایی است.
۲. سیاست مالی دارای بیشترین کارایی بر روی y تعادلی است ولی سیاست پولی فاقد کارایی است.
۳. هر دو سیاست مالی و پولی دارای بیشترین کارایی است.
۴. هر دو سیاست مالی و پولی فاقد کارایی هستند.

۲۳- در سیستم نرخ ارز شناور، سیاست ..... کارایی چندانی ندارد و سیاست ..... کارایی بسیاری است .

۱. مالی – مالی
۲. مالی – پولی
۳. پولی – مالی
۴. پولی – پولی

۲۴- در شرایطی که کشور در سطح تولیدی پایینتر از اشتغال کامل قرار دارد و ترازپرداخت ها دچار کسری است کدام سیاست برای جبران کسری ترازپرداخت ها موثر است؟

۱. افزایش نرخ ارز
۲. تقویت پول داخلی
۳. کاهش نرخ ارز
۴. افزایش واردات

تعداد سوالات : تستی : ۴۰ تشریحی : ۰ | زمان آزمون (دقیقه) : تستی : ۱۲۰ تشریحی : ۰ | سری سوال : ۱ یک

عنوان درس : اقتصاد کلان (2)،اقتصاد کلان مقدماتی،اقتصاد کلان2،اقتصادکلان 2،اقتصادکلان میانه 2

رشته تحصیلی/کد درس : مهندسی کشاورزی - اقتصادکشاورزی،مهندسی کشاورزی (اقتصادکشاورزی) ۱۱۲۱۰۳۷ - ،علوم اقتصادی (نظری)،علوم اقتصادی،اقتصاد اسلامی ۱۲۲۱۱۲۴ - ،مهندسی کشاورزی - اقتصاد کشاورزی،اقتصاد کشاورزی ۱۲۲۱۲۰۲ - ،اقتصاد اسلامی،علوم اقتصادی گرایش اقتصاداسلامی ۱۲۲۱۲۱۸ - ،اقتصاد۱۲۲۱۳۱۰

۲۵- فرض کنید در یک اقتصاد باز، سیاست پولی ا نبساطی اتخاذ می شود به نظر شما کدامیک از گزینه های ذیل صحیح است؟

۱. سیاست پولی انبساطی حتماً مؤثر است چون به سیستم نرخ ارز ارتباطی ندارد.
۲. منحنی LM و IS در زیر (سمت راست) منحنی BP یکدیگر را قطع کرده و در همان جا ثابت میمانند.
۳. اقتصاد دچار مازاد تراز پرداختها خواهد شد و این موضوع کاملاً بیارتباط به سیستم ارزی کشور است.
۴. تأثیر سیاست پولی کاملاً بستگی به سیستم نرخ ارز دارد و تحت شرایط نرخ ارز ثابت اجرای این سیاست کاملاً بی اثر است.

۲۶- چنانچه منحنی BP عمود بر محور افقی باشد، حساسیت ورود و خروج سرمایه نسبت به نرخ بهره چگونه است؟

۱. بینهایت است. ۲. یک است. ۳. صفر است. ۴. زیاد است.

۲۷- هر آنچه منحنی ..... را کم شیب تر کند منحنی AD را نیز..... میکند.

۱. IS – کم شیب تر ۲. IS پر شیب تر ۳. LM – کم شیب تر ۴. LM – پر شیب تر

۲۸- کاهش شیب تقاضای نیروی کار سبب ..... شیب AS ، افزایش توهم پولی سبب ..... شیب AS میشود.

۱. افزایش – افزایش ۲. افزایش – کاهش ۳. کاهش – افزایش ۴. کاهش – کاهش

۲۹- وضعیتی که در آن چسبندگی قیمتها و دستمزدها وجود ندارد و دستمزدها و قیمتها کاملاً انعطاف پذیر هستند، مربوط به کدام گزینه است؟

۱. حالت کینزی ۲. حالت نئوکینزی ۳. حالت معمولی ۴. حالت کلاسیک

۳۰- کدام گزینه در وضعیت دام نقدینگی مصداق پیدا می کند؟

۱. در حالت دام نقدینگی، منحنی LM افقی است لذا منحنی AD عمودی است.
۲. در حالت دام نقدینگی، کشش تقاضای پول نسبت به نرخ بهره بینهایت است لذا منحنی LM عمودی است.
۳. در حالت دام نقدینگی، کشش تقاضای پول نسبت به نرخ بهره صفر است لذا منحنی AD نیز عمودی است.
۴. در حالت دام نقدینگی، منحنی IS عمودی و در نتیجه منحنی AD نیز عمودی است

۳۱- با فرض اینکه مصرف $C=1000+0/8\,Y_d$ ، مالیات $T=100+0/2Y$ ، سرمایه گذاری $I=400+0/11Y-200r$ ، تقاضای پول $\frac{M^d}{P}=250+0/5Y-400r$ و عرضه ی پول $\bar{M}^S=1600$ با شند، شیب منحنی تقاضای کل در قیمت $P=2$ کدام است؟

۱. -0/00117 ۲. 0/0017 ۳. -0/00125 ۴. 0/00125

تعداد سوالات : تستی : ۴۰ **تشریحی :** ۰ **زمان آزمون (دقیقه) : تستی :** ۱۲۰ **تشریحی :** ۰ **سری سوال :** ۱ یک

عنـــوان درس : اقتصاد کلان (2)،اقتصاد کلان مقدماتی،اقتصاد کلان2،اقتصادکلان 2،اقتصادکلان میانه 2

رشته تحصیلی/کد درس : مهندسی کشاورزی - اقتصادکشاورزی،مهندسی کشاورزی (اقتصادکشاورزی) ۱۱۲۱۰۳۷ - ،علوم اقتصادی (نظری)،علوم اقتصادی،اقتصاد اسلامی ۱۲۲۱۱۲۴ - ،مهندسی کشاورزی - اقتصاد کشاورزی،اقتصاد کشاورزی ۱۲۲۱۲۰۲ - ،اقتصاد اسلامی،علوم اقتصادی گرایش اقتصاداسلامی ۱۲۲۱۲۱۸ - ،اقتصاد۱۲۲۱۳۱۰

۳۲- اگر با تغییر سطح عمومی قیمتها، مقدار عرضه نیروی کار تغییر کند، نیروی کار:

۱. دچار توهم پولی است
۲. دچار توهم پولی ناقص است
۳. دچار توهم پولی کامل است
۴. دچار توهم پولی نیست

۳۳- اگر در مدل کلاسیک عرضه بیشتر از تقاضا باشد، تعادل:

۱. با افزایش عرضه و کاهش تقاضا بوجود می آید
۲. با کاهش عرضه و افزایش تقاضا بوجود می آید
۳. فقط با کاهش عرضه بوجود می آید
۴. فقط با افزایش تقاضا بوجود می آید

۳۴- کدام گزینه زیر ناشی از عدم تطابق بین مهارتهای شغلی و مهارتهای مورد نیاز کارفرمایان است؟

۱. بیکاری طبیعی
۲. بیکاری ساختاری
۳. بیکاری اصطکاکی
۴. بیکاری ادواری

۳۵- کدام گرینه زیر در" تورم رکودی" صحیح است ؟

۱. افزایش در سطح قیمتها همراه با کاهش در تولید حقیقی
۲. باید سیاست پولی و مالی انقباضی اتخاذ کرد
۳. باید سیاست مالی انقباضی اتخاذ کرد
۴. باید سیاست مالی انبساطی اتخاذ کرد

۳۶- هرگاه سطح قیمتها تغییر کند کدام گزینه اتفاق می افتد؟

۱. با حرکت بر روی منحنی تقاضای کل یا AD مقدار تقاضای کل تغییر میکند
۲. منحنی AD به سمت راست جابجا میشود
۳. منحنی AD به سمت چپ جابجا میشود
۴. منحنی AD به سمت پایین و چپ جابجا میشود

تعداد سوالات : تستی : ۴۰ تشریحی : ۰ | زمان آزمون (دقیقه) : تستی : ۱۲۰ تشریحی : ۰ | سری سوال : ۱ یک

عنوان درس : اقتصاد کلان (2)،اقتصاد کلان مقدماتی،اقتصاد کلان2،اقتصادکلان 2،اقتصادکلان میانه 2

رشته تحصیلی/کد درس : مهندسی کشاورزی - اقتصادکشاورزی،مهندسی کشاورزی (اقتصادکشاورزی) ۱۱۲۱۰۳۷ - ،علوم اقتصادی (نظری)،علوم اقتصادی،اقتصاد اسلامی ۱۲۲۱۱۲۴ - ،مهندسی کشاورزی - اقتصاد کشاورزی،اقتصاد کشاورزی ۱۲۲۱۲۰۲ - ،اقتصاد اسلامی،علوم اقتصادی گرایش اقتصاداسلامی ۱۲۲۱۲۱۸ - ،اقتصاد۱۲۲۱۳۱۰

۳۷- نمودار زیر نشاندهنده کدام گزینه است؟

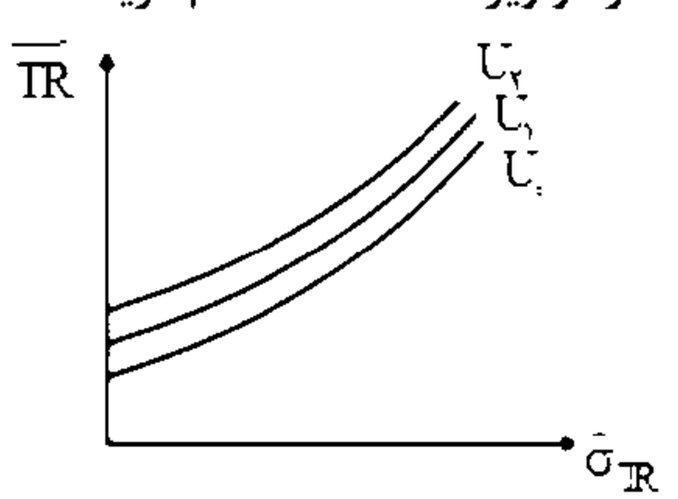

۱. منحنیهای بی تفاوتی برای افراد ریسک پذیر

۲. منحنیهای بی تفاوتی برای افراد بی تفاوت نسبت به ریسک

۳. منحنیهای بیتفاوتی برای افراد ریسک گریز

۴. منحنیهای تولید یکسان

۳۸- زمانی سیاست پولی را خنثی می نامند یا پول را خنثی می دانند که :

۱. بر روی اشتغال و قیمت بی تاثیر باشد
۲. بر روی هیچ متغیر حقیقی تاثیر نداشته باشد
۳. بر روی تولید و قیمت بی تاثیر باشد
۴. بر روی تولید و اشتغال بی تاثیر باشد

۳۹- تابعی که تولید را به صورت تابعی از تفاوت قیمتهای واقعی و انتظاری (یا تورم واقعی و انتظاری) بیان می شود چه نام دارد؟

۱. تابع تقاضای لوکاس
۲. تابع عرضه سی
۳. تابع عرضه لوکاس
۴. تابع تقاضای فیلیپس

۴۰- قیمت گذاری مارک آپ چیست؟

۱. قیمت برابر هزینه نهایی به اضافه درصد حاشیه سود ضربدر هزینه متوسط تولید
۲. قیمت برابر هزینه متوسط به اضافه درصد حاشیه سود ضربدر هزینه نهایی تولید
۳. قیمت برابر هزینه متوسط به اضافه درصد حاشیه سود ضربدر درآمد نهایی
۴. قیمت برابر هزینه متوسط به اضافه درصد حاشیه سود ضربدر هزینه متوسط تولید

1221310 - 00-01-3

وضعیت کلید	پاسخ صحیح	شماره سوال
عادي	ج	1
عادي	ج	2
عادي	د	3
عادي	د	4
عادي	الف	5
عادي	الف	6
عادي	ب	7
عادي	الف	8
عادي	الف	9
عادي	ب	10
عادي	ب	11
عادي	ج	12
عادي	ب	13
عادي	الف	14
عادي	ب	15
عادي	الف	16
عادي	د	17
عادي	ج	18
عادي	د	19
عادي	ب	20
عادي	ب	21
عادي	ب	22
عادي	ب	23
عادي	الف	24
عادي	د	25
عادي	ج	26
عادي	الف	27
عادي	د	28
عادي	د	29
عادي	الف	30
عادي	ج	31
عادي	د	32
عادي	ج	33
عادي	ب	34
عادي	الف	35
عادي	الف	36
عادي	ج	37
عادي	ب	38
عادي	ج	39
عادي	د	40

00-01-2

تعداد سوالات : تستی : ۴۵ تشریحی : ۰ | زمان آزمون (دقیقه) : تستی : ۱۲۰ تشریحی : ۰ | سری سوال : یک ۱

عنوان درس : اقتصاد کلان (2)،اقتصاد کلان مقدماتی،اقتصاد کلان2،اقتصادکلان 2،اقتصادکلان میانه 2

رشته تحصیلی/کد درس : مهندسی کشاورزی - اقتصادکشاورزی،مهندسی کشاورزی (اقتصادکشاورزی) ۱۱۲۱۰۳۷ - ،علوم اقتصادی (نظری)،علوم اقتصادی،اقتصاد اسلامی ۱۲۲۱۱۲۴ - ،مهندسی کشاورزی - اقتصاد کشاورزی،اقتصاد کشاورزی ۱۲۲۱۲۰۲ - ،اقتصاد اسلامی،علوم اقتصادی گرایش اقتصاداسلامی ۱۲۲۱۲۱۸ - ،اقتصاد۱۲۲۱۳۱۰

استفاده از ماشین حساب ساده مجاز است

۱- آن دسته از حسابهای بانکی اشخاص که موجودی آنها به وسیله چک و سایر روش های بانکی برای داد و ستد مورد استفاده قرار می گیرد، چه نام دارد؟

۱. سپرده های دیداری
۲. سپرده های غیر دیداری
۳. شبه پول
۴. نقدینگی

۲- کدام یک از انگیزه های نگهداری پول، ارتباط تنگاتنگی با وظیفه ذخیره ارزش پول دارد؟

۱. مبادلاتی
۲. تورم زدایی
۳. احتیاطی
۴. سفته بازی

۳- اگر $M_t^D = 0/5Y$ ، $M_{sp}^D = 200 - 100r$ و $M^S = 600$ باشد، نرخ بهره تعادلی به ازای درآمدملی 1000 چقدر است؟

۱. یک درصد
۲. دو درصد
۳. سه درصد
۴. چهار درصد

۴- اگر ضریب تکاثر پول و پایه پولی همزمان نصف شوند، عرضه پول چه تغییری می کند؟

۱. افزایش می یابد.
۲. کاهش می یابد.
۳. ثابت می ماند.
۴. نامعین است.

۵- کدام یک از موارد زیر پایه پولی را افزایش می دهد؟

۱. استقراض دولت ازبانک مرکزی
۲. کاهش ذخایر ارزی
۳. فروش اوراق قرضه توسط بانک مرکزی
۴. بازپرداخت بدهی بانک مرکزی توسط دولت

۶- اگر ضریب تکاثر بالقوه پول برابر با 4 باشد، نرخ ذخیره قانونی چه مقدار است؟

۱. 0/25
۲. 4
۳. 0/5
۴. 5

۷- در کدام یک از حالتهای زیر عرضه پول کاهش می یابد؟

۱. کاهش نسبت سکه و اسکناس به سپرده های دیداری
۲. کاهش نرخ ذخیره قانونی
۳. کاهش نرخ ذخیره اضافی بانکها
۴. کاهش پایه پولی

۸- کدام یک از سیاستهای زیر، یک سیاست پولی انقباضی است؟

۱. خرید اوراق قرضه توسط بانک مرکزی
۲. کاهش نرخ تنزیل مجدد
۳. کاهش نرخ ذخیره قانونی
۴. افزایش نرخ ذخیره قانونی

تعداد سوالات : تستی : ۴۵ تشریحی : ۰ | زمان آزمون (دقیقه) : تستی : ۱۲۰ تشریحی : ۰ | سری سوال : ۱ یک

عنوان درس : اقتصاد کلان (2)،اقتصاد کلان مقدماتی،اقتصاد کلان2،اقتصادکلان 2،اقتصادکلان میانه 2

رشته تحصیلی/کد درس : مهندسی کشاورزی - اقتصادکشاورزی،مهندسی کشاورزی (اقتصادکشاورزی) ۱۱۲۱۰۳۷ - ،علوم اقتصادی (نظری)،علوم اقتصادی،اقتصاد اسلامی ۱۲۲۱۱۲۴ - ،مهندسی کشاورزی - اقتصاد کشاورزی،اقتصاد کشاورزی ۱۲۲۱۲۰۲ - ،اقتصاد اسلامی،علوم اقتصادی گرایش اقتصاداسلامی ۱۲۲۱۲۱۸ - ،اقتصاد۱۲۲۱۳۱۰

۹- اگر درآمد ملی افزایش یافته و عرضه پول ثابت باشد، تقاضای معاملاتی و سفته بازی پول چه تغییری می کنند؟

۱. تقاضای معاملاتی پول افزایش و تقاضای سفته بازی پول کاهش می یابد.

۲. تقاضای معاملاتی پول کاهش و تقاضای سفته بازی پول افزایش می یابد.

۳. هم تقاضای معاملاتی و هم تقاضای سفته بازی پول کاهش می یابند.

۴. هم تقاضای معاملاتی و هم تقاضای سفته بازی پول افزایش می یابند.

۱۰- اگر درآمد ملی افزایش یافته و دولت بخواهد نرخ بهره را ثابت نگهدارد، کدام یک از سیاستهای زیر مناسب است؟

۱. کاهش نرخ ذخیره قانونی
۲. افزایش نرخ تنزیل مجدد
۳. فروش اوراق قرضه توسط بانک مرکزی
۴. کاهش سرمایه گذاری

۱۱- بر اساس کدام نظریه، پول صرفا وسیله مبادله است؟

۱. نظریه تقاضای پول مارشال
۲. نظریه تقاضای پول رجحان نقدینگی
۳. نظریه تقاضای سفته بازی توبین
۴. نظریه تقاضای معاملاتی بامول - توبین

۱۲- کدام یک از گزینه های زیر صحیح است؟

۱. تقاضای حقیقی پول از نظر فریدمن با نرخ بهره، نرخ تورم و نرخ بازدهی سهام رابطه مستقیم دارد.

۲. از نظر توبین و بامول تقاضای معاملاتی پول با نرخ بهره رابطه معکوس دارد.

۳. اگر $M^S = 0/2Y$ باشد، سرعت گردش پول برابر با 10 می شود.

۴. دارایی هایی مانند اوراق قرضه در شرایط تورمی وسیله مناسبی برای ذخیره ارزش هستند.

۱۳- اگر عرضه پول 200، سطح قیمت ها برابر با 4 و مقدار تولید برابر با 200 باشد، سرعت گردش پول چند است؟

۱. 4
۲. 10
۳. 8
۴. 20

۱۴- اگر نرخ ذخیره قانونی 20 درصد بوده و 200 واحد پول در اقتصاد سپرده گذاری شود، حجم سپرده ها چه مقدار تغییر می کند؟

۱. 40
۲. 1000
۳. 200
۴. 400

تعداد سوالات : تستی : ۴۵ تشریحی : ۰ | زمان آزمون (دقیقه) : تستی : ۱۲۰ تشریحی : ۰ | سری سوال : ۱ یک

عنوان درس : اقتصاد کلان (2)،اقتصاد کلان مقدماتی،اقتصاد کلان2،اقتصادکلان 2،اقتصادکلان میانه 2

رشته تحصیلی/کد درس : مهندسی کشاورزی - اقتصادکشاورزی،مهندسی کشاورزی (اقتصادکشاورزی) ۱۱۲۱۰۳۷ - ،علوم اقتصادی (نظری)،علوم اقتصادی،اقتصاد اسلامی ۱۲۲۱۱۲۴ - ،مهندسی کشاورزی - اقتصاد کشاورزی،اقتصاد کشاورزی ۱۲۲۱۲۰۲ - ،اقتصاد اسلامی،علوم اقتصادی گرایش اقتصاداسلامی ۱۲۲۱۲۱۸ - ،اقتصاد۱۲۲۱۳۱۰

۱۵- نگهداری کدام یک از ذخایر بانکی الزامی نبوده اما بانکها برای تسویه حساب با همدیگر و پرداخت چکهای بر عهده همدیگر می توانند آن را نگهداری کنند؟

۱. ذخایر قانونی ۲. ذخایر اضافی ۳. ذخایر طلا ۴. خالص ذخایر ارزی

۱۶- کدام گزینه تعریف منحنی IS را به درستی نشان می دهد؟

۱. ترکیبات مختلف نرخ بهره و درآمد حقیقی که به ازای آنها بازار پول درتعادل است.

۲. ترکیبات مختلف نرخ بهره و عرضه پول که به ازای آنها بازارکالا و خدمات درتعادل است.

۳. ترکیبات مختلف عرضه پول و در آمد حقیقی که به ازای آنها بازارکالا و خدمات درتعادل است.

۴. ترکیبات مختلف نرخ بهره و در آمد حقیقی که به ازای آنها بازارکالا و خدمات درتعادل است.

۱۷- اگر تابع مصرف و سرمایه گذاری به ترتیب به صورت $C=48+0/8Y$ و $I=98-75r$ باشد، کدام یک از گزینه های زیر نشانگر منحنی IS است؟

۱. $Y=400+75r$ ۲. $Y=730-375r$ ۳. $Y=400-75r$ ۴. $Y=730+375r$

۱۸- اگر توابع مصرف و سرما یه گذاری به صورت $C=48+0/8Y$ و $I=98-75r$ بوده و مصرف مستقل 10 واحد افزایش یابد، در این صورت تابع IS به چه صورت در می آید؟

۱. $Y=400-375r$ ۲. $Y=780-375r$ ۳. $Y=780-385r$ ۴. $Y=740-385r$

۱۹- اگر شیب منحنی سرمایه گذاری صفر باشد، شیب منحنی IS چگونه خواهد بود؟

۱. به صورت افقی و دارای شیب صفر ۲. به صورت عمودی و دارای شیب بی نهایت

۳. دارای شیب منفی ولی نسبتا ملایم ۴. دارای شیب منفی ولی نسبتا تند

۲۰- اگر نرخ مالیات افزایش یابد،منحنی IS چگونه تغییر می کند؟

۱. انتقال موازی به سمت راست ۲. انتقال غیر موازی به سمت راست

۳. انتقال موازی به سمت چپ ۴. انتقال غیر موازی به سمت چپ

۲۱- چنانچه نقطه تعادل $IS-LM$ در سمت راست منحنی تراز پرداخت ها (BP) قرار داشته باشد، کدام وضعیت در اقتصاد باز برقرار است؟

۱. تعادل بازار ارز ۲. مازاد عرضه ارز

۳. مازاد تقاضای ارز ۴. تعادل داخلی با مازاد تراز پرداختها

تعداد سوالات : تستی : ۴۵ تشریحی : ۰ | زمان آزمون (دقیقه) : تستی : ۱۲۰ تشریحی : ۰ | سری سوال : ۱ یک

عنوان درس : اقتصاد کلان (2)،اقتصاد کلان مقدماتی،اقتصاد کلان2،اقتصادکلان 2،اقتصادکلان میانه 2

رشته تحصیلی/کد درس : مهندسی کشاورزی - اقتصادکشاورزی،مهندسی کشاورزی (اقتصادکشاورزی) ۱۱۲۱۰۳۷ - ،علوم اقتصادی (نظری)،علوم اقتصادی،اقتصاد اسلامی ۱۲۲۱۱۲۴ - ،مهندسی کشاورزی - اقتصاد کشاورزی،اقتصاد کشاورزی ۱۲۲۱۲۰۲ - ،اقتصاد اسلامی،علوم اقتصادی گرایش اقتصاداسلامی ۱۲۲۱۲۱۸ - ،اقتصاد۱۲۲۱۳۱۰

۲۲- اگر در بازار کالا، نشت (تراوش) برابر با تزریق باشد، در این صورت: .....

۱. روی منحنی IS قرار داریم.
۲. روی منحنی LM قرار داریم.
۳. بالای منحنی IS قراردایم.
۴. بازار پول درتعادل است.

۲۳- در یک مدل دوبخشی اگر $I > S$ باشد، در این صورت: .....

۱. در پایین منحنی IS قرار داریم.
۲. در بالای منحنی IS قرار داریم.
۳. روی منحنی IS قرار داریم.
۴. نمی توان تعیین کرد.

۲۴- منحنی LM بیانگر ترکیب هایی از درآمد ملی و نرخ بهره است که؛

۱. بخش کالایی اقتصاد را به تعادل می رساند.
۲. بخش پولی اقتصاد را به تعادل می رساند.
۳. کل اقتصاد را به تعادل می رساند.
۴. تجارت خارجی را به تعادل می رساند.

۲۵- اگر مردم 20 درصد از درآمد ملی را برای امور معاملاتی و احتیاطی به صورت نقد نگه داری کنند و ضریب نرخ بهره در تابع تقاضای سفته بازی نیز 200- باشد،آنگاه شیب منحنی LM برابر است با:

۱. 1000
۲. 0/001
۳. -200
۴. 0/2

۲۶- اگر تقاضای معاملاتی و احتیاطی پول $M_t = 0/25Y$ ،تقاضای سفته بازی پول $M_{sp} = 124 - 200r$ و عرضه پول $M^S = 300$ باشد، معادله LM کدام است؟

۱. $Y = 704 + 800r$
۲. $Y = 800 + 704r$
۳. $Y = 704 - 800r$
۴. $Y = 704 + 200r$

۲۷- تغییر کدام یک از موارد زیر عرض از مبدا و شیب تابع LM را تغییر می دهد؟

۱. ضریب تقاضای سفته بازی نسبت به نرخ بهره
۲. ضریب تقاضای معاملاتی پول
۳. افزایش سطح عمومی قیمت ها
۴. کاهش عرضه پول

۲۸- کدام گزینه منجر به افزایش شیب منحنی BP می شود؟

۱. افزایش حساسیت خالص صادرات نسبت به درآمد.
۲. افزایش حساسیت ورود خالص سرمایه به نرخ بهره.
۳. افزایش نرخ بهره رایج در جهان.
۴. افزایش سطح عمومی قیمت ها در داخل .

تعداد سوالات : تستی : ۴۵ **تشریحی :** ۰ **زمان آزمون (دقیقه) : تستی :** ۱۲۰ **تشریحی :** ۰ **سری سوال :** ۱ یک

عنـــوان درس : اقتصاد کلان (2)،اقتصاد کلان مقدماتی،اقتصاد کلان2،اقتصادکلان 2،اقتصادکلان میانه 2

رشته تحصیلی/کد درس : مهندسی کشاورزی - اقتصادکشاورزی،مهندسی کشاورزی (اقتصادکشاورزی) ۱۱۲۱۰۳۷ - ،علوم اقتصادی (نظری)،علوم اقتصادی،اقتصاد اسلامی ۱۲۲۱۱۲۴ - ،مهندسی کشاورزی - اقتصاد کشاورزی،اقتصاد کشاورزی ۱۲۲۱۲۰۲ - ،اقتصاد اسلامی،علوم اقتصادی گرایش اقتصاداسلامی ۱۲۲۱۲۱۸ - ،اقتصاد۱۲۲۱۳۱۰

۲۹- در کدام یک از حالت های زیر LM به سمت راست انتقال می یابد؟

۱. کاهش نرخ ذخیره قانونی
۲. کاهش پایه پولی
۳. افزایش سطح عمومی قیمت ها
۴. کاهش نرخ بهره

۳۰- فرض کنید تابع تقاضای معاملاتی پول به سمت بالا چرخش نماید. در این صورت؛

۱. منحنی IS به سمت چپ می چرخد.
۲. منحنی LM به سمت چپ می چرخد.
۳. منحنی LM به سمت راست می چرخد.
۴. منحنی IS به سمت راست می چرخد.

۳۱- منحنی تقاضای کل، رابطه بین کدام متغیرها را نشان می دهد؟

۱. تقاضای کل و سطح عمومی قیمت ها
۲. تقاضای کل و نرخ بهره
۳. تقاضای کل و سرمایه گذاری
۴. تقاضای کل و نرخ ارز

۳۲- کدام یک از موارد زیر باعث انتقال منحنی تقاضای کل به سمت راست می شود؟

۱. کاهش سرمایه گذاری مستقل
۲. کاهش مالیات مستقل
۳. افزایش واردات مستقل
۴. کاهش سطح عمومی قیمت ها

۳۳- اگر مخارج دولت و مالیات به یک اندازه کاهش یابد، منحنی تقاضای کل به چه صورت خواهد بود؟

۱. تغییر نمی کند.
۲. به سمت چپ منتقل می شود.
۳. به سمت راست منتقل می شود.
۴. به حالت افقی نزدیک می شود.

۳۴- اگر میل نهایی به مصرف افزایش یابد، شیب منحنی تقاضای کل .....

۱. ملایم می شود.
۲. تندتر می شود.
۳. تغییر نمی کند.
۴. افزایش یافته و منحنی به سمت راست انتقال پیدا می کند.

تعداد سوالات : تستی : ۴۵ تشریحی : ۰ | زمان آزمون (دقیقه) : تستی : ۱۲۰ تشریحی : ۰ | سری سوال : ۱ یک

عنوان درس : اقتصاد کلان (2)،اقتصاد کلان مقدماتی،اقتصاد کلان2،اقتصادکلان 2،اقتصادکلان میانه 2

رشته تحصیلی/کد درس : مهندسی کشاورزی - اقتصادکشاورزی،مهندسی کشاورزی (اقتصادکشاورزی) ۱۱۲۱۰۳۷ - ،علوم اقتصادی (نظری)،علوم اقتصادی،اقتصاد اسلامی ۱۲۲۱۱۲۴ - ،مهندسی کشاورزی - اقتصاد کشاورزی،اقتصاد کشاورزی ۱۲۲۱۲۰۲ - ،اقتصاد اسلامی،علوم اقتصادی گرایش اقتصاداسلامی ۱۲۲۱۲۱۸ - ،اقتصاد۱۲۲۱۳۱۰

۳۵- کدام گزینه نادرست است؟

۱. هر عاملی که IS را به حالت عمودی نزدیک کند، AD را نیز به حالت عمودی نزدیک می کند.

۲. هر عاملی که IS را به حالت افقی نزدیک کند، AD را نیز به حالت افقی نزدیک می کند.

۳. هر عاملی که LM را به حالت عمودی نزدیک کند، AD را نیز به حالت افقی نزدیک می کند.

۴. اگر LM عمودی باشد، AD افقی نمی باشد ولی اگر IS عمودی باشد، AD نیز عمودی می باشد.

۳۶- منحنی تقاضای کل در کدام یک از موارد زیر کاملاً عمودی است؟

۱. IS عمودی باشد.
۲. LM افقی باشد.
۳. LM و IS شیب منفی داشته باشند.
۴. وقتی IS عمودی باشد. و LM افقی باشد.

۳۷- اگر اقتصاد در دام نقدینگی باشد، منحنی تقاضای کل به چه صورت است؟

۱. افقی
۲. عمودی
۳. شیب منفی دارد.
۴. شیب مثبت دارد.

۳۸- کدام یک از گزینه های زیر نادرست است؟

۱. تورم ناشی از افزایش دستمزدها تورم فشار هزینه است.
۲. تورم ناشی از افزایش مخارج دولت، تورم فشار تقاضا است.
۳. عواملی که باعث انتقال منحنی عرضه کل به سمت چپ شود، باعث تورم رکودی می گردد.
۴. تورم ناشی از فشار هزینه همراه با افزایش تولید می باشد.

۳۹- در فرآیند تعدیل تراز پرداخت ها در سیستم نرخ ارز شناور، کاهش نرخ ارز منجر به کدام تغییر می گردد؟

۱. انتقال منحنی IS به سمت راست
۲. انتقال منحنی BP به سمت راست
۳. تقویت پول داخلی
۴. افزایش صادرات

۴۰- نوعی از بیکاری که در آن یک فرد شغل خود را به امید یافتن شغل بهتری رها می کند، چه نام دارد؟

۱. بیکاری طبیعی
۲. بیکاری ساختاری
۳. بیکاری اصطکاکی
۴. بیکاری سیکلی

۴۱- بیکاری که به علت عدم تطابق بین مهارت های شغلی و مهارت های مورد نیاز کارفرمایان ایجاد می شود، چه نام دارد؟

۱. بیکاری ادواری
۲. بیکاری ساختاری
۳. بیکاری طبیعی
۴. بیکاری اصطکاکی

تعداد سوالات : تستی : ۴۵ **تشریحی :** ۰ **زمان آزمون (دقیقه) : تستی :** ۱۲۰ **تشریحی :** ۰ **سری سوال :** ۱ یک

عنـــوان درس : اقتصاد کلان (2)،اقتصاد کلان مقدماتی،اقتصاد کلان2،اقتصادکلان 2،اقتصادکلان میانه 2

رشته تحصیلی/کد درس : مهندسی کشاورزی - اقتصادکشاورزی،مهندسی کشاورزی (اقتصادکشاورزی) ۱۱۲۱۰۳۷ - ،علوم اقتصادی (نظری)،علوم اقتصادی،اقتصاد اسلامی ۱۲۲۱۱۲۴ - ،مهندسی کشاورزی - اقتصاد کشاورزی،اقتصاد کشاورزی ۱۲۲۱۲۰۲ - ،اقتصاد اسلامی،علوم اقتصادی گرایش اقتصاداسلامی ۱۲۲۱۲۱۸ - ،اقتصاد۱۲۲۱۳۱۰

۴۲- در شرایط رکود اقتصادی، کدام یک از بیکاری های زیر به وجود می آید؟

۱. سیکلی ۲. ساختاری ۳. طبیعی ۴. اصطکاکی

۴۳- اگر تعداد بیکاران برابر با 200 و تعداد شاغلین برابر با 800 باشد، نرخ بیکاری برابر با چند درصد است؟

۱. 30 درصد ۲. 20 درصد ۳. 25 درصد ۴. 10 درصد

۴۴- برای مبارزه با بیکاری ساختاری کدام یک از سیاست های زیر مورد استفاده قرار می گیرد؟

۱. کاهش مالیات ها ۲. کارآموزی بیکاران ۳. افزایش عرضه پول ۴. افزایش دستمزدها

۴۵- اگر روی منحنی فیلیپس نزولی به سمت چپ و بالا حرکت کنیم،کدام یک از سیاست های زیر اتخاذ شده است؟

۱. افزایش مالیات ها
۲. افزایش نرخ ذخیره قانونی
۳. افزایش هزینه های تولیدی
۴. افزایش مخارج دولتی

1221310 - 00-01-2

شماره سوال	پاسخ صحیح	وضعیت کلید
1	لی	عادی
2	د	عادی
3	لی.ب.ج.د	عادی
4	ب	عادی
5	لی	عادی
6	لی	عادی
7	د	عادی
8	د	عادی
9	لی	عادی
10	لی	عادی
11	لی	عادی
12	ب	عادی
13	لی	عادی
14	ب	عادی
15	ب	عادی
16	د	عادی
17	ب	عادی
18	ب	عادی
19	لی	عادی
20	لی.ب.ج.د	عادی
21	ج	عادی
22	لی	عادی
23	لی	عادی
24	ب	عادی
25	ب	عادی
26	لی	عادی
27	لی	عادی
28	لی	عادی
29	لی.ب.ج.د	عادی
30	ب	عادی
31	لی	عادی
32	ب	عادی
33	ب	عادی
34	لی.ب.ج.د	عادی
35	ج	عادی
36	د	عادی
37	ب	عادی
38	د	عادی
39	ج	عادی
40	ج	عادی
41	ب	عادی
42	لی	عادی
43	ب	عادی
44	ب	عادی
45	د	عادی

98-99-3

تعداد سوالات : تستی : ۴۰ **تشریحی :** ۰ | **زمان آزمون (دقیقه) : تستی :** ۹۰ **تشریحی :** ۰ | **سری سوال :** یک ۱

عنـــوان درس : اقتصاد کلان (2)،اقتصاد کلان مقدماتی،اقتصاد کلان2،اقتصادکلان 2،اقتصادکلان میانه 2

رشته تحصیلی/کد درس : مهندسی کشاورزی - اقتصادکشاورزی،مهندسی کشاورزی (اقتصادکشاورزی) ۱۱۲۱۰۳۷ - ،علوم اقتصادی (نظری)،علوم اقتصادی،اقتصاد اسلامی ۱۲۲۱۱۲۴ - ،اقتصاد کشاورزی،مهندسی کشاورزی - اقتصاد کشاورزی ۱۲۲۱۲۰۲ - ،اقتصاد اسلامی،علوم اقتصادی گرایش اقتصاداسلامی ۱۲۲۱۲۱۸ - ،اقتصاد۱۲۲۱۳۱۰

استفاده از ماشین حساب ساده مجاز است

۱- منظور از شبه پول در تعریف M_2 پول کدام است؟

۱. سپرده های دیداری
۲. سپرده های غیردیداری
۳. مجموع سپرده های دیداری و غیردیداری
۴. مجموع سپرده های دیداری و اسکناس و مسکوک در دست مردم

۲- تفاوت نظریه تقاضای سفته بازی توبین با نظریه تقاضای کینز چیست؟

۱. عدم نیاز به تفکیک تقاضای پول به دو بخش معاملاتی و سفته بازی در نظریه تقاضای سفته بازی توبین
۲. رابطه مستقیم تقاضای سفته بازی پول با نرخ بهره در نظریه تقاضای سفته بازی توبین
۳. وجود ریسک و نااطمینانی در خصوص بازدهی اوراق قرضه در نظریه تقاضای سفته بازی توبین
۴. کینز با بازنگری در تقاضای پول در مقایسه با نظریه تقاضای سفته بازی توبین، نظریه کامل تری ارائه کرد.

۳- اگر نرخ بهره اوراق قرضه 15 درصد و نرخ بهره انتظاری 10 درصد باشد، درصد بازدهی اوراق قرضه چقدر خواهد بود؟

۱. 5 درصد ۲. 25 درصد ۳. 50 درصد ۴. 65 درصد

۴- تقاضای پول بر اساس کدام نظریه علاوه بر درآمد و نرخ بهره،به هزینه کارمزد بانکی نیز وابسته است؟

۱. نظریه رجحان نقدینگی
۲. نظریه تقاضای پول کمبریج
۳. نظریه تقاضای معاملاتی بامول - توبین
۴. نظریه تقاضای پول فریدمن

۵- پول هایی مثل طلا و نقره یا فلفل و نمک که دارای ارزش ذاتی نیز هستند،چه نامیده می شوند؟

۱. پول کالایی ۲. پول اعتباری ۳. پول حکمی ۴. پول فلزی

۶- اگر نسبت سکه و اسکناس به حجم سپرده های دیداری برابر 0.2 و نرخ ذخیره قانونی برابر 0.15 و نرخ ذخایر اضافی برابر 0.05 بوده و پایه پولی معادل 100 واحد باشد،مقدار حجم پول و حجم سپرده های دیداری به ترتیب چقدر خواهد بود؟

۱. $DD=250\ ,\ M^S=300$
۲. $DD=200\ ,\ M^S=250$
۳. $DD=50\ ,\ M^S=250$
۴. $DD=200\ ,\ M^S=300$

تعداد سوالات : تستی : ۴۰ تشریحی : ۰ | زمان آزمون (دقیقه) : تستی : ۹۰ تشریحی : ۰ | سری سوال : ۱ یک

عنوان درس : اقتصاد کلان (2)،اقتصاد کلان مقدماتی،اقتصاد کلان2،اقتصادکلان 2،اقتصادکلان میانه 2

رشته تحصیلی/کد درس : مهندسی کشاورزی - اقتصادکشاورزی،مهندسی کشاورزی (اقتصادکشاورزی) ۱۱۲۱۰۳۷ - ،علوم اقتصادی (نظری)،علوم اقتصادی،اقتصاد اسلامی ۱۲۲۱۱۲۴ - ،اقتصاد کشاورزی،مهندسی کشاورزی - اقتصاد کشاورزی ۱۲۲۱۲۰۲ - ،اقتصاد اسلامی،علوم اقتصادی گرایش اقتصاداسلامی ۱۲۲۱۲۱۸ - ،اقتصاد۱۲۲۱۳۱۰

۷- کدام گزینه منجر به افزایش پایه پولی نمی گردد؟

۱. افزایش وام ها و اعتبارات اعطایی بانک مرکزی به بانک های تجاری

۲. افزایش مطالبات دولت از بانک مرکزی

۳. افزایش خالص ذخایر ارزی و طلای بانک مرکزی

۴. افزایش اوراق قرضه دولتی نزد بانک مرکزی

۸- تعریف منحنی LM کدام است؟

۱. مکان هندسی ترکیباتی از قیمت و درآمد ملی که به ازای آنها بازار پول در تعادل است.

۲. مکان هندسی ترکیباتی از قیمت و درآمد ملی که به ازای آنها بازار کالا و خدمات در تعادل است.

۳. مکان هندسی ترکیباتی از نرخ بهره و درآمد ملی که به ازای آنها بازار پول در تعادل است.

۴. مکان هندسی ترکیباتی از نرخ بهره و قیمت که به ازای آنها بازار پول در تعادل است.

۹- در نقاط سمت راست و پایین منحنی LM چه وضعیتی برقرار است؟

۱. مازاد عرضه پول
۲. مازاد تقاضای پول
۳. تعادل بازار پول
۴. مازاد عرضه کالا و خدمات

۱۰- افزایش تقاضای مستقل پول $(\overline{L})$ ، منجر به چه تغییری در منحنی LM می شود؟

۱. انتقال به سمت چپ
۲. انتقال به سمت راست
۳. افزایش شیب
۴. کاهش شیب

۱۱- کدام یک از تغییرات زیر منجر به انتقال منحنی IS به سمت چپ می شود؟

۱. کاهش مالیات ها
۲. افزایش مخارج دولتی
۳. کاهش پرداخت های انتقالی
۴. افزایش مصرف مستقل

۱۲- تابع مصرف به صورت $C = 80 + 0.75 y_d$ ، سرمایه گذاری $I = 400 - 200r$ ، مخارج دولتی معادل $G = 300$ واحد و مالیات به صورت $T = 50 + 0.2y$ مفروض است. مقدار جابجایی عمودی منحنی IS در صورت افزایش مخارج دولتی به میزان 100 واحد چقدر خواهد بود؟

۱. 133
۲. 227
۳. 0.2
۴. 0.5

تعداد سوالات : تستی : ۴۰ تشریحی : ۰ | زمان آزمون (دقیقه) : تستی : ۹۰ تشریحی : ۰ | سری سوال : ۱ یک

عنوان درس : اقتصاد کلان (2)،اقتصاد کلان مقدماتی،اقتصاد کلان2،اقتصادکلان 2،اقتصادکلان میانه 2

رشته تحصیلی/کد درس : مهندسی کشاورزی - اقتصادکشاورزی،مهندسی کشاورزی (اقتصادکشاورزی) ۱۱۲۱۰۳۷ - ،علوم اقتصادی (نظری)،علوم اقتصادی،اقتصاد اسلامی ۱۲۲۱۱۲۴ - ،اقتصاد کشاورزی،مهندسی کشاورزی - اقتصاد کشاورزی ۱۲۲۱۲۰۲ - ،اقتصاد اسلامی،علوم اقتصادی گرایش اقتصاداسلامی ۱۲۲۱۲۱۸ - ،اقتصاد۱۲۲۱۳۱۰

۱۳- با توجه به نمودار زیر، در نقطه A چه وضعیتی برقرار است؟

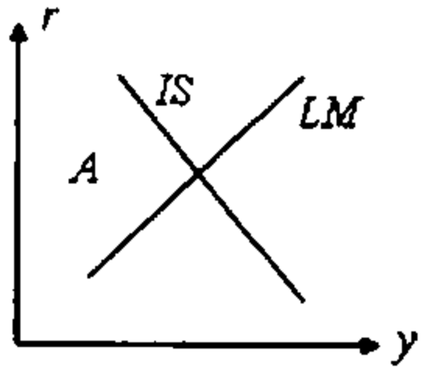

۱. مازاد تقاضای کالا و خدمات - مازاد عرضه پول
۲. مازاد عرضه کالا و خدمات - مازاد تقاضای پول
۳. مازاد تقاضای کالا و خدمات - مازاد تقاضای پول
۴. مازاد عرضه کالا و خدمات - مازاد عرضه پول

۱۴- منحنی های IS و LM را به طور همزمان در یک نمودار در نظر گرفته و فرم حل شده $IS-LM$ را به صورت $y=\frac{\bar{C}-c\bar{T}+c\bar{TR}+\bar{I}+\bar{G}+\frac{b}{h}\frac{\bar{M}^s}{p}-\frac{b}{h}\bar{L}}{1-c(1-t)+\frac{bk}{h}}$ به دست می آوریم. اگر با اعمال یک سیاست مالی انبساطی، منحنی IS به سمت راست جابجا شده و در نتیجه درآمد ملی معادل 100 واحد افزایش یابد،با فرض منحنی LM به صورت $\frac{\bar{M}^s}{p}=0.4\,y-200r$ مقدار افزایش نرخ بهره چقدر خواهد بود؟

۱. 0.1
۲. 0.2
۳. 0.3
۴. 0.4

۱۵- اجرای همزمان سیاست پولی انقباضی و مالی انبساطی برای رسیدن به چه هدفی است؟

۱. ثبات نرخ بهره و افزایش درآمد ملی
۲. ثبات نرخ بهره و کاهش درآمد ملی
۳. کاهش نرخ بهره و ثبات درآمد ملی
۴. افزایش نرخ بهره و ثبات درآمد ملی

۱۶- در صورت اعمال سیاست مالی انقباضی و سیاست پولی انبساطی، درآمد ملی تعادلی چگونه تغییر می کند؟

۱. افزایش می یابد.
۲. کاهش می یابد.
۳. ثابت می ماند.
۴. هر سه حالت ممکن است.

۱۷- در کدام یک از حالت های زیر،سیاست مالی دارای بیشترین اثرگذاری است؟

۱. IS عمودی و LM افقی
۲. IS افقی و LM عمودی
۳. IS افقی و LM افقی
۴. IS عمودی و LM عمودی

تعداد سوالات : تستی : ۴۰ تشریحی : ۰ | زمان آزمون (دقیقه) : تستی : ۹۰ تشریحی : ۰ | سری سوال : ۱ یک

عنوان درس: اقتصاد کلان (2)،اقتصاد کلان مقدماتی،اقتصاد کلان2،اقتصادکلان 2،اقتصادکلان میانه 2

رشته تحصیلی/کد درس: مهندسی کشاورزی - اقتصادکشاورزی،مهندسی کشاورزی (اقتصادکشاورزی) ۱۱۲۱۰۳۷ - ،علوم اقتصادی (نظری)،علوم اقتصادی،اقتصاد اسلامی ۱۲۲۱۱۲۴ - ،اقتصاد کشاورزی،مهندسی کشاورزی - اقتصاد کشاورزی ۱۲۲۱۲۰۲ - ،اقتصاد اسلامی،علوم اقتصادی گرایش اقتصاداسلامی ۱۲۲۱۲۱۸ - ،اقتصاد۱۲۲۱۳۱۰

۱۸- کدام یک از تغییرات زیر، موجب افزایش کارایی هر دو سیاست پولی و مالی می شود؟

۱. کاهش میل نهایی به مصرف (C)
۲. کاهش ضریب نرخ بهره در تابع سرمایه گذاری (b)
۳. کاهش ضریب نرخ بهره در تابع تقاضای پول (h)
۴. کاهش ضریب درآمدی در تابع تقاضای پول (k)

۱۹- کدام گزینه صحیح است؟

۱. هر چه شیب منحنی LM کمتر باشد،تأثیر سیاست پولی بیشتر است.
۲. هر آن چه که ضریب تکاثری مدل ساده کینزی را افزایش دهد، شیب IS را کم می کند.
۳. هر چه سرمایه گذاری نسبت به نرخ بهره کم کشش تر باشد، شیب IS نیز کمتر خواهد شد.
۴. در شرایط دام نقدینگی سیاست پولی دارای بیشترین تأثیرگذاری است.

۲۰- در حالت کینزی جابه جایی تقاضای کل:

۱. بر اشتغال اثر گذار نیست
۲. متغیرهای حقیقی را می تواند تغییر دهد
۳. فقط متغیرهای اسمی را تغییر می دهد
۴. بر تولید اثر گذار نیست

۲۱- شیب منحنی عرضه کل از دیدگاه کینزین ها چگونه است؟

۱. صعودی است.
۲. نزولی است.
۳. عمودی است.
۴. همیشه صفر است.

۲۲- کدام یک از روابط زیر، بیانگر تعادل تراز پرداخت ها می باشد؟

۱. $IM + EX = CIN + COU$
۲. $IM + CIN = EX + COU$
۳. $IM + COU = EX + CIN$
۴. $BP = NX + NCIN$

۲۳- در نقاط سمت چپ و بالای منحنی BP چه وضعیتی برقرار است؟

۱. مازاد عرضه ارز
۲. مازاد تقاضای ارز
۳. تعادل بازار ارز
۴. هر سه حالت ممکن است.

۲۴- شیب منحنی LM برای اقتصاد باز در مقایسه با اقتصاد بسته چگونه تغییر می کند؟

۱. افزایش می یابد.
۲. کاهش می یابد.
۳. تغییر نمی کند.
۴. بستگی به اعمال سیاست های پولی و ارزی دارد.

تعداد سوالات : تستی : ۴۰ تشریحی : ۰ | زمان آزمون (دقیقه) : تستی : ۹۰ تشریحی : ۰ | سری سوال : ۱ یک

عنوان درس : اقتصاد کلان (2)،اقتصاد کلان مقدماتی،اقتصاد کلان2،اقتصادکلان 2،اقتصادکلان میانه 2

رشته تحصیلی/کد درس : مهندسی کشاورزی - اقتصادکشاورزی،مهندسی کشاورزی (اقتصادکشاورزی) ۱۱۲۱۰۳۷ - ،علوم اقتصادی (نظری)،علوم اقتصادی،اقتصاد اسلامی ۱۲۲۱۱۲۴ - ،اقتصاد کشاورزی،مهندسی کشاورزی - اقتصاد کشاورزی ۱۲۲۱۲۰۲ - ،اقتصاد اسلامی،علوم اقتصادی گرایش اقتصاداسلامی ۱۲۲۱۲۱۸ - ،اقتصاد۱۲۲۱۳۱۰

۲۵- کدام یک از تغییرات زیر منجر به افزایش صادرات می گردد؟

۱. افزایش سطح قیمت های داخلی
۲. افزایش نرخ ارز
۳. کاهش درآمد ملی کشور خارجی
۴. کاهش سطح قیمت های کشور خارجی

۲۶- در اقتصادی با فرض ثابت بودن سطح قیمت های داخلی و خارجی و تحرک پذیری کامل سرمایه؛

۱. در شرایط نرخ ارز شناور، سیاست پولی انبساطی موجب تضعیف پول داخلی می شود.
۲. در شرایط نرخ ارز ثابت، سیاست مالی انبساطی بر سطح تولید بی تأثیر است.
۳. در شرایط نرخ ارز ثابت، سیاست پولی دارای کارایی و اثر قابل توجهی بر y است.
۴. در شرایط نرخ ارز شناور، سیاست پولی انبساطی بر سطح تولید بی تأثیر است..

۲۷- فرض کنید معادلات عرضه و تقاضای نیروی کار به ترتیب به صورت $\frac{W}{P}=\frac{10}{P}+2N$ **و** $\frac{W}{P}=97-4N$ **و تابع عرضه کل به صورت** $P=2+0.001y$ **بوده و منحنی** LM **در نرخ بهره** 0.5 **افقی باشد. همچنین تابع مصرف به صورت** $C=1600+0.75y$ **، تابع سرمایه گذاری به صورت** $I=250-100r$ **و مخارج دولتی معادل** $G=200$ **باشد. در این صورت درآمد ملی حقیقی و دستمزد اسمی تعادلی به ترتیب برابر است با؛**

۱. $W=423\ ,\ y=4000$
۲. $W=423\ ,\ y=4125$
۳. $W=330\ ,\ y=8125$
۴. $W=330\ ,\ y=8000$

۲۸- کدام یک از تغییرات زیر منجر به کاهش شیب منحنی عرضه کل می گردد؟

۱. کاهش شیب تابع تولید
۲. کاهش شیب منحنی تقاضای نیروی کار
۳. افزایش شیب منحنی عرضه نیروی کار
۴. کاهش درجه چسبندگی دستمزد و قیمت

۲۹- شیب منحنی عرضه کل در کدام یک از حالت های زیر صفر است؟

۱. در حالت چسبندگی قیمت و توهم پولی کامل
۲. در حالت چسبندگی قیمت و توهم پولی ناقص
۳. در حالت چسبندگی دستمزد صرفا به سمت پایین و عدم توهم پولی
۴. در حالت چسبندگی قیمت و ظرفیت بیکار تولید

تعداد سوالات : تستی : ۴۰ تشریحی : ۰ | زمان آزمون (دقیقه) : تستی : ۹۰ تشریحی : ۰ | سری سوال : ۱ یک

عنوان درس : اقتصاد کلان (2)،اقتصاد کلان مقدماتی،اقتصاد کلان2،اقتصادکلان 2،اقتصادکلان میانه 2

رشته تحصیلی/کد درس : مهندسی کشاورزی - اقتصادکشاورزی،مهندسی کشاورزی (اقتصادکشاورزی) ۱۱۲۱۰۳۷ - ،علوم اقتصادی (نظری)،علوم اقتصادی،اقتصاد اسلامی ۱۲۲۱۱۲۴ - ،اقتصاد کشاورزی،مهندسی کشاورزی - اقتصاد کشاورزی ۱۲۲۱۲۰۲ - ،اقتصاد اسلامی،علوم اقتصادی گرایش اقتصاداسلامی ۱۲۲۱۲۱۸ - ،اقتصاد۱۲۲۱۳۱۰

۳۰- کدام گزینه بیانگر اثر پیگو در استدلال نزولی بودن منحنی تقاضای کل است؟

۱. افزایش تقاضای کل ⇒ افزایش مصرف ⇒ افزایش ثروت حقیقی ⇒ افزایش قدرت خرید پول ⇒ کاهش قیمت

۲. افزایش تقاضای کل ⇒ افزایش سرمایه گذاری ⇒ کاهش نرخ بهره ⇒ افزایش عرضه حقیقی پول ⇒ کاهش قیمت

۳. افزایش تقاضای کل ⇒ افزایش سرمایه گذاری ⇒ کاهش نرخ بهره ⇒ کاهش عرضه حقیقی پول ⇒ کاهش قیمت

۴. افزایش تقاضای کل ⇒ افزایش صادرات و کاهش واردات ⇒ کاهش قیمت

۳۱- کدام یک از تغییرات زیر منجر به کاهش شیب منحنی تقاضای کل می گردد؟

۱. کاهش ضریب نرخ بهره در تابع سرمایه گذاری (b)

۲. افزایش نرخ مالیاتی (t)

۳. افزایش میل نهایی به مصرف (c)

۴. افزایش ضریب درآمدی در تابع تقاضای پول (k)

۳۲- کدام گزینه در خصوص رابطه شیب منحنی های IS و LM با شیب منحنی تقاضای کل صحیح است؟

۱. هر آن چه منحنی IS را کم شیب تر کند منحنی AD را پرشیب تر و هر آن چه منحنی LM را کم شیب تر کند، منحنی AD را نیز کم شیب تر می کند.

۲. هر آن چه منحنی IS را کم شیب تر کند، منحنی AD را نیز کم شیب تر و هر آن چه منحنی LM را پرشیب تر کند، منحنی AD را کم شیب تر می کند.

۳. هر آن چه منحنی های IS و LM را کم شیب تر کند، منحنی AD را نیز کم شیب تر می کند.

۴. هر آن چه منحنی های IS و LM را پرشیب تر کند، منحنی AD را کم شیب تر می کند.

۳۳- شیب منحنی تقاضای کل در صورتی که سرمایه گذاری نسبت به نرخ بهره کاملا کشش پذیر باشد، چگونه است؟

۱. افقی ۲. عمودی ۳. نزولی ۴. صعودی

۳۴- منحنی فیلیپس اولیه بیانگر کدام رابطه است؟

۱. رابطه مستقیم نرخ بیکاری و نرخ تورم

۲. رابطه معکوس نرخ بیکاری و نرخ تورم

۳. رابطه مستقیم نرخ بیکاری و نرخ رشد دستمزدها

۴. رابطه معکوس نرخ بیکاری و نرخ رشد دستمزدها

تعداد سوالات : تستی : ۴۰ تشریحی : ۰ | زمان آزمون (دقیقه) : تستی : ۹۰ تشریحی : ۰ | سری سوال : ۱ یک

عنوان درس : اقتصاد کلان (2)،اقتصاد کلان مقدماتی،اقتصاد کلان2،اقتصادکلان 2،اقتصادکلان میانه 2

رشته تحصیلی/کد درس : مهندسی کشاورزی - اقتصادکشاورزی،مهندسی کشاورزی (اقتصادکشاورزی) ۱۱۲۱۰۳۷ - ،علوم اقتصادی (نظری)،علوم اقتصادی،اقتصاد اسلامی ۱۲۲۱۱۲۴ - ،اقتصاد کشاورزی،مهندسی کشاورزی - اقتصاد کشاورزی ۱۲۲۱۲۰۲ - ،اقتصاد اسلامی،علوم اقتصادی گرایش اقتصاداسلامی ۱۲۲۱۲۱۸ - ،اقتصاد۱۲۲۱۳۱۰

۳۵- حرکت به سمت راست و پایین بر روی منحنی فیلیپس، بیانگر؛

۱. افزایش انتظارات تورمی و بروز شوک های نامطلوب عرضه است.

۲. کاهش انتظارات تورمی و بروز شوک های مطلوب عرضه است.

۳. افزایش نرخ بیکاری و کاهش نرخ تورم است.

۴. افزایش همزمان نرخ بیکاری و نرخ تورم است.

۳۶- طبق تحلیل فریدمن با اتخاذ سیاست پولی انبساطی، نرخ بیکاری و نرخ تورم در بلندمدت چگونه تغییر می کنند؟

۱. نرخ تورم افزایش یافته ولی نرخ بیکاری ثابت می ماند.

۲. نرخ تورم افزایش یافته و نرخ بیکاری کاهش می یابد.

۳. نرخ تورم کاهش یافته ولی نرخ بیکاری ثابت می ماند.

۴. نرخ بیکاری و نرخ تورم هر دو افزایش می یابد.

۳۷- بیکاری که بر اثر نقایص بازار کار و نقص اطلاعات بروز می کند، چه نامیده می شود؟

۱. بیکاری ادواری ۲. بیکاری ساختاری ۳. بیکاری غیر ارادی ۴. بیکاری اصطکاکی

۳۸- بر اساس نظریه پولی تورم فریدمن،برای آن که تورم بروز نکند؛

۱. نرخ رشد حجم پول باید بیشتر از نرخ رشد تولید اسمی اقتصاد باشد.

۲. نرخ رشد حجم پول باید بیشتر از نرخ رشد تولید حقیقی اقتصاد باشد.

۳. نرخ رشد حجم پول باید برابر با نرخ رشد تولید اسمی اقتصاد باشد.

۴. نرخ رشد حجم پول باید برابر با نرخ رشد تولید حقیقی اقتصاد باشد.

۳۹- دستمزد حقیقی کارگران در تورم ناشی از فشار هزینه مواد اولیه چگونه تغییر می کند؟

۱. افزایش می یابد.

۲. کاهش می یابد.

۳. ثابت می ماند.

۴. ابتدا افزایش و سپس کاهش می یابد.

۴۰- کارکرد منحنی لافر در اقتصاد بخش عرضه چیست؟

۱. تعیین نرخ تورم مناسب برای کنترل تورم رکودی

۲. تعیین نرخ بهره مناسب برای کنترل تورم رکودی

۳. تعیین نرخ مالیات مناسب برای کنترل تورم رکودی

۴. تعیین نرخ ارز مناسب برای کنترل تورم رکودی

98-99-1

تعداد سوالات : تستی : ۴۰ **تشریحی :** ۰ | **زمان آزمون (دقیقه) : تستی :** ۹۰ **تشریحی :** ۰ | **سری سوال :** یک ۱

عنـــوان درس : اقتصاد کلان (۲)،اقتصاد کلان مقدماتی،اقتصاد کلان۲،اقتصادکلان ۲،اقتصادکلان میانه ۲

رشته تحصیلی/کد درس : مهندسی کشاورزی - اقتصادکشاورزی،مهندسی کشاورزی (اقتصادکشاورزی) ۱۱۲۱۰۳۷ - ،علوم اقتصادی (نظری)،علوم اقتصادی،اقتصاد اسلامی ۱۲۲۱۱۲۴ - ،اقتصاد کشاورزی،مهندسی کشاورزی - اقتصاد کشاورزی ۱۲۲۱۲۰۲ - ،اقتصاد اسلامی،علوم اقتصادی گرایش اقتصاداسلامی ۱۲۲۱۲۱۸ - ،اقتصاد۱۲۲۱۳۱۰

استفاده از ماشین حساب ساده مجاز است

۱- در نظریه تقاضای پول کمبریج کدام وظیفه پول نادیده گرفته می شود؟

۱. واحد سنجش ۲. ذخیره ارزش ۳. وسیله مبادله ۴. کارکرد معاملاتی

۲- کدام یک در مورد تقاضای پول کینز درست است؟

۱. تقاضای معاملاتی پول با نرخ بهره رابطه مستقیم دارد. ۲. تقاضای معاملاتی پول با نرخ بهره رابطه عکس دارد.
۳. تقاضای معاملاتی پول با درآمد رابطه مستقیم دارد. ۴. تقاضای معاملاتی پول با درآمد رابطه عکس دارد.

۳- در نظریه تقاضای سفته بازی پول کینز، اگر نرخ بهره بازار با نرخ بهره بحرانی برابر باشد، کدام گزینه درست است؟

۱. فرد فقط پول نقد نگهداری می کند
۲. فرد فقط اوراق قرضه نگهداری می کند
۳. فرد بین نگهداری پول و اوراق قرضه بی تفاوت است
۴. تصمیم فرد برای نگهداری پول یا اوراق قرضه، به ریسک فرد بستگی دارد.

۴- در کدام نظریه تقاضای پول، ریسک وارد معادلات می شود؟

۱. تقاضای سفته بازی کینز ۲. تقاضای سفته بازی توبین
۳. تقاضای معاملاتی بامول و توبین ۴. تقاضای پول فریدمن

۵- کشش تقاضای معاملاتی پول نسبت به نرخ بهره در نظریه تقاضای پول بامول و توبین چقدر است؟

۱. ۱ ۲. -۱ ۳. ۰،۵ ۴. -۰،۵

۶- در نظریه تقاضای پول فریدمن، با افزایش تورم انتظاری .....

۱. سرعت گردش پول افزایش و تقاضای حقیقی پول کاهش می یابد.
۲. سرعت گردش پول افزایش و تقاضای حقیقی پول نیز افزایش می یابد.
۳. سرعت گردش پول کاهش و تقاضای حقیقی پول افزایش می یابد.
۴. سرعت گردش پول کاهش و تقاضای حقیقی پول نیز کاهش می یابد.

تعداد سوالات : تستی : ۴۰ تشریحی : ۰ | زمان آزمون (دقیقه) : تستی : ۹۰ تشریحی : ۰ | سری سوال : ۱ یک

عنوان درس : اقتصاد کلان (۲)،اقتصاد کلان مقدماتی،اقتصاد کلان ۲،اقتصادکلان ۲،اقتصادکلان میانه ۲

رشته تحصیلی/کد درس : مهندسی کشاورزی - اقتصادکشاورزی،مهندسی کشاورزی (اقتصادکشاورزی) ۱۱۲۱۰۳۷ - ،علوم اقتصادی (نظری)،علوم اقتصادی،اقتصاد اسلامی ۱۲۲۱۱۲۴ - ،اقتصاد کشاورزی،مهندسی کشاورزی - اقتصاد کشاورزی ۱۲۲۱۲۰۲ - ،اقتصاد اسلامی،علوم اقتصادی گرایش اقتصاداسلامی ۱۲۲۱۲۱۸ - ،اقتصاد۱۲۲۱۳۱۰

۷- تفاوت تقاضای معاملاتی پول بامول و توبین با نظریه تقاضای معاملاتی پول کینز در چیست؟

۱. تقاضای معاملاتی پول بامول و توبین با درآمد رابطه مستقیم دارد.

۲. تقاضای معاملاتی پول بامول و توبین با درآمد رابطه عکس دارد.

۳. تقاضای معاملاتی پول بامول و توبین بانرخ بهره رابطه مستقیم دارد.

۴. تقاضای معاملاتی پول بامول و توبین بانرخ بهره رابطه عکس دارد.

۸- در مدل ساده خلق پول که نرخ ذخیره قانونی ۲۰ درصد است، اگر بانک مرکزی پایه پولی را به اندازه ۱۰۰ واحد افزایش دهد، حجم پول چه تغییری می کند؟

۱. ۵۰۰ واحد افزایش می یابد.

۲. ۵۰۰ واحد کاهش می یابد.

۳. ۴۰۰ واحد افزایش می یابد.

۴. ۴۰۰ واحد کاهش می یابد.

۹- کدام یک جزء مصارف پایه پولی است؟

۱. ذخایر ارزی بانک مرکزی

۲. ذخایر اضافی بانکها

۳. ذخایر طلای بانک مرکزی

۴. اوراق قرضه دولتی

۱۰- اگر نرخ ذخیره قانونی ۱۰ درصد، نرخ ذخیره اضافی ۱۵ درصد و نسبت اسکناس و مسکوک در دست مردم ۵ درصد باشد، ضریب تکاثر خلق پول چقدر است؟

۱. ۳/۳ ۲. ۴ ۳. ۳،۵ ۴. ۴،۵

۱۱- اگر بانک مرکزی اقدام به فروش اوراق قرضه دولتی نماید، حجم پول چه تغییری می کند؟

۱. کاهش می یابد.

۲. افزایش می یابد.

۳. تغییر نمی کند.

۴. ابتدا کاهش و سپس افزایش می یابد.

۱۲- کدام یک، نرخ ذخیره اضافی بانکها را کاهش می شود؟

۱. افزایش نرخ تنزیل

۲. افزایش ریسک کمبود نقدینگی

۳. افزایش نرخ بهره بازار

۴. افزایش حجم پول

۱۳- پول بر اساس کدام نظریه صرفا وسیله ای برای مبادله است؟

۱. نظریه تقاضای پول توبین

۲. نظریه تقاضای پول کینز

۳. نظریه تقاضای پول کمبریج

۴. نظریه تقاضای پول فریدمن

تعداد سوالات : تستی : ۴۰ **تشریحی :** ۰ **زمان آزمون (دقیقه) : تستی :** ۹۰ **تشریحی :** ۰ **سری سوال :** ۱ یک

عنـــوان درس : اقتصاد کلان (۲)،اقتصاد کلان مقدماتی،اقتصاد کلان۲،اقتصادکلان ۲،اقتصادکلان میانه ۲

رشته تحصیلی/کد درس : مهندسی کشاورزی - اقتصادکشاورزی،مهندسی کشاورزی (اقتصادکشاورزی) ۱۱۲۱۰۳۷ - ،علوم اقتصادی (نظری)،علوم اقتصادی،اقتصاد اسلامی ۱۲۲۱۱۲۴ - ،اقتصاد کشاورزی،مهندسی کشاورزی - اقتصاد کشاورزی ۱۲۲۱۲۰۲ - ،اقتصاد اسلامی،علوم اقتصادی گرایش اقتصاداسلامی ۱۲۲۱۲۱۸ - ،اقتصاد۱۲۲۱۳۱۰

۱۴- منحنی LM ، مکان هندسی ترکیباتی از r و y است که در آنها ..... در تعادل است.

۱. بازار پول ۲. بازار کالا ۳. بازار ارز ۴. بازار وام

۱۵- هر چه حساسیت تقاضای پول نسبت به نرخ بهره (h)بزرگتر باشد، .....

۱. عرضه پول نسبت به نرخ بهره باکشش تر و LM پر شیب تر است.

۲. عرضه پول نسبت به نرخ بهره باکشش تر و LM کم شیب تر است.

۳. تقاضای پول نسبت به نرخ بهره باکشش تر و LM پرشیب تر است.

۴. تقاضای پول نسبت به نرخ بهره باکشش تر و LM کم شیب تر است.

۱۶- منحنی LM در دامنه کلاسیک .....

۱. افقی است. ۲. شیب مثبت دارد. ۳. عمودی است. ۴. نزولی است.

۱۷- کاهش سطح عمومی قیمت ها، .....

۱. منحنی LM را به طرف پایین و راست جابجا می کند. ۲. منحنی LM را به طرف بالا و چپ جابجا می کند.

۳. منحنی LM را به طرف بالا و راست جابجا می کند. ۴. منحنی LM را به طرف پایین و چپ جابجا می کند.

۱۸- تابع مصرف به صورت $C = ۱۰۰ + ۰/۸Y_d$ و تابع مالیات به صورت $T = ۵۰ + ۰/۰۵Y$ می باشد. اگر تابع سرمایه گذاری $I = ۱۰۰ - ۲۰r$ باشد، شیب منحنی IS چقدر است؟

۱. ۰،۰۱ ۲. -۰،۰۱ ۳. -۰،۰۱۲ ۴. ۰،۰۱۲

۱۹- اگر سرمایه گذاری نسبت به نرخ بهره بی نهایت باکشش باشد، منحنی IS .....

۱. افقی است. ۲. عمودی است. ۳. نزولی است. ۴. صعودی است.

۲۰- کدام یک منحنی IS را به طرف چپ و پایین جابجا می کند؟

۱. افزایش مخارج دولتی ۲. افزایش سرمایه گذاری مستقل

۳. افزایش پرداختهای انتقالی ۴. افزایش مالیات های مستقل

۲۱- با افزایش ثروت حقیقی، .....

۱. IS به طرف پایین و چپ جابجا می شود. ۲. IS به طرف بالا و راست جابجا می شود.

۳. IS پرشیب تر می شود. ۴. IS کم شیب تر می شود.

تعداد سوالات : تستی : ۴۰ تشریحی : ۰ | زمان آزمون (دقیقه) : تستی : ۹۰ تشریحی : ۰ | سری سوال : ۱ یک

عنوان درس: اقتصاد کلان (۲)،اقتصاد کلان مقدماتی،اقتصاد کلان ۲،اقتصادکلان ۲،اقتصادکلان میانه ۲

رشته تحصیلی/کد درس: مهندسی کشاورزی - اقتصادکشاورزی،مهندسی کشاورزی (اقتصادکشاورزی) ۱۱۲۱۰۳۷ - ،علوم اقتصادی (نظری)،علوم اقتصادی،اقتصاد اسلامی ۱۲۲۱۱۲۴ - ،اقتصاد کشاورزی،مهندسی کشاورزی - اقتصاد کشاورزی ۱۲۲۱۲۰۲ - ،اقتصاد اسلامی،علوم اقتصادی گرایش اقتصاداسلامی ۱۲۲۱۲۱۸ - ،اقتصاد۱۲۲۱۳۱۰

۲۲- در نقطه تلاقی منحنی IS با LM ، .....

۱. بازارهای پول و ارز در تعادل هستند.
۲. بازارهای پول و کالا در تعادل هستند.
۳. بازارهای کالا و ارز در تعادل هستند.
۴. بازارهای پول، ارز و کالا در تعادل هستند.

۲۳- کدام سیاست در اقتصاد کینزی می تواند نرخ بهره و درآمد ملی را افزایش دهد؟

۱. سیاست مالی انبساطی
۲. سیاست مالی انقباضی
۳. سیاست پولی انبساطی
۴. سیاست پولی انقباضی

۲۴- اثر جایگزینی در سیاست مالی انبساطی به چه معنا است؟

۱. سرمایه گذاری خصوصی جایگزین مخارج دولتی می شود.
۲. سرمایه گذاری خصوصی جایگزین مصرف خصوصی می شود.
۳. مخارج دولتی جایگزین سرمایه گذاری خصوصی می شود.
۴. مخارج دولتی جایگزین مصرف خصوصی می شود.

۲۵- کدام یک سیاست انقباضی پولی محسوب می شود؟

۱. افزایش نرخ مالیات
۲. افزایش سرمایه گذاری مستقل
۳. کاهش حجم پول
۴. افزایش حجم پول

۲۶- در حالت عمومی در اقتصاد کینزی اگر دو سیاست انبساطی مالی و انبساطی پولی به طور همزمان اجرا شوند، درآمد ملی و نرخ بهره چه تغییری می کنند؟

۱. درآمد ملی افزایش - نرخ بهره نامشخص
۲. درآمد ملی افزایش - نرخ بهره کاهش
۳. نرخ بهره افزایش - درآمد ملی نامشخص
۴. نرخ بهره ثابت - درآمد ملی افزایش

۲۷- در حالت متعارف منحنی های IS و LM ، افزایش میل نهایی به مصرف، کارایی سیاست پولی را ..... و کارایی سیاست مالی را ..... می دهد.

۱. افزایش - کاهش
۲. افزایش - افزایش
۳. کاهش - کاهش
۴. کاهش - افزایش

۲۸- اگر IS شیب معمولی داشته باشد، در حالت LM ..... اثر جایگزینی حداکثر و در حالت LM ..... اثر جایگزینی صفر است.

۱. عمودی - نزولی
۲. صعودی - افقی
۳. صعودی - نزولی
۴. عمودی - افقی

تعداد سوالات : تستی : ۴۰ تشریحی : ۰ | زمان آزمون (دقیقه) : تستی : ۹۰ تشریحی : ۰ | سری سوال : ۱ یک

عنوان درس: اقتصاد کلان (۲)،اقتصاد کلان مقدماتی،اقتصاد کلان ۲،اقتصادکلان ۲،اقتصادکلان میانه ۲

رشته تحصیلی/کد درس: مهندسی کشاورزی - اقتصادکشاورزی،مهندسی کشاورزی (اقتصادکشاورزی) ۱۱۲۱۰۳۷ - ،علوم اقتصادی (نظری)،علوم اقتصادی،اقتصاد اسلامی ۱۲۲۱۱۲۴ - ،اقتصاد کشاورزی،مهندسی کشاورزی - اقتصاد کشاورزی ۱۲۲۱۲۰۲ - ،اقتصاد اسلامی،علوم اقتصادی گرایش اقتصاداسلامی ۱۲۲۱۲۱۸ - ،اقتصاد۱۲۲۱۳۱۰

۲۹- در دام نقدینگی کدام گزینه درست است؟

۱. LM عمودی است. ۲. LM افقی است. ۳. IS عمودی است. ۴. IS افقی است.

۳۰- افزایش نرخ ارز کدام اثرات را دارد؟

۱. افزایش صادرات و واردات ۲. کاهش صادرات و واردات
۳. افزایش صادرات و کاهش واردات ۴. کاهش صادرات و افزایش واردات

۳۱- اگر ورود و خروج سرمایه نسبت به نرخ بهره بی نهایت باکشش باشد، منحنی BP چگونه است؟

۱. افقی ۲. عمودی ۳. صعودی ۴. نزولی

۳۲- کدام یک منحنی BP را به طرف پایین و راست جابجا می کند؟

۱. افزایش صادرات مستقل ۲. افزایش واردات مستقل
۳. افزایش نرخ بهره جهانی ۴. افزایش مصرف مستقل

۳۳- اگر تعادل داخلی در سمت چپ و بالای منحنی BP واقع شود، در سیستم نرخ ارز ثابت کدام گزینه درست است؟

۱. منحنی LM به طرف راست و پایین جابجا می شود. ۲. منحنی LM به طرف چپ و بالا جابجا می شود.
۳. منحنی IS به طرف راست و بالا جابجا می شود. ۴. منحنی IS به طرف چپ و پایین جابجا می شود.

۳۴- هرچه منحنی IS کم شیب تر باشد، .....

۱. منحنی عرضه کل کم شیب تر است. ۲. منحنی عرضه کل پر شیب تر است.
۳. منحنی تقاضای کل کم شیب تر است. ۴. منحنی تقاضای کل پر شیب تر است.

۳۵- منحنی عرضه کل از تعادل کدام بازار استخراج می شود؟

۱. بازار کالا ۲. بازار پول ۳. بازار ارز ۴. بازار کار

۳۶- منحنی عرضه کل در حالت وجود توهم پولی چگونه است؟

۱. نزولی ۲. صعودی ۳. افقی ۴. عمودی

۳۷- در حالت کلاسیک عرضه کل، افزایش حجم پول چه تاثیری دارد؟

۱. متغیرهای حقیقی و اسمی اقتصاد را تغییر می دهد. ۲. متغیرهای حقیقی و اسمی اقتصاد را تغییر نمی دهد.
۳. فقط متغیرهای حقیقی اقتصاد را تغییر می دهد. ۴. فقط متغیرهای اسمی اقتصاد را تغییر می دهد.

تعداد سوالات : تستی : ۴۰ تشریحی : ۰ | زمان آزمون (دقیقه) : تستی : ۹۰ تشریحی : ۰ | سری سوال : ۱ یک

عنوان درس : اقتصاد کلان (۲)،اقتصاد کلان مقدماتی،اقتصاد کلان۲،اقتصادکلان ۲،اقتصادکلان میانه ۲

رشته تحصیلی/کد درس : مهندسی کشاورزی - اقتصادکشاورزی،مهندسی کشاورزی (اقتصادکشاورزی) ۱۱۲۱۰۳۷ - ،علوم اقتصادی (نظری)،علوم اقتصادی،اقتصاد اسلامی ۱۲۲۱۱۲۴ - ،اقتصاد کشاورزی،مهندسی کشاورزی - اقتصاد کشاورزی ۱۲۲۱۲۰۲ - ،اقتصاد اسلامی،علوم اقتصادی گرایش اقتصاداسلامی ۱۲۲۱۲۱۸ - ،اقتصاد۱۲۲۱۳۱۰

۳۸- افزایش عرضه نیروی کار در حالت عمومی کینزی، .....

۱. منحنی عرضه کل را به طرف راست و پایین جابجا کرده تولید و اشتغال را افزایش می دهد.

۲. منحنی عرضه کل را به طرف چپ و بالا جابجا کرده تولید و اشتغال را کاهش می دهد.

۳. منحنی تقاضای کل را به طرف راست و بالا جابجا کرده تولید و اشتغال را افزایش می دهد.

۴. منحنی تقاضای کل را به طرف چپ و پایین جابجا کرده تولید و اشتغال را کاهش می دهد.

۳۹- منحنی فیلیپس چه موضوعی را بیان می کند؟

۱. رابطه مستقیم بین تورم و بیکاری

۲. رابطه معکوس بین تورم و بیکاری

۳. رابطه مستقیم بین تولید و اشتغال

۴. رابطه معکوس بین تولید و اشتغال

۴۰- در کدام حالت، افزایش تورم همراه با افزایش تولید است؟

۱. تورم ناشی از فشار تقاضا

۲. تورم ناشی از فشار دستمزد

۳. تورم ناشی از فشار هزینه

۴. افزایش تورم همواره با افزایش تولید همراه است.

1221310 - 98-99-1

شماره سوال	پاسخ صحیح	وضعیت کلید	
۱	ب		عادی
۲	ج		عادی
۳	ج		عادی
۴	ب		عادی
۵	د		عادی
۶	ای		عادی
۷	د		عادی
۸	ای		عادی
۹	ب		عادی
۱۰	ج		عادی
۱۱	ای		عادی
۱۲	ج		عادی
۱۳	ج		عادی
۱۴	ای		عادی
۱۵	د		عادی
۱۶	ج		عادی
۱۷	ای		عادی
۱۸	ج		عادی
۱۹	ای		عادی
۲۰	د		عادی
۲۱	ب		عادی
۲۲	ب		عادی
۲۳	ای		عادی
۲۴	ج		عادی
۲۵	ج		عادی
۲۶	ای		عادی
۲۷	ب		عادی
۲۸	د		عادی
۲۹	ب		عادی
۳۰	ج		عادی
۳۱	ای		عادی
۳۲	ای		عادی
۳۳	ای		عادی
۳۴	ج		عادی
۳۵	د		عادی
۳۶	ب		عادی
۳۷	د		عادی
۳۸	ای		عادی
۳۹	ب		عادی
۴۰	ای		عادی

97-98-3

تعداد سوالات : تستی : ۴۰ تشریحی : ۰ | زمان آزمون (دقیقه) : تستی : ۹۰ تشریحی : ۰ | سری سوال : یک ۱

عنوان درس : اقتصاد کلان (۲)،اقتصاد کلان مقدماتی،اقتصاد کلان۲،اقتصادکلان ۲،اقتصادکلان میانه ۲

رشته تحصیلی/کد درس : مهندسی کشاورزی - اقتصادکشاورزی،مهندسی کشاورزی (اقتصادکشاورزی) ۱۱۲۱۰۳۷ - ،علوم اقتصادی (نظری)،علوم اقتصادی،اقتصاد اسلامی ۱۲۲۱۱۲۴ - ،اقتصاد کشاورزی،مهندسی کشاورزی - اقتصاد کشاورزی ۱۲۲۱۲۰۲ - ،اقتصاد اسلامی،علوم اقتصادی گرایش اقتصاداسلامی ۱۲۲۱۲۱۸ - ،اقتصاد۱۲۲۱۳۱۰

۱- اگر نرخ بهره اوراق قرضه ۱۵ درصد و نرخ بهره انتظاری ۱۰ درصد باشد، درصد بازدهی اوراق قرضه چقدر خواهد بود؟

۱. ۵ درصد ۲. ۲۵ درصد ۳. ۵۰ درصد ۴. ۶۵ درصد

۲- پول هایی مثل طلا و نقره یا فلفل و نمک که دارای ارزش ذاتی نیز هستند،چه نامیده می شوند؟

۱. پول کالایی ۲. پول اعتباری ۳. پول حکمی ۴. پول فلزی

۳- اگر نسبت سکه و اسکناس به حجم سپرده های دیداری برابر ۰،۲ و نرخ ذخیره قانونی برابر ۰،۱۵ و نرخ ذخایر اضافی برابر ۰،۰۵ بوده و پایه پولی معادل ۱۰۰ واحد باشد،مقدار حجم پول و حجم سپرده های دیداری به ترتیب چقدر خواهد بود؟

۱. $DD = ۲۵۰ \, , \, M^{S} = ۳۰۰$
۲. $DD = ۲۰۰ \, , \, M^{S} = ۲۵۰$
۳. $DD = ۵۰ \, , \, M^{S} = ۲۵۰$
۴. $DD = ۲۰۰ \, , \, M^{S} = ۳۰۰$

۴- افزایش تقاضای مستقل پول $(\bar{L})$ ، منجر به چه تغییری در منحنی LM می شود؟

۱. انتقال به سمت چپ ۲. انتقال به سمت راست ۳. افزایش شیب ۴. کاهش شیب

۵- کدام یک از تغییرات زیر منجر به انتقال منحنی IS به سمت چپ می شود؟

۱. کاهش مالیات ها
۲. افزایش مخارج دولتی
۳. کاهش پرداخت های انتقالی
۴. افزایش مصرف مستقل

۶- منحنی های IS و LM را به طور همزمان در یک نمودار در نظر گرفته و فرم حل شده $IS-LM$ را به صورت $y = \frac{\bar{C} - c\bar{T} + c\overline{TR} + \bar{I} + \bar{G} + \frac{b}{h}\frac{\bar{M}^{s}}{p} - \frac{b}{h}\bar{L}}{۱ - c(۱-t) + \frac{bk}{h}}$ به دست می آوریم. اگر با اعمال یک سیاست مالی انبساطی، منحنی IS به سمت راست جابجا شده و در نتیجه درآمد ملی معادل ۱۰۰ واحد افزایش یابد،با فرض منحنی LM به صورت $\frac{\bar{M}^{s}}{p} = ۰.۴\, y - ۲۰۰r$ مقدار افزایش نرخ بهره چقدر خواهد بود؟

۱. ۰،۱ ۲. ۰،۲ ۳. ۰،۳ ۴. ۰،۴

تعداد سوالات : تستی : ۴۰ تشریحی : ۰ | زمان آزمون (دقیقه) : تستی : ۹۰ تشریحی : ۰ | سری سوال : ۱ یک

عنوان درس: اقتصاد کلان (۲)،اقتصاد کلان مقدماتی،اقتصاد کلان ۲،اقتصادکلان ۲،اقتصادکلان میانه ۲

رشته تحصیلی/کد درس: مهندسی کشاورزی - اقتصادکشاورزی،مهندسی کشاورزی (اقتصادکشاورزی) ۱۱۲۱۰۳۷ - ،علوم اقتصادی (نظری)،علوم اقتصادی،اقتصاد اسلامی ۱۲۲۱۱۲۴ - ،اقتصاد کشاورزی،مهندسی کشاورزی - اقتصاد کشاورزی ۱۲۲۱۲۰۲ - ،اقتصاد اسلامی،علوم اقتصادی گرایش اقتصاداسلامی ۱۲۲۱۲۱۸ - ،اقتصاد۱۲۲۱۳۱۰

۷- اجرای همزمان سیاست پولی انقباضی و مالی انبساطی برای رسیدن به چه هدفی است؟

۱. ثبات نرخ بهره و افزایش درآمد ملی
۲. ثبات نرخ بهره و کاهش درآمد ملی
۳. کاهش نرخ بهره و ثبات درآمد ملی
۴. افزایش نرخ بهره و ثبات درآمد ملی

۸- کدام یک از تغییرات زیر، موجب افزایش کارایی هر دو سیاست پولی و مالی می شود؟

۱. کاهش میل نهایی به مصرف (C)
۲. کاهش ضریب نرخ بهره در تابع سرمایه گذاری (b)
۳. کاهش ضریب نرخ بهره در تابع تقاضای پول (h)
۴. کاهش ضریب درآمدی در تابع تقاضای پول (k)

۹- کدام گزینه صحیح است؟

۱. هر چه شیب منحنی LM کمتر باشد،تأثیر سیاست پولی بیشتر است.
۲. هر آن چه که ضریب تکاثری مدل ساده کینزی را افزایش دهد، شیب IS را کم می کند.
۳. هر چه سرمایه گذاری نسبت به نرخ بهره کم کشش تر باشد، شیب IS نیز کمتر خواهد شد.
۴. در شرایط دام نقدینگی سیاست پولی دارای بیشترین تأثیرگذاری است.

۱۰- شیب منحنی عرضه کل از دیدگاه کینزین ها چگونه است؟

۱. صعودی است.
۲. نزولی است.
۳. عمودی است.
۴. همیشه صفر است.

۱۱- کدام یک از روابط زیر، بیانگر تعادل تراز پرداخت ها می باشد؟

۱. $IM + EX = CIN + COU$
۲. $IM + CIN = EX + COU$
۳. $IM + COU = EX + CIN$
۴. $BP = NX + NCIN$

۱۲- در نقاط سمت چپ و بالای منحنی BP چه وضعیتی برقرار است؟

۱. مازاد عرضه ارز
۲. مازاد تقاضای ارز
۳. تعادل بازار ارز
۴. هر سه حالت ممکن است.

۱۳- کدام یک از تغییرات زیر منجر به افزایش صادرات می گردد؟

۱. افزایش سطح قیمت های داخلی
۲. افزایش نرخ ارز
۳. کاهش درآمد ملی کشور خارجی
۴. کاهش سطح قیمت های کشور خارجی

تعداد سوالات : تستی : ۴۰ تشریحی : ۰ | زمان آزمون (دقیقه) : تستی : ۹۰ تشریحی : ۰ | سری سوال : ۱ یک

عنوان درس : اقتصاد کلان (۲)،اقتصاد کلان مقدماتی،اقتصاد کلان ۲،اقتصادکلان ۲،اقتصادکلان میانه ۲

رشته تحصیلی/کد درس : مهندسی کشاورزی - اقتصادکشاورزی،مهندسی کشاورزی (اقتصادکشاورزی) ۱۱۲۱۰۳۷ - ،علوم اقتصادی (نظری)،علوم اقتصادی،اقتصاد اسلامی ۱۲۲۱۱۲۴ - ،اقتصاد کشاورزی،مهندسی کشاورزی - اقتصاد کشاورزی ۱۲۲۱۲۰۲ - ،اقتصاد اسلامی،علوم اقتصادی گرایش اقتصاداسلامی ۱۲۲۱۲۱۸ - ،اقتصاد۱۲۲۱۳۱۰

۱۴- در اقتصادی با فرض ثابت بودن سطح قیمت های داخلی و خارجی و تحرک پذیری کامل سرمایه؛

۱. در شرایط نرخ ارز شناور، سیاست پولی انبساطی موجب تضعیف پول داخلی می شود.

۲. در شرایط نرخ ارز ثابت، سیاست مالی انبساطی بر سطح تولید بی تأثیر است.

۳. در شرایط نرخ ارز ثابت، سیاست پولی دارای کارایی و اثر قابل توجهی بر y است.

۴. در شرایط نرخ ارز شناور، سیاست پولی انبساطی بر سطح تولید بی تأثیر است..

۱۵- فرض کنید معادلات عرضه و تقاضای نیروی کار به ترتیب به صورت $\frac{W}{P}=\frac{۱۰}{P}+۲N$ **و** $\frac{W}{P}=۹۷-۴N$ **و تابع عرضه کل به صورت** $P=۲+۰.۰۰۱y$ **بوده و منحنی** LM **در نرخ بهره ۰،۵ افقی باشد. همچنین تابع مصرف به صورت** $C=۱۶۰۰+۰.۷۵y$ **، تابع سرمایه گذاری به صورت** $I=۲۵۰-۱۰۰r$ **و مخارج دولتی معادل** $G=۲۰۰$ **باشد. در این صورت درآمد ملی حقیقی و دستمزد اسمی تعادلی به ترتیب برابر است با؛**

۱. $W=۴۲۳\ ,\ y=۴۰۰۰$

۲. $W=۴۲۳\ ,\ y=۴۱۲۵$

۳. $W=۳۳۰\ ,\ y=۸۱۲۵$

۴. $W=۳۳۰\ ,\ y=۸۰۰۰$

۱۶- منظور از شبه پول در تعریف $M_۲$ **پول کدام است؟**

۱. سپرده های دیداری

۲. سپرده های غیردیداری

۳. مجموع سپرده های دیداری و غیردیداری

۴. مجموع سپرده های دیداری و اسکناس و مسکوک در دست مردم

۱۷- تفاوت نظریه تقاضای سفته بازی توبین با نظریه تقاضای کینز چیست؟

۱. عدم نیاز به تفکیک تقاضای پول به دو بخش معاملاتی و سفته بازی در نظریه تقاضای سفته بازی توبین

۲. رابطه مستقیم تقاضای سفته بازی پول با نرخ بهره در نظریه تقاضای سفته بازی توبین

۳. وجود ریسک و نااطمینانی در خصوص بازدهی اوراق قرضه در نظریه تقاضای سفته بازی توبین

۴. کینز با بازنگری در تقاضای پول در مقایسه با نظریه تقاضای سفته بازی توبین، نظریه کامل تری ارائه کرد.

تعداد سوالات : تستی : ۴۰ تشریحی : ۰ | زمان آزمون (دقیقه) : تستی : ۹۰ تشریحی : ۰ | سری سوال : ۱ یک

عنوان درس : اقتصاد کلان (۲)،اقتصاد کلان مقدماتی،اقتصاد کلان ۲،اقتصادکلان ۲،اقتصادکلان میانه ۲

رشته تحصیلی/کد درس : مهندسی کشاورزی - اقتصادکشاورزی،مهندسی کشاورزی (اقتصادکشاورزی) ۱۱۲۱۰۳۷ - ،علوم اقتصادی (نظری)،علوم اقتصادی،اقتصاد اسلامی ۱۲۲۱۱۲۴ - ،اقتصاد کشاورزی،مهندسی کشاورزی - اقتصاد کشاورزی ۱۲۲۱۲۰۲ - ،اقتصاد اسلامی،علوم اقتصادی گرایش اقتصاداسلامی ۱۲۲۱۲۱۸ - ،اقتصاد۱۲۲۱۳۱۰

۱۸- تعریف منحنی LM کدام است؟

۱. مکان هندسی ترکیباتی از قیمت و درآمد ملی که به ازای آنها بازار پول در تعادل است.

۲. مکان هندسی ترکیباتی از قیمت و درآمد ملی که به ازای آنها بازار کالا و خدمات در تعادل است.

۳. مکان هندسی ترکیباتی از نرخ بهره و درآمد ملی که به ازای آنها بازار پول در تعادل است.

۴. مکان هندسی ترکیباتی از نرخ بهره و قیمت که به ازای آنها بازار پول در تعادل است.

۱۹- در نقاط سمت راست و پایین منحنی LM چه وضعیتی برقرار است؟

۱. مازاد عرضه پول
۲. مازاد تقاضای پول
۳. تعادل بازار پول
۴. مازاد عرضه کالا و خدمات

۲۰- تابع مصرف به صورت $C = ۸۰ + ۰.۷۵ y_d$ ، سرمایه گذاری $I = ۴۰۰ - ۲۰۰ r$ ، مخارج دولتی معادل $G = ۳۰۰$ واحد و مالیات به صورت $T = ۵۰ + ۰.۲ y$ مفروض است. مقدار جابجایی عمودی منحنی IS در صورت افزایش مخارج دولتی به میزان ۱۰۰ واحد چقدر خواهد بود؟

۱. ۱۳۳
۲. ۲۲۷
۳. ۰،۲
۴. ۰،۵

۲۱- منحنی فیلیپس اولیه بیانگر کدام رابطه است؟

۱. رابطه مستقیم نرخ بیکاری و نرخ تورم
۲. رابطه معکوس نرخ بیکاری و نرخ تورم
۳. رابطه مستقیم نرخ بیکاری و نرخ رشد دستمزدها
۴. رابطه معکوس نرخ بیکاری و نرخ رشد دستمزدها

۲۲- حرکت به سمت راست و پایین بر روی منحنی فیلیپس، بیانگر؛

۱. افزایش انتظارات تورمی و بروز شوک های نامطلوب عرضه است.

۲. کاهش انتظارات تورمی و بروز شوک های مطلوب عرضه است.

۳. افزایش نرخ بیکاری و کاهش نرخ تورم است.

۴. افزایش همزمان نرخ بیکاری و نرخ تورم است.

۲۳- طبق تحلیل فریدمن با اتخاذ سیاست پولی انبساطی، نرخ بیکاری و نرخ تورم در بلندمدت چگونه تغییر می کنند؟

۱. نرخ تورم افزایش یافته ولی نرخ بیکاری ثابت می ماند.
۲. نرخ تورم افزایش یافته و نرخ بیکاری کاهش می یابد.
۳. نرخ تورم کاهش یافته ولی نرخ بیکاری ثابت می ماند.
۴. نرخ بیکاری و نرخ تورم هر دو افزایش می یابد.

تعداد سوالات : تستی : ۴۰ تشریحی : ۰ | زمان آزمون (دقیقه) : تستی : ۹۰ تشریحی : ۰ | سری سوال : ۱ یک

عنوان درس : اقتصاد کلان (۲)،اقتصاد کلان مقدماتی،اقتصاد کلان ۲،اقتصادکلان ۲،اقتصادکلان میانه ۲

رشته تحصیلی/کد درس : مهندسی کشاورزی - اقتصادکشاورزی،مهندسی کشاورزی (اقتصادکشاورزی) ۱۱۲۱۰۳۷ - ،علوم اقتصادی (نظری)،علوم اقتصادی،اقتصاد اسلامی ۱۲۲۱۱۲۴ - ،اقتصاد کشاورزی،مهندسی کشاورزی - اقتصاد کشاورزی ۱۲۲۱۲۰۲ - ،اقتصاد اسلامی،علوم اقتصادی گرایش اقتصاداسلامی ۱۲۲۱۲۱۸ - ،اقتصاد۱۲۲۱۳۱۰

۲۴- بیکاری که بر اثر نقایص بازار کار و نقص اطلاعات بروز می کند، چه نامیده می شود؟

۱. بیکاری ادواری ۲. بیکاری ساختاری ۳. بیکاری غیر ارادی ۴. بیکاری اصطکاکی

۲۵- بر اساس نظریه پولی تورم فریدمن،برای آن که تورم بروز نکند؛

۱. نرخ رشد حجم پول باید بیشتر از نرخ رشد تولید اسمی اقتصاد باشد.

۲. نرخ رشد حجم پول باید بیشتر از نرخ رشد تولید حقیقی اقتصاد باشد.

۳. نرخ رشد حجم پول باید برابر با نرخ رشد تولید اسمی اقتصاد باشد.

۴. نرخ رشد حجم پول باید برابر با نرخ رشد تولید حقیقی اقتصاد باشد.

۲۶- دستمزد حقیقی کارگران در تورم ناشی از فشار هزینه مواد اولیه چگونه تغییر می کند؟

۱. افزایش می یابد. ۲. کاهش می یابد.

۳. ثابت می ماند. ۴. ابتدا افزایش و سپس کاهش می یابد.

۲۷- کارکرد منحنی لافر در اقتصاد بخش عرضه چیست؟

۱. تعیین نرخ تورم مناسب برای کنترل تورم رکودی ۲. تعیین نرخ بهره مناسب برای کنترل تورم رکودی

۳. تعیین نرخ مالیات مناسب برای کنترل تورم رکودی ۴. تعیین نرخ ارز مناسب برای کنترل تورم رکودی

۲۸- تقاضای پول بر اساس کدام نظریه علاوه بر درآمد و نرخ بهره،به هزینه کارمزد بانکی نیز وابسته است؟

۱. نظریه رجحان نقدینگی ۲. نظریه تقاضای پول کمبریج

۳. نظریه تقاضای معاملاتی بامول - توبین ۴. نظریه تقاضای پول فریدمن

۲۹- کدام گزینه منجر به افزایش پایه پولی نمی گردد؟

۱. افزایش وام ها و اعتبارات اعطایی بانک مرکزی به بانک های تجاری

۲. افزایش مطالبات دولت از بانک مرکزی

۳. افزایش خالص ذخایر ارزی و طلای بانک مرکزی

۴. افزایش اوراق قرضه دولتی نزد بانک مرکزی

تعداد سوالات : تستی : ۴۰ تشریحی : ۰ | زمان آزمون (دقیقه) : تستی : ۹۰ تشریحی : ۰ | سری سوال : ۱ یک

عنوان درس : اقتصاد کلان (۲)،اقتصاد کلان مقدماتی،اقتصاد کلان۲،اقتصادکلان ۲،اقتصادکلان میانه ۲

رشته تحصیلی/کد درس : مهندسی کشاورزی - اقتصادکشاورزی،مهندسی کشاورزی (اقتصادکشاورزی) ۱۱۲۱۰۳۷ - ،علوم اقتصادی (نظری)،علوم اقتصادی،اقتصاد اسلامی ۱۲۲۱۱۲۴ - ،اقتصاد کشاورزی،مهندسی کشاورزی - اقتصاد کشاورزی ۱۲۲۱۲۰۲ - ،اقتصاد اسلامی،علوم اقتصادی گرایش اقتصاداسلامی ۱۲۲۱۲۱۸ - ،اقتصاد۱۲۲۱۳۱۰

۳۰- با توجه به نمودار زیر، در نقطه A چه وضعیتی برقرار است؟

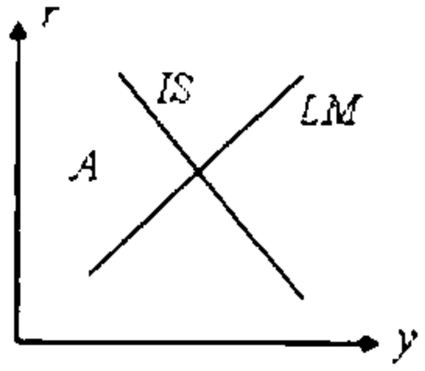

۱. مازاد تقاضای کالا و خدمات - مازاد عرضه پول
۲. مازاد عرضه کالا و خدمات - مازاد تقاضای پول
۳. مازاد تقاضای کالا و خدمات - مازاد تقاضای پول
۴. مازاد عرضه کالا و خدمات - مازاد عرضه پول

۳۱- در صورت اعمال سیاست مالی انقباضی و سیاست پولی انبساطی، درآمد ملی تعادلی چگونه تغییر می کند؟

۱. افزایش می یابد.
۲. کاهش می یابد.
۳. ثابت می ماند.
۴. هر سه حالت ممکن است.

۳۲- در کدام یک از حالت های زیر،سیاست مالی دارای بیشترین اثرگذاری است؟

۱. IS عمودی و LM افقی
۲. IS افقی و LM عمودی
۳. IS افقی و LM افقی
۴. IS عمودی و LM عمودی

۳۳- در حالت کینزی جابه جایی تقاضای کل

۱. بر اشتغال اثر گدار نیست
۲. متغیرهای حقیقی را می تواند تغییر دهد
۳. فقط متغیرهای اسمی را تغییر می دهد
۴. بر تولید اثر گذار نیست

۳۴- شیب منحنی LM برای اقتصاد باز در مقایسه با اقتصاد بسته چگونه تغییر می کند؟

۱. افزایش می یابد.
۲. کاهش می یابد.
۳. تغییر نمی کند.
۴. بستگی به اعمال سیاست های پولی و ارزی دارد.

۳۵- کدام یک از تغییرات زیر منجر به کاهش شیب منحنی عرضه کل می گردد؟

۱. کاهش شیب تابع تولید
۲. کاهش شیب منحنی تقاضای نیروی کار
۳. افزایش شیب منحنی عرضه نیروی کار
۴. کاهش درجه چسبندگی دستمزد و قیمت

تعداد سوالات : تستی : ۴۰ تشریحی : ۰ | زمان آزمون (دقیقه) : تستی : ۹۰ تشریحی : ۰ | سری سوال : ۱ یک

عنوان درس : اقتصاد کلان (۲)،اقتصاد کلان مقدماتی،اقتصاد کلان ۲،اقتصادکلان ۲،اقتصادکلان میانه ۲

رشته تحصیلی/کد درس : مهندسی کشاورزی - اقتصادکشاورزی،مهندسی کشاورزی (اقتصادکشاورزی) ۱۱۲۱۰۳۷ - ،علوم اقتصادی (نظری)،علوم اقتصادی،اقتصاد اسلامی ۱۲۲۱۱۲۴ - ،اقتصاد کشاورزی،مهندسی کشاورزی - اقتصاد کشاورزی ۱۲۲۱۲۰۲ - ،اقتصاد اسلامی،علوم اقتصادی گرایش اقتصاداسلامی ۱۲۲۱۲۱۸ - ،اقتصاد۱۲۲۱۳۱۰

۳۶- شیب منحنی عرضه کل در کدام یک از حالت های زیر صفر است؟

۱. در حالت چسبندگی قیمت و توهم پولی کامل

۲. در حالت چسبندگی قیمت و توهم پولی ناقص

۳. در حالت چسبندگی دستمزد صرفا به سمت پایین و عدم توهم پولی

۴. در حالت چسبندگی قیمت و ظرفیت بیکار تولید

۳۷- کدام گزینه بیانگر اثر پیگو در استدلال نزولی بودن منحنی تقاضای کل است؟

۱. افزایش تقاضای کل $\Rightarrow$ افزایش مصرف $\Rightarrow$ افزایش ثروت حقیقی $\Rightarrow$ افزایش قدرت خرید پول $\Rightarrow$ کاهش قیمت

۲. افزایش تقاضای کل $\Rightarrow$ افزایش سرمایه گذاری $\Rightarrow$ کاهش نرخ بهره $\Rightarrow$ افزایش عرضه حقیقی پول $\Rightarrow$ کاهش قیمت

۳. افزایش تقاضای کل $\Rightarrow$ افزایش سرمایه گذاری $\Rightarrow$ کاهش نرخ بهره $\Rightarrow$ کاهش عرضه حقیقی پول $\Rightarrow$ کاهش قیمت

۴. افزایش تقاضای کل $\Rightarrow$ افزایش صادرات و کاهش واردات $\Rightarrow$ کاهش قیمت

۳۸- کدام یک از تغییرات زیر منجر به کاهش شیب منحنی تقاضای کل می گردد؟

۱. کاهش ضریب نرخ بهره در تابع سرمایه گذاری (b)

۲. افزایش نرخ مالیاتی (t)

۳. افزایش میل نهایی به مصرف (c)

۴. افزایش ضریب درآمدی در تابع تقاضای پول (k)

۳۹- کدام گزینه در خصوص رابطه شیب منحنی های IS و LM با شیب منحنی تقاضای کل صحیح است؟

۱. هر آن چه منحنی IS را کم شیب تر کند منحنی AD را پرشیب تر و هر آن چه منحنی LM را کم شیب تر کند، منحنی AD را نیز کم شیب تر می کند.

۲. هر آن چه منحنی IS را کم شیب تر کند، منحنی AD را نیز کم شیب تر و هر آن چه منحنی LM را پرشیب تر کند، منحنی AD را کم شیب تر می کند.

۳. هر آن چه منحنی های IS و LM را کم شیب تر کند، منحنی AD را نیز کم شیب تر می کند.

۴. هر آن چه منحنی های IS و LM را پرشیب تر کند، منحنی AD را کم شیب تر می کند.

۴۰- شیب منحنی تقاضای کل در صورتی که سرمایه گذاری نسبت به نرخ بهره کاملا کشش پذیر باشد، چگونه است؟

۱. افقی ۲. عمودی ۳. نزولی ۴. صعودی

1221310 - 97-98-3

شماره سوال	پاسخ صحیح	وضعیت کلید	
۱	د		عادي
۲	الف		عادي
۳	الف		عادي
۴	الف		عادي
۵	ج		عادي
۶	ب		عادي
۷	د		عادي
۸	د		عادي
۹	ب		عادي
۱۰	الف		عادي
۱۱	ج		عادي
۱۲	الف		عادي
۱۳	ب		عادي
۱۴	الف		عادي
۱۵	د		عادي
۱۶	ب		عادي
۱۷	ج		عادي
۱۸	ج		عادي
۱۹	ب		عادي
۲۰	د		عادي
۲۱	د		عادي
۲۲	ج		عادي
۲۳	الف		عادي
۲۴	د		عادي
۲۵	د		عادي
۲۶	ب		عادي
۲۷	ج		عادي
۲۸	ج		عادي
۲۹	ب		عادي
۳۰	الف		عادي
۳۱	د		عادي
۳۲	الف		عادي
۳۳	ب		عادي
۳۴	ج		عادي
۳۵	ب		عادي
۳۶	د		عادي
۳۷	الف		عادي
۳۸	ج		عادي
۳۹	ب		عادي
۴۰	ج		عادي

97-98-2

تعداد سوالات : تستی : ۴۰ **تشریحی :** ۰ | **زمان آزمون (دقیقه) : تستی :** ۹۰ **تشریحی :** ۰ | **سری سوال :** یک ۱

عنـــوان درس : اقتصاد کلان (۲)،اقتصاد کلان مقدماتی،اقتصاد کلان۲،اقتصادکلان ۲،اقتصادکلان میانه ۲

رشته تحصیلی/کد درس : مهندسی کشاورزی - اقتصادکشاورزی،مهندسی کشاورزی (اقتصادکشاورزی) ۱۱۲۱۰۳۷ - ،علوم اقتصادی (نظری)،علوم اقتصادی،اقتصاد اسلامی ۱۲۲۱۱۲۴ - ،اقتصاد کشاورزی،مهندسی کشاورزی - اقتصاد کشاورزی ۱۲۲۱۲۰۲ - ،اقتصاد اسلامی،علوم اقتصادی گرایش اقتصاداسلامی ۱۲۲۱۲۱۸ - ،اقتصاد۱۲۲۱۳۱۰

استفاده از ماشین حساب ساده مجاز است

۱- کدام یک ذخیره ارزش مناسب تری است؟

۱. اسکناس
۲. مسکوک
۳. سپرده های دیداری
۴. سپرده های غیردیداری

۲- در نظریه تقاضای پول مکتب کمبریج با افزایش سطح عمومی قیمت ها، .....

۱. تقاضای حقیقی پول به طور متناسب افزایش می یابد
۲. تقاضای حقیقی پول به طور متناسب کاهش می یابد
۳. تقاضای حقیقی پول ثابت می ماند.
۴. تقاضای اسمی پول به طور متناسب کاهش می یابد

۳- در نظریه تقاضای پول کینز، نرخ بهره بحرانی چیست؟

۱. نرخ بهره ای است که بازدهی پول را حداکثر می کند.
۲. نرخ بهره ای است که بازدهی اوراق قرضه را حداکثر می کند.
۳. نرخ بهره ای است که بازدهی پول را مثبت می کند.
۴. نرخ بهره ای است که بازدهی اوراق قرضه را صفر می کند.

۴- نوآوری تقاضای پول بامول و توبین نسبت به تقاضای پول کینز کدام گزینه است؟

۱. تقاضای معاملاتی پول با نرخ بهره رابطه عکس دارد.
۲. تقاضای سفته بازی پول با نرخ بهره رابطه عکس دارد.
۳. تقاضای معاملاتی پول با درآمد رابطه مستقیم دارد.
۴. تقاضای سفته بازی پول با درآمد رابطه مستقیم دارد.

۵- در کدام نظریه تقاضای پول، بازدهی پول صفر نیست و نگهداری پول همانند یک کالا دارای مطلوبیت و لذت روحی است؟

۱. کینز
۲. بامول و توبین
۳. کمبریج
۴. فریدمن

۶- روند ابداع پول به چه صورتی بوده است؟

۱. پول کالایی - پول فلزی - اسکناس بدون پشتوانه - اسکناس با پشتوانه
۲. پول فلزی -پول کالایی - اسکناس بدون پشتوانه - اسکناس با پشتوانه
۳. پول کالایی - پول فلزی - اسکناس با پشتوانه - اسکناس بدون پشتوانه
۴. پول فلزی -پول کالایی - اسکناس با پشتوانه - اسکناس بدون پشتوانه

تعداد سوالات : تستی : ۴۰ تشریحی : ۰ | زمان آزمون (دقیقه) : تستی : ۹۰ تشریحی : ۰ | سری سوال : ۱ یک

عنوان درس : اقتصاد کلان (۲)،اقتصاد کلان مقدماتی،اقتصاد کلان ۲،اقتصادکلان ۲،اقتصادکلان میانه ۲

رشته تحصیلی/کد درس : مهندسی کشاورزی - اقتصادکشاورزی،مهندسی کشاورزی (اقتصادکشاورزی) ۱۱۲۱۰۳۷ - ،علوم اقتصادی (نظری)،علوم اقتصادی،اقتصاد اسلامی ۱۲۲۱۱۲۴ - ،اقتصاد کشاورزی،مهندسی کشاورزی - اقتصاد کشاورزی ۱۲۲۱۲۰۲ - ،اقتصاد اسلامی،علوم اقتصادی گرایش اقتصاداسلامی ۱۲۲۱۲۱۸ - ،اقتصاد۱۲۲۱۳۱۰

۷- کدام یک جزء مصارف پایه پولی است؟

۱. خالص ذخایر ارزی بانک مرکزی
۲. ذخایر اضافی بانکها
۳. ذخایر طلای بانک مرکزی
۴. اوراق قرضه دولتی نزد بانک مرکزی

۸- در یک اقتصاد فرضی، نسبت اسکناس و مسکوک به سپرده در دست مردم ۰/۲۵ نرخ ذخیره قانونی ۰/۱۵ و نرخ ذخیره اضافی بانکها ۰/۱ است. اگر پایه پولی ۵۰ واحد افزایش یابد حجم پول چه مقدار افزایش می یابد؟

۱. ۱۲۵
۲. ۱۰۰
۳. ۵۰
۴. ۲۵۰

۹- کدام گزینه حجم پول را افزایش می دهد؟

۱. افزایش نرخ ذخیره قانونی
۲. افزایش نرخ ذخیره اضافی
۳. فروش اوراق قرضه دولتی توسط بانک مرکزی
۴. کاهش نرخ تنزیل

۱۰- در یک اقتصاد فرضی معادله تقاضای معاملاتی پول $L_1=100+0/2y$ و معادله تقاضای سفته بازی پول $L_2=50-40r$ است. اگر عرضه حقیقی پول ۹۵۰ باشد منحنی LM کدام است؟

۱. $r=-20+200y$
۲. $r=20+200y$
۳. $r=-20+0/005y$
۴. $r=-20-0/005y$

۱۱- اگر تقاضای پول نسبت به نرخ بهره کاملا بی کشش باشد منحنی LM چه شکلی دارد؟

۱. عمودی است
۲. افقی است
۳. شیب مثبت دارد
۴. شیب منفی دارد

۱۲- در هر نقطه بالا و سمت چپ منحنی LM چه وضعیتی برقرار است؟

۱. تعادل در بازار پول
۲. مازاد عرضه پول
۳. مازاد تقاضای پول
۴. تعادل در بازار کالا

۱۳- منحنی IS.....

۱. ترکیباتی از سطح قیمت ها و درآمد ملی است که در آنها بازار کالا در تعادل است.
۲. ترکیباتی از سطح قیمت ها و درآمد ملی است که در آنها بازار پول در تعادل است.
۳. ترکیباتی از سطح نرخ بهره و درآمد ملی است که در آنها بازار پول در تعادل است.
۴. ترکیباتی از سطح نرخ بهره و درآمد ملی است که در آنها بازار کالا در تعادل است.

تعداد سوالات : تستی : ۴۰ تشریحی : ۰ | زمان آزمون (دقیقه) : تستی : ۹۰ تشریحی : ۰ | سری سوال : ۱ یک

عنوان درس : اقتصاد کلان (۲)،اقتصاد کلان مقدماتی،اقتصاد کلان۲،اقتصادکلان ۲،اقتصادکلان میانه ۲

رشته تحصیلی/کد درس : مهندسی کشاورزی - اقتصادکشاورزی،مهندسی کشاورزی (اقتصادکشاورزی) ۱۱۲۱۰۳۷ - ،علوم اقتصادی (نظری)،علوم اقتصادی،اقتصاد اسلامی ۱۲۲۱۱۲۴ - ،اقتصاد کشاورزی،مهندسی کشاورزی - اقتصاد کشاورزی ۱۲۲۱۲۰۲ - ،اقتصاد اسلامی،علوم اقتصادی گرایش اقتصاداسلامی ۱۲۲۱۲۱۸ - ،اقتصاد۱۲۲۱۳۱۰

۱۴- کدام گزینه قدر مطلق شیب منحنی IS را کاهش می دهد یا به عبارتی IS را کم شیب تر می کند؟

۱. افزایش میل نهایی به مصرف
۲. افزایش نرخ مالیات
۳. کاهش حساسیت سرمایه گذاری نسبت به نرخ بهره
۴. افزایش مخارج دولتی

۱۵- کاهش نرخ مالیات چه اثری بر منحنی IS دارد؟

۱. منحنی IS را به طور موازی به طرف راست انتقال می دهد.
۲. منحنی IS را به طور غیرموازی به طرف راست انتقال می دهد.
۳. منحنی IS را به طور موازی به طرف چپ انتقال می دهد.
۴. منحنی IS را به طور غیرموازی به طرف چپ انتقال می دهد.

۱۶- اثر پیکو چه موضوعی را بیان می کند؟

۱. کاهش سطح عمومی قیمت ها، منحنی IS را به طرف راست انتقال می دهد.
۲. کاهش سطح عمومی قیمت ها، منحنی IS را به طرف چپ انتقال می دهد.
۳. کاهش سطح عمومی قیمت ها، منحنی LM را به طرف راست انتقال می دهد.
۴. کاهش سطح عمومی قیمت ها، منحنی LM را به طرف چپ انتقال می دهد.

۱۷- کاهش مخارج دولتی چه اثری دارد؟

۱. منحنی IS را به طرف راست انتقال داده نرخ بهره و درآمد ملی را افزایش می دهد.
۲. منحنی IS را به طرف چپ انتقال داده نرخ بهره و درآمد ملی را کاهش می دهد.
۳. منحنی LM را به طرف راست انتقال داده نرخ بهره را کاهش و درآمد ملی را افزایش می دهد.
۴. منحنی LM را به طرف چپ انتقال داده نرخ بهره را افزایش و درآمد ملی را کاهش می دهد.

۱۸- با توجه به اطلاعات زیر اگر دولت مالیات های ثابت را ۲۰ واحدکاهش دهد درآمد ملی چه تغییری می کند؟

$$C = ۸۰۰ + ۰/۸yD \quad , \quad T = ۱۰۰ + ۰/۲۵y \quad , \quad I = ۵۰۰ - ۲۰۰r$$

$$\frac{M^d}{P} = ۱۰۰ + ۰/۲y - ۴۰۰r \quad , \quad \frac{M^S}{P} = ۴۵۰ \quad , \quad TR = ۳۵۰ \quad , \quad G = ۶۰۰$$

۱. ۳۲ واحد افزایش
۲. ۳۲ واحد کاهش
۳. ۴۰ واحد افزایش
۴. ۴۰ واحد کاهش

تعداد سوالات : تستی : ۴۰ تشریحی : ۰ | زمان آزمون (دقیقه) : تستی : ۹۰ تشریحی : ۰ | سری سوال : ۱ یک

عنوان درس : اقتصاد کلان (۲)،اقتصاد کلان مقدماتی،اقتصاد کلان۲،اقتصادکلان ۲،اقتصادکلان میانه ۲

رشته تحصیلی/کد درس : مهندسی کشاورزی - اقتصادکشاورزی،مهندسی کشاورزی (اقتصادکشاورزی) ۱۱۲۱۰۳۷ - ،علوم اقتصادی (نظری)،علوم اقتصادی،اقتصاد اسلامی ۱۲۲۱۱۲۴ - ،اقتصاد کشاورزی،مهندسی کشاورزی - اقتصاد کشاورزی ۱۲۲۱۲۰۲ - ،اقتصاد اسلامی،علوم اقتصادی گرایش اقتصاداسلامی ۱۲۲۱۲۱۸ - ،اقتصاد۱۲۲۱۳۱۰

۱۹- با توجه به اطلاعات زیر ضریب تکاثر عرضه حقیقی پول چقدر است؟

$$C = ۱۲۰۰ + ۰/۷۵yD \quad , \quad T = ۱۰۰ + ۰/۲y \quad , \quad I = ۸۰۰ - ۱۰۰r$$

$$\frac{M^d}{P} = ۱۰۰ + ۰/۰۵y - ۵۰r$$

۱. ۳ ۲. ۲ ۳. ۴ ۴. ۲/۵

۲۰- کدام یک سیاست تطابق سازی محسوب می شود؟

۱. افزاش همزمان مخارج و دولتی و مالیات ها
۲. افزاش مخارج دولتی و همزمان کاهش مالیات ها
۳. افزایش همزمان مخارج دولتی و حجم پول
۴. افزایش حجم پول و همزمان کاهش مخارج دولتی

۲۱- هرچه LM کم شیب تر باشد کدام گزینه صحیح است؟

۱. کارایی سیاست مالی بیشتر است
۲. کارایی سیاست پولی بیشتر است
۳. کارایی سیاست پولی و مالی هر دو افزایش می یابد
۴. کارایی سیاست پولی و مالی هر دو کاهش می یابد

۲۲- اگر سرمایه گذاری نسبت به نرخ بهره کاملا بی کشش باشد کدام گزینه درست است؟

۱. منحنی IS افقی و سیاست مالی بیشترین کارایی را دارد
۲. منحنی IS افقی و سیاست پولی بیشترین کارایی را دارد
۳. منحنی IS عمودی و سیاست پولی بیشترین کارایی را دارد
۴. منحنی IS عمودی و سیاست مالی بیشترین کارایی را دارد

۲۳- افزایش نرخ ارز کدام پیامد را به دنبال دارد؟

۱. افزایش صادرات
۲. افزایش واردات
۳. کسری تراز پرداخت ها
۴. کاهش قیمت کالاهای خارجی

۲۴- تفاوت مدل چهاربخشی با مدل سه بخشی در کدام گزینه است؟

۱. در مدل چهاربخشی IS پرشیب تر از سه بخشی است.
۲. در مدل چهاربخشی LM پرشیب تر از سه بخشی است.
۳. در مدل چهاربخشی BP پرشیب تر از سه بخشی است.
۴. در مدل چهاربخشی عرضه کل پرشیب تر از سه بخشی است.

تعداد سوالات : تستی : ۴۰ تشریحی : ۰ | زمان آزمون (دقیقه) : تستی : ۹۰ تشریحی : ۰ | سری سوال : ۱ یک

عنوان درس : اقتصاد کلان (۲)،اقتصاد کلان مقدماتی،اقتصاد کلان۲،اقتصادکلان ۲،اقتصادکلان میانه ۲

رشته تحصیلی/کد درس : مهندسی کشاورزی - اقتصادکشاورزی،مهندسی کشاورزی (اقتصادکشاورزی) ۱۱۲۱۰۳۷ - ،علوم اقتصادی (نظری)،علوم اقتصادی،اقتصاد اسلامی ۱۲۲۱۱۲۴ - ،اقتصاد کشاورزی،مهندسی کشاورزی - اقتصاد کشاورزی ۱۲۲۱۲۰۲ - ،اقتصاد اسلامی،علوم اقتصادی گرایش اقتصاداسلامی ۱۲۲۱۲۱۸ - ،اقتصاد۱۲۲۱۳۱۰

۲۵- منحنی BP ترکیباتی از نرخ بهره و درآمد ملی است که در آنها .....

۱. بازار پول در تعادل است.
۲. بازار کالا در تعادل است.
۳. بازار ارز در تعادل است.
۴. بازار کار در تعادل است.

۲۶- اگر ورود و خروج سرمایه نسبت به نرخ بهره کاملاً بی کشش باشد منحنی BP چگونه است؟

۱. افقی است
۲. عمودی است
۳. شیب مثبت دارد
۴. شیب منفی دارد

۲۷- در سیستم نرخ ارز ثابت اگر تقاطع IS و LM در سمت چپ و بالای منحنی BP باشد چه اتفاقی می افتد؟

۱. منحنی IS به طرف راست و بالا انتقال می یابد.
۲. منحنی LM به طرف راست و پایین انتقال می یابد.
۳. منحنی IS به طرف چپ و پایین انتقال می یابد.
۴. منحنی LM به طرف چپ و بالا انتقال می یابد.

۲۸- کدام گزینه درست است؟

۱. در سیستم نرخ ارز ثابت سیاست پولی کارایی زیادی دارد و سیاست مالی فاقد کارایی است.
۲. در سیستم نرخ ارز شناور سیاست پولی فاقد کارایی است و سیاست مالی کارایی زیادی دارد.
۳. در سیستم نرخ ارز شناور سیاست پولی کارایی زیادی دارد و سیاست مالی کارایی چندانی ندارد.
۴. در سیستم نرخ ارز ثابت هر دو سیاست پولی و مالی کارایی زیادی دارند.

۲۹- در چه صورت منحنی تقاضای کل عمودی است؟

۱. منحنی IS افقی باشد
۲. منحنی LM عمودی باشد
۳. منحنی IS عمودی باشد
۴. منحنی LM شیب مثبت داشته باشد

۳۰- کدام یک از منحنی های زیر در استخراج منحنی عرضه کل نقشی ندارد؟

۱. منحنی LM
۲. منحنی عرضه نیروی کار
۳. منحنی تقاضای نیروی کار
۴. تابع تولید

۳۱- تورم رکودی توسط کدام نظریه توضیح داده می شود؟

۱. نظریه پولی تورم
۲. نظریه تورم فشار تقاضا
۳. نظریه تورم فشار هزینه
۴. نظریه تورم ساختاری

تعداد سوالات : تستی : ۴۰ تشریحی : ۰ | زمان آزمون (دقیقه) : تستی : ۹۰ تشریحی : ۰ | سری سوال : ۱ یک

عنوان درس : اقتصاد کلان (۲)،اقتصاد کلان مقدماتی،اقتصاد کلان ۲،اقتصادکلان ۲،اقتصادکلان میانه ۲

رشته تحصیلی/کد درس : مهندسی کشاورزی - اقتصادکشاورزی،مهندسی کشاورزی (اقتصادکشاورزی) ۱۱۲۱۰۳۷ - ،علوم اقتصادی (نظری)،علوم اقتصادی،اقتصاد اسلامی ۱۲۲۱۱۲۴ - ،اقتصاد کشاورزی،مهندسی کشاورزی - اقتصاد کشاورزی ۱۲۲۱۲۰۲ - ،اقتصاد اسلامی،علوم اقتصادی گرایش اقتصاداسلامی ۱۲۲۱۲۱۸ - ،اقتصاد۱۲۲۱۳۱۰

۳۲- کدام گزینه در خصوص دیدگاه کلاسیک درست است؟

۱. چسبندگی دستمزدها وجود دارد و عرضه کل عمودی است.

۲. توهم پولی وجود دارد و عرضه کل شیب مثبت دارد.

۳. چسبندگی دستمزدها وجود ندارد و عرضه کل عمودی است.

۴. توهم پولی وجود ندارد و عرضه کل افقی است

۳۳- در اقتصاد کینزی هنگامی که قیمت ها افزایش می یابند در بازار کار چه اتفاقی می افتد؟

۱. دستمزدهای اسمی به اندازه افزایش قیمت ها افزایش می یابد.

۲. دستمزدهای اسمی کمتر از افزایش قیمت ها افزایش می یابد.

۳. دستمزدهای اسمی بیشتر از افزایش قیمت ها افزایش می یابد

۴. دستمزدهای اسمی ثابت می ماند.

۳۴- در اقتصاد کینزی در حالت عمومی، با پیشرفت تکنولوژی چه تغییراتی اتفاق می افتد؟

۱. تابع تولید به طرف راست و پایین و تقاضای نیروی کار به طرف چپ و پایین منتقل می شوند.

۲. تابع تولید به طرف راست و پایین و تقاضای نیروی کار به طرف راست و بالا منتقل می شوند.

۳. تابع تولید به طرف چپ و بالا و تقاضای نیروی کار به طرف چپ و پایین منتقل می شوند.

۴. تابع تولید به طرف چپ و بالا و تقاضای نیروی کار به راست و بالا و پایین منتقل می شوند.

۳۵- در حالت عمومی کینزی، سیاست پولی انبساطی چه اثری دارد؟

۱. تنها متغیرهای حقیقی اقتصاد را تغییر می دهد.

۲. تنها متغیرهای اسمی اقتصاد را تغییر می دهد.

۳. هم متغیرهای اسمی و هم متغیرهای حقیقی اقتصاد را تغییر می دهد.

۴. تاثیری بر متغیرهای حقیقی و اسمی اقتصاد ندارد.

۳۶- در حالت عمومی کینزی پس از افزایش عرضه نیروی کار به دلیل رشد جمعیت، در بخش تقاضای اقتصاد بدون در نظر گرفتن اثر پیکو چه اتفاقی می افتد؟

۱. منحنی LM به طرف راست جابجا می شود

۲. منحنی LM به طرف چپ جابجا می شود

۳. منحنی IS به طرف راست جابجا می شود

۴. منحنی IS به طرف چپ جابجا می شود

تعداد سوالات : تستی : ۴۰ **تشریحی :** ۰ **زمان آزمون (دقیقه) : تستی :** ۹۰ **تشریحی :** ۰ **سری سوال :** ۱ یک

عنـــوان درس : اقتصاد کلان (۲)،اقتصاد کلان مقدماتی،اقتصاد کلان۲،اقتصادکلان ۲،اقتصادکلان میانه ۲

رشته تحصیلی/کد درس : مهندسی کشاورزی - اقتصادکشاورزی،مهندسی کشاورزی (اقتصادکشاورزی) ۱۱۲۱۰۳۷ - ،علوم اقتصادی (نظری)،علوم اقتصادی،اقتصاد اسلامی ۱۲۲۱۱۲۴ - ،اقتصاد کشاورزی،مهندسی کشاورزی - اقتصاد کشاورزی ۱۲۲۱۲۰۲ - ،اقتصاد اسلامی،علوم اقتصادی گرایش اقتصاداسلامی ۱۲۲۱۲۱۸ - ،اقتصاد۱۲۲۱۳۱۰

۳۷- شکل اولیه منحنی فیلیپس بر اساس کدام فرض استخراج شده است؟

۱. توهم ناقص پولی
۲. توهم کامل پولی
۳. عدم توهم پولی
۴. انعطاف پذیری دستمزدها

۳۸- منحنی فیلیپس چه موضوعی را بیان می کند؟

۱. نرخ بیکاری و نرخ رشد اقتصادی با هم رابطه عکس دارند.
۲. نرخ بیکاری و نرخ تورم با هم رابطه عکس دارند.
۳. نرخ بیکاری و نرخ رشد اقتصادی با هم رابطه مستقیم دارند.
۴. نرخ بیکاری و نرخ تورم با هم رابطه مستقیم دارند.

۳۹- افزایش انتظارات تورمی چه تاثیری بر منحنی فیلیپس دارد؟

۱. منحنی فیلیپس کوتاه مدت را به طرف راست انتقال می دهد.
۲. منحنی فیلیپس کوتاه مدت را به طرف چپ انتقال می دهد.
۳. منحنی فیلیپس بلند مدت را به طرف راست انتقال می دهد.
۴. منحنی فیلیپس بلند مدت را به طرف چپ انتقال می دهد.

۴۰- بر اساس تحلیل فریدمن کدام گزینه درست است؟

۱. در کوتاه مدت منحنی فیلیپس نزولی و منحنی عرضه کل عمودی است.
۲. در بلند مدت منحنی فیلیپس عمودی و منحنی عرضه کل عمودی است.
۳. در کوتاه مدت منحنی فیلیپس عمودی و منحنی عرضه کل صعودی است.
۴. در بلندمدت منحنی فیلیپس نزولی و منحنی عرضه کل صعودی است.

1221310 - 97-98-2

شماره سوال	پاسخ صحیح	وضعیت تکلیف	
1	د		عادی
2	ج		عادی
3	د		عادی
4	ای		عادی
5	د		عادی
6	ج		عادی
7	ب		عادی
8	ای.ب.ج.د		عادی
9	د		عادی
10	ج		عادی
11	ای		عادی
12	ب		عادی
13	د		عادی
14	ای		عادی
15	ای.ب.ج.د		عادی
16	ای		عادی
17	ب		عادی
18	ای		عادی
19	ج		عادی
20	ج		عادی
21	ای		عادی
22	ای.ب.ج.د		عادی
23	ای		عادی
24	ای		عادی
25	ج		عادی
26	ب		عادی
27	ب		عادی
28	ج		عادی
29	ج		عادی
30	ای		عادی
31	ج		عادی
32	ج		عادی
33	ب		عادی
34	ای.ب.ج.د		عادی
35	ج		عادی
36	ای		عادی
37	ب		عادی
38	ب		عادی
39	ای		عادی
40	ای.ب.ج.د		عادی

97-98-1

تعداد سوالات : تستی : ۴۰ تشریحی : ۰ | زمان آزمون (دقیقه) : تستی : ۹۰ تشریحی : ۰ | سری سوال : یک ۱

عنوان درس : اقتصاد کلان (۲)،اقتصاد کلان مقدماتی،اقتصاد کلان ۲،اقتصادکلان ۲،اقتصادکلان میانه ۲

رشته تحصیلی/کد درس : مهندسی کشاورزی (اقتصادکشاورزی)،مهندسی کشاورزی - اقتصادکشاورزی ۱۱۲۱۰۳۷ - ،علوم اقتصادی،اقتصاد اسلامی،علوم اقتصادی (نظری) ۱۲۲۱۱۲۴ - ،مهندسی کشاورزی - اقتصاد کشاورزی،اقتصاد کشاورزی ۱۲۲۱۲۰۲ - ،اقتصاد اسلامی،علوم اقتصادی گرایش اقتصاداسلامی ۱۲۲۱۲۱۸ - ،اقتصاد۱۲۲۱۳۱۰

۱- تفاوت پول با نقدینگی در کدام گزینه است؟

۱. اسکناس و مسکوک
۲. سپرده های دیداری
۳. سپرده های غیر دیداری
۴. پول الکترونیکی

۲- فرض کنید درآمد ملی اسمی برابر با ۱۰۰۰ و سطح عمومی قیمت ها برابر ۲ و سرعت گردش پول نیز برابر با ۱۰ باشد. در این صورت تقاضای حقیقی پول بر اساس نظریه تقاضای پول مکتب کمبریج چقدر است؟

۱. ۵۰
۲. ۵۰۰
۳. ۱۰۰
۴. ۲۰۰

۳- بر اساس نظریه تقاضای پول کینز، کدام گزینه صحیح است؟

۱. تقاضای پول، هم با درآمد و هم با نرخ بهره رابطه عکس دارد.
۲. تقاضای پول، هم با درآمد و هم با نرخ بهره رابطه مستقیم دارد.
۳. تقاضای پول با درآمد رابطه عکس و با نرخ بهره رابطه مستقیم دارد.
۴. تقاضای پول با درآمد رابطه مستقیم و با نرخ بهره رابطه عکس دارد.

۴- کدام گزینه برای اولین بار در نظریه تقاضای پول بامول و توبین مطرح گردید؟

۱. تقاضای معاملاتی پول با درآمد رابطه مستقیم دارد.
۲. تقاضای معاملاتی پول با نرخ بهره رابطه عکس دارد.
۳. تقاضای سفته بازی پول با درآمد رابطه مستقیم دارد.
۴. تقاضای سفته بازی پول با نرخ بهره رابطه عکس دارد.

۵- بر اساس نظریه تقاضای پول فریدمن، افزایش نرخ تورم انتظاری چه تأثیری بر مقدار تقاضای حقیقی پول خواهد داشت؟

۱. کاهش تقاضای حقیقی پول
۲. افزایش تقاضای حقیقی پول
۳. عدم تغییر در تقاضای حقیقی پول
۴. جهت تأثیر بر تقاضای حقیقی پول نامعلوم است.

۶- اگر نرخ ذخیره قانونی برابر ۰،۲ باشد، ضریب تکاثر بالقوه خلق پول چقدر است؟

۱. ۱۰
۲. ۵
۳. ۲۰
۴. ۲

۷- کدام یک جزء مصارف پایه پولی است؟

۱. خالص ذخایر ارزی بانک مرکزی
۲. ذخایر طلای بانک مرکزی
۳. اوراق قرضه دولتی
۴. ذخایر اضافی بانکها

تعداد سوالات : تستی : ۴۰ تشریحی : ۰ | زمان آزمون (دقیقه) : تستی : ۹۰ تشریحی : ۰ | سری سوال : ۱ یک

عنوان درس : اقتصاد کلان (۲)،اقتصاد کلان مقدماتی،اقتصاد کلان۲،اقتصادکلان ۲،اقتصادکلان میانه ۲

رشته تحصیلی/کد درس : مهندسی کشاورزی (اقتصادکشاورزی)،مهندسی کشاورزی - اقتصادکشاورزی ۱۱۲۱۰۳۷ - ،علوم اقتصادی،اقتصاد اسلامی،علوم اقتصادی (نظری) ۱۲۲۱۱۲۴ - ،مهندسی کشاورزی - اقتصاد کشاورزی،اقتصاد کشاورزی ۱۲۲۱۲۰۲ - ،اقتصاد اسلامی،علوم اقتصادی گرایش اقتصاداسلامی ۱۲۲۱۲۱۸ - ،اقتصاد۱۲۲۱۳۱۰

۸- اگر نرخ ذخیره اضافی افزایش یابد، حجم پول و سپرده های دیداری چه تغییری می کنند؟

۱. هر دو افزایش می یابند.
۲. هر دو کاهش می یابند.
۳. حجم پول افزایش و سپرده های دیداری کاهش می یابند.
۴. حجم پول کاهش و سپرده های دیداری افزایش می یابند.

۹- کدام یک حجم پول را افزایش می دهند؟

۱. خرید اوراق قرضه توسط بانک مرکزی
۲. افزایش نرخ تنزیل مجدد
۳. افزایش نرخ ذخیره قانونی
۴. کاهش نرخ بهره

۱۰- در کلیه نقاط روی منحنی LM ، ..... در تعادل است.

۱. بازار کالا
۲. بازار پول
۳. بازار ارز
۴. بازار کار

۱۱- اگر تابع تقاضای پول به صورت $\frac{M^d}{p} = ۱۵۰ + ۰/۴y - ۱۰r$ و تابع سرمایه گذاری نیز به صورت $I = ۵۰۰ - ۱۰۰r$ باشد، شیب منحنی LM چقدر خواهد بود؟

۱. ۰،۰۴
۲. ۰،۴
۳. ۴
۴. ۴۰

۱۲- در دام نقدینگی منحنی LM چگونه است؟

۱. صعودی است.
۲. نزولی است.
۳. عمودی است.
۴. افقی است.

۱۳- سیاست انبساطی پولی چه تأثیری بر منحنی LM دارد؟

۱. شیب LM را افزایش می دهد.
۲. شیب LM را کاهش می دهد.
۳. LM را به طرف راست و پایین جابجا می کند.
۴. LM را به طرف چپ و بالا جابجا می کند.

۱۴- با کاهش سطح عمومی قیمت ها، منحنی LM ....

۱. تغییر نمی کند.
۲. افقی می شود.
۳. به طرف چپ و بالا جابجا می شود.
۴. به طرف راست و پایین جابجا می شود.

۱۵- اگر توابع مصرف و سرمایه گذاری به صورت $C = ۱۰۰ + ۰/۸y$ و $I = ۱۰۰ - ۱۰r$ باشد، منحنی IS کدام است؟

۱. $y = ۱۰۰۰ + ۵۰r$
۲. $y = ۱۰۰۰ - ۵۰r$
۳. $y = ۴۰ + ۲r$
۴. $y = ۴۰ - ۲r$

تعداد سوالات : تستی : ۴۰ تشریحی : ۰ | زمان آزمون (دقیقه) : تستی : ۹۰ تشریحی : ۰ | سری سوال : ۱ یک

عنوان درس: اقتصاد کلان (۲)،اقتصاد کلان مقدماتی،اقتصاد کلان ۲،اقتصادکلان ۲،اقتصادکلان میانه ۲

رشته تحصیلی/کد درس: مهندسی کشاورزی (اقتصادکشاورزی)،مهندسی کشاورزی - اقتصادکشاورزی ۱۱۲۱۰۳۷ - ،علوم اقتصادی،اقتصاد اسلامی،علوم اقتصادی (نظری) ۱۲۲۱۱۲۴ - ،مهندسی کشاورزی - اقتصاد کشاورزی،اقتصاد کشاورزی ۱۲۲۱۲۰۲ - ،اقتصاد اسلامی،علوم اقتصادی گرایش اقتصاداسلامی ۱۲۲۱۲۱۸ - ،اقتصاد۱۲۲۱۳۱۰

۱۶- در کلیه نقاط سمت چپ و پایین منحنی IS کدام وضعیت برقرار است؟

۱. اضافه تقاضا در بازار کالا
۲. اضافه عرضه در بازار کالا
۳. اضافه تقاضا در بازار پول
۴. اضافه عرضه در بازار پول

۱۷- اگر سرمایه گذاری نسبت به نرخ بهره بی نهایت باکشش باشد، در این صورت .....

۱. IS شیب مثبت دارد.
۲. IS شیب منفی دارد.
۳. IS عمودی است.
۴. IS افقی است.

۱۸- اگر دولت، مالیات های ثابت را افزایش دهد، در این صورت .....

۱. منحنی IS به طرف راست و بالا جابجا می شود.
۲. منحنی IS به طرف چپ و پایین جابجا می شود.
۳. منحنی LM به طرف راست و پایین جابجا می شود.
۴. منحنی LM به طرف چپ و بالا جابجا می شود.

۱۹- با افزایش ثروت حقیقی جامعه، منحنی IS چه تغییری می کند؟

۱. پرشیب تر می شود.
۲. کم شیب تر می شود.
۳. به طرف راست و بالا جابجا می شود.
۴. به طرف چپ و پایین جابجا می شود.

۲۰- سیاست مالی انبساطی در چارچوب تحلیل $IS-LM$، چه تأثیری بر درآمد ملی و نرخ بهره دارد؟

۱. هر دو را افزایش می دهد.
۲. هر دو را کاهش می دهد.
۳. درآمد ملی را کاهش و نرخ بهره را افزایش می دهد.
۴. درآمد ملی را افزایش و نرخ بهره را کاهش می دهد.

۲۱- ترکیب سیاست پولی انبساطی و مالی انقباضی در شرایط عادی منحنی های IS و LM ، چه تأثیری بر درآمد ملی دارد؟

۱. افزایش می دهد.
۲. کاهش می دهد.
۳. ثابت می ماند.
۴. نامشخص است.

۲۲- سیاست تطابق سازی یا همسازی پول کدام است؟

۱. افزایش مخارج دولت وکاهش همزمان عرضه حقیقی پول
۲. کاهش مخارج دولت وافزایش همزمان عرضه حقیقی پول
۳. افزایش مخارج دولت و افزایش همزمان عرضه حقیقی پول
۴. کاهش مخارج دولت و کاهش همزمان عرضه حقیقی پول

۲۳- در حالت دیدگاه کلاسیک LM ، .....

۱. سیاست پولی بیشترین کارایی را دارد.
۲. سیاست مالی بیشترین کارایی را دارد.
۳. هر دو سیاست پولی و مالی کارایی یکسان دارند.
۴. هر دو سیاست پولی و مالی عدم کارایی دارند.

تعداد سوالات : تستی : ۴۰ **تشریحی :** ۰ | **زمان آزمون (دقیقه) : تستی :** ۹۰ **تشریحی :** ۰ | **سری سوال :** ۱ یک

عنـــوان درس : اقتصاد کلان (۲)،اقتصاد کلان مقدماتی،اقتصاد کلان۲،اقتصادکلان ۲،اقتصادکلان میانه ۲

رشته تحصیلی/کد درس : مهندسی کشاورزی (اقتصادکشاورزی)،مهندسی کشاورزی - اقتصادکشاورزی ۱۱۲۱۰۳۷ - ،علوم اقتصادی،اقتصاد اسلامی،علوم اقتصادی (نظری) ۱۲۲۱۱۲۴ - ،مهندسی کشاورزی - اقتصاد کشاورزی،اقتصاد کشاورزی ۱۲۲۱۲۰۲ - ،اقتصاد اسلامی،علوم اقتصادی گرایش اقتصاداسلامی ۱۲۲۱۲۱۸ - ،اقتصاد۱۲۲۱۳۱۰

۲۴- در کدام حالت سیاست مالی بیشترین کارایی و سیاست پولی فاقد کارایی است؟

۱. LM عمودی یا ISافقی
۲. LM افقی یا ISعمودی
۳. LM عمودی یا ISعمودی
۴. LM افقی یا IS افقی

۲۵- در هر نقطه روی منحنی BP ، کدام گزینه درست است؟

۱. بازار پول در تعادل است.
۲. بازار کالا در تعادل است.
۳. بازار ارز در تعادل است.
۴. بازارکار در تعادل است.

۲۶- کدام یک صادرات را کاهش می دهد؟

۱. افزایش نرخ ارز
۲. افزایش درآمد خارجیان
۳. افزایش قیمت کالاهای خارجی
۴. افزایش قیمت کالاهای داخلی

۲۷- در اقتصادچهار بخشی نسبت به مدل سه بخشی، کدام گزینه درست است؟

۱. IS پرشیب تر است.
۲. IS کم شیب تر است.
۳. LM پرشیب تر است.
۴. LM کم شیب تر است.

۲۸- صادرات کالا و خدمات چگونه در تراز پرداخت ها ثبت می شود؟

۱. حساب سرمایه - بدهکار
۲. حساب سرمایه - بستانکار
۳. حساب جاری- بدهکار
۴. حساب جاری - بستانکار

۲۹- در نقاط سمت راست و پایین منحنی BPکدام وضعیت برقرار است؟

۱. اضافه تقاضای ارز
۲. اضافه عرضه ارز
۳. تعادل ارز
۴. مازاد تراز پرداختها

۳۰- کدام منحنی از تقاطع IS و LM به دست می آید؟

۱. عرضه کل
۲. تقاضای کل
۳. عرضه نیروی کار
۴. عرضه ارز

۳۱- هر عاملی که IS را به طرف راست منتقل کند، .....

۱. عرضه کل را به طرف راست منتقل می کند.
۲. عرضه کل را به طرف چپ منتقل می کند.
۳. تقاضای کل را به طرف راست منتقل می کند.
۴. تقاضای کل را به طرف چپ منتقل می کند.

تعداد سوالات : تستی : ۴۰ **تشریحی :** ۰ | **زمان آزمون (دقیقه) : تستی :** ۹۰ **تشریحی :** ۰ | **سری سوال :** ۱ یک

عنـــوان درس : اقتصاد کلان (۲)،اقتصاد کلان مقدماتی،اقتصاد کلان۲،اقتصادکلان ۲،اقتصادکلان میانه ۲

رشته تحصیلی/کد درس : مهندسی کشاورزی (اقتصادکشاورزی)،مهندسی کشاورزی - اقتصادکشاورزی ۱۱۲۱۰۳۷ - ،علوم اقتصادی،اقتصاد اسلامی،علوم اقتصادی (نظری) ۱۲۲۱۱۲۴ - ،مهندسی کشاورزی - اقتصاد کشاورزی،اقتصاد کشاورزی ۱۲۲۱۲۰۲ - ،اقتصاد اسلامی،علوم اقتصادی گرایش اقتصاداسلامی ۱۲۲۱۲۱۸ - ،اقتصاد۱۲۲۱۳۱۰

۳۲- در دام نقدینگی، .....

۱. تقاضای کل عمودی است.
۲. تقاضای کل افقی است.
۳. عرضه کل عمودی است.
۴. عرضه کل افقی است.

۳۳- منحنی عرضه کل از تعادل کدام بازار استخراج می شود؟

۱. بازار پول
۲. بازار کار
۳. بازار ارز
۴. بازار کالا

۳۴- عرضه کل کلاسیک چگونه است؟

۱. افقی
۲. عمودی
۳. نزولی
۴. صعودی

۳۵- کدام گزینه، از ویژگی های دیدگاه کینزی است؟

۱. انعطاف پذیری دستمزدهای اسمی
۲. انعطاف پذیری قیمت ها
۳. عدم توهم پولی
۴. توهم ناقص پولی

۳۶- پیشرفت تکنولوژی کدام منحنی را جابجا می کند؟

۱. تقاضای کل به طرف راست
۲. تقاضای کل به طرف چپ
۳. عرضه کل به طرف راست
۴. عرضه کل به طرف چپ

۳۷- کدام گزینه در مورد سیاست پولی از دیدگاه کلاسیک درست است؟

۱. افزایش قیمت ها بیشتر از افزایش دستمزدهای اسمی است.
۲. افزایش قیمت ها کمتر از افزایش دستمزدهای اسمی است.
۳. افزایش قیمت ها برابر افزایش دستمزدهای اسمی است.
۴. افزایش قیمت ها برابر افزایش دستمزدهای حقیقی است.

۳۸- از دید گاه کینزی، سیاست پولی چه تاثیری بر متغیرهای اقتصاد دارد؟

۱. فقط متغیرهای اسمی را تغییر می دهد.
۲. فقط متغیرهای حقیقی را تغییر می دهد.
۳. هم متغیرهای اسمی و هم متغیرهای حقیقی را تغییر می دهد.
۴. متغیرهای اسمی و متغیرهای حقیقی را تغییر نمی دهد.

تعداد سوالات : تستی : ۴۰ تشریحی : ۰ | زمان آزمون (دقیقه) : تستی : ۹۰ تشریحی : ۰ | سری سوال : ۱ یک

عنوان درس : اقتصاد کلان (۲)،اقتصاد کلان مقدماتی،اقتصاد کلان ۲،اقتصادکلان ۲،اقتصادکلان میانه ۲

رشته تحصیلی/کد درس : مهندسی کشاورزی (اقتصادکشاورزی)،مهندسی کشاورزی - اقتصادکشاورزی ۱۱۲۱۰۳۷ - ،علوم اقتصادی،اقتصاد اسلامی،علوم اقتصادی (نظری) ۱۲۲۱۱۲۴ - ،مهندسی کشاورزی - اقتصاد کشاورزی،اقتصاد کشاورزی ۱۲۲۱۲۰۲ - ،اقتصاد اسلامی،علوم اقتصادی گرایش اقتصاداسلامی ۱۲۲۱۲۱۸ - ،اقتصاد۱۲۲۱۳۱۰

۳۹- منحنی فیلیپس کوتاه مدت چه نکته ای را بیان می کند؟

۱. بین تورم و بیکاری رابطه عکس وجود دارد.
۲. بین تورم و بیکاری رابطه مستقیم وجود دارد.
۳. بین تورم و بیکاری رابطه ای وجود ندارد.
۴. بین تورم و اشتغال رابطه عکس وجود دارد.

۴۰- کدام نوع بیکاری بر اثر رکود اقتصادی ایجاد می شود؟

۱. بیکاری فصلی
۲. بیکاری ادواری
۳. بیکاری ساختاری
۴. بیکاری اصطکاکی

1221310 - 97-98-1

	وضعیت کلید	پاسخ صحیح	شماره سوال
عادي		ج	۱
عادي		الف	۲
عادي		د	۳
عادي		ب	۴
عادي		الف	۵
عادي		ب	۶
عادي		د	۷
عادي		الف،ب،ج،د	۸
عادي		الف	۹
عادي		ب	۱۰
عادي		الف	۱۱
عادي		د	۱۲
عادي		ج	۱۳
عادي		د	۱۴
عادي		ب	۱۵
عادي		الف	۱۶
عادي		د	۱۷
عادي		ب	۱۸
عادي		ج	۱۹
عادي		الف،ب،ج،د	۲۰
عادي		د	۲۱
عادي		ج	۲۲
عادي		الف	۲۳
عادي		ب	۲۴
عادي		ج	۲۵
عادي		د	۲۶
عادي		الف	۲۷
عادي		د	۲۸
عادي		الف	۲۹
عادي		ب	۳۰
عادي		ج	۳۱
عادي		الف	۳۲
عادي		ب	۳۳
عادي		ب	۳۴
عادي		الف،ب،ج،د	۳۵
عادي		ج	۳۶
عادي		الف،ب،ج،د	۳۷
عادي		ج	۳۸
عادي		الف	۳۹
عادي		ب	۴۰

96-97-3

تعداد سوالات : تستی : ۴۰ **تشریحی :** ۰ | **زمان آزمون (دقیقه) : تستی :** ۹۰ **تشریحی :** ۰ | **سری سوال :** یک ۱

عنـــوان درس : اقتصاد کلان (۲)،اقتصاد کلان مقدماتی،اقتصاد کلان۲،اقتصادکلان ۲،اقتصادکلان میانه ۲

رشته تحصیلی/کد درس : مهندسی کشاورزی (اقتصادکشاورزی)،مهندسی کشاورزی - اقتصادکشاورزی ۱۱۲۱۰۳۷ - ،علوم اقتصادی (نظری)،علوم اقتصادی،اقتصاد اسلامی ۱۲۲۱۱۲۴ - ،مهندسی کشاورزی - اقتصاد کشاورزی،اقتصاد کشاورزی ۱۲۲۱۲۰۲ - ،علوم اقتصادی گرایش اقتصاداسلامی،اقتصاد اسلامی ۱۲۲۱۲۱۸ - ،اقتصاد۱۲۲۱۳۱۰

۱- پول با کدام‌یک از موارد زیر برابر می‌گردد؟

۱. اسکناس و مسکوک و سپرده دیداری اشخاص
۲. سپرده های غیر دیداری اشخاص
۳. سپرده های کوتاه مدت اشخاص
۴. سپرده های قرض الحسنه اشخاص

۲- حسابهای بانکی که با استفاده از چک قابل استفاده نیستند عبارت است از:

۱. نقدینگی
۲. سپرده های دیداری
۳. سپرده های غیر دیداری
۴. گواهینامه سپرده

۳- کدام یک از موارد زیر جزو وظایف پول نمی باشد؟

۱. تهاتر کالایی
۲. ذخیره ارزش
۳. واحد شمارش
۴. وسیله مبادله

۴- در اقتصاد کلان تقاضای پول را معادل ..... تعریف می کنند.

۱. هزینه کردن پول
۲. سفته بازی پول
۳. نگهداری پول
۴. تقاضای کالا یا خدمت

۵- اگر عرضه پول ۲۰۰، سطح قیمت ها برابربا ۴ و مقدار تولید برابر با ۲۰۰ باشد،سرعت گردش پول برابر است با:

۱. ۴
۲. ۱۰
۳. ۸۰
۴. ۲۰

۶- ..... ضریبی از درامد حقیقی است و این ضریب چیز ی جز عکس سرعت گردش پول نیست.

۱. تقاضای اسمی پول
۲. تقاضای جاری پول
۳. تقاضای حقیقی پول
۴. تقاضای سفته بازی پول

۷- دلایل یا انگیزه نگهداری پول از حیث نظریه تقاضای پول کینز،کدام یک از موارد را شامل نمی شود؟

۱. انگیزه معاملاتی
۲. انگیزه بورس بازی
۳. انگیزه انحصاری
۴. انگیزه احتیاطی

۸- کینز معتقد است که تقاضای پول

۱. برابر است با تقاضای سفته بازی،معاملاتی و احتیاطی
۲. با نرخ بهره رابطه معکوس و با درآمد ملی رابطه مستقیم دارد
۳. در دام نقدینگی، نسبت به نرخ بهره کشش بی نهایت دارد
۴. هر سه مورد

تعداد سوالات : تستی : ۴۰ تشریحی : ۰ | زمان آزمون (دقیقه) : تستی : ۹۰ تشریحی : ۰ | سری سوال : ۱ یک

عنوان درس : اقتصاد کلان (۲)،اقتصاد کلان مقدماتی،اقتصاد کلان۲،اقتصادکلان ۲،اقتصادکلان میانه ۲

رشته تحصیلی/کد درس : مهندسی کشاورزی (اقتصادکشاورزی)،مهندسی کشاورزی - اقتصادکشاورزی ۱۱۲۱۰۳۷ - ،علوم اقتصادی (نظری)،علوم اقتصادی،اقتصاد اسلامی ۱۲۲۱۱۲۴ - ،مهندسی کشاورزی - اقتصاد کشاورزی،اقتصاد کشاورزی ۱۲۲۱۲۰۲ - ،علوم اقتصادی گرایش اقتصاداسلامی،اقتصاد اسلامی ۱۲۲۱۲۱۸ - ،اقتصاد۱۲۲۱۳۱۰

۹- درکدام‌یک از موارد زیر تفاوت ماهیتی چندانی بین دو نظریه تقاضای پولی کینز و کمبریج وجود ندارد.

۱. تقاضای احتیاطی پول
۲. تقاضای بورس بازی
۳. تقاضای معاملاتی حقیقی پول
۴. تقاضای رجحان نقدینگی و معاملاتی

۱۰- نظریه تقاضای معاملاتی با کدامیک از گزینه ها برابر است؟

۱. $L_1=KY$
۲. $L_1=hr$
۳. $L_1=\bar{L}+ky$
۴. $L_1=\bar{L}-hr$

۱۱- کدام‌یک از موارد زیر در ارتباط با تحلیل تقاضای سفته بازی کینز صحیح نیست؟

۱. فقط دو نوع دارایی پول و اوراق قرضه وجود داشت
۲. بازدهی پول صفر نبود
۳. صرفا دو نوع ذخیره ارزش وجود داشت
۴. اوراق قرضه دارای دو نوع بازدهی داشت یکی درامد بهره و دیگری سود و زیان ناشی از تغییر قیمت

۱۲- نرخ بهره بحرانی آن است که :

۱. کل با زده اوراق قرضه درآن نرخ بهره، مثبت باشد
۲. کل با زده اوراق قرضه درآن نرخ بهره، منفی باشد
۳. کل با زده اوراق قرضه درآن نرخ بهره، صفر باشد
۴. کل بازده پول در آن نرخ بهره مثبت باشد

۱۳- کدام یک از موارد زیر در خصوص تقاضای سفته بازی کینز صحیح نیست؟

۱. منحنی تقاضای سفته بازی پول یک منحنی نزولی است
۲. تقاضای سفته بازی پول با نرخ بهره رابطه عکس دارد
۳. هرچه نرخ بهره بالاتر باشد تعداد افراد بیشتری پول راکد نگهداری میکنند
۴. هرچه نرخ بهره بالاتر باشد تقاضای سفته بازی پول کاهش می یابد

۱۴- " تقاضای معاملاتی پول نه تنها تابع سطح درآمد است بلکه تابع نرخ بهره نیز می باشد" مربوط به کدام نظریه می باشد؟

۱. نظریه تقاضای پول کینز
۲. نظریه تقاضای پول کمبریج
۳. نظریه تقاضای معاملاتی با مول - توبین
۴. تقاضای پول فیشر

تعداد سوالات : تستی : ۴۰ تشریحی : ۰ | زمان آزمون (دقیقه) : تستی : ۹۰ تشریحی : ۰ | سری سوال : ۱ یک

عنوان درس : اقتصاد کلان (۲)،اقتصاد کلان مقدماتی،اقتصاد کلان۲،اقتصادکلان ۲،اقتصادکلان میانه ۲

رشته تحصیلی/کد درس : مهندسی کشاورزی (اقتصادکشاورزی)،مهندسی کشاورزی - اقتصادکشاورزی ۱۱۲۱۰۳۷ - ،علوم اقتصادی (نظری)،علوم اقتصادی،اقتصاد اسلامی ۱۲۲۱۱۲۴ - ،مهندسی کشاورزی - اقتصاد کشاورزی،اقتصاد کشاورزی ۱۲۲۱۲۰۲ - ،علوم اقتصادی گرایش اقتصاداسلامی،اقتصاد اسلامی ۱۲۲۱۲۱۸ - ،اقتصاد۱۲۲۱۳۱۰

۱۵- کدام‌یک از موارد در ارتباط با نظریه تقاضای پول فرید من صحیح نیست؟

۱. بجای صحبت از تقاضای سفته بازی و معاملاتی از کل تقاضای پول می کند

۲. دارایی ها را صرفا به پول و اوراق قرضه محدود می کند

۳. پول دارای بازدهی صفر نیست

۴. سپرده های بلند مدت بانکی،اوراق قرضه،سهام، کالاهای بادوام و مستغلات و غیره می توانند به عنوان جانشین پول مطرح باشند

۱۶- کدام یک از ویژگی های زیر مربوط به نظریه تقاضای پولی فریدمن نمی باشد؟

۱. بجای صحبت از تقاضای معاملاتی و سفته بازی،صحبت از کل تقاضای پول است

۲. دارایی ها را صرفا به پول و اوراق قرضه محدود نمی کند

۳. دارایی ها را صرفا به پول و اوراق قرضه محدود می کند

۴. پول برای مصرف کنندگان همانند یک کالا دارای مطلوبیت و لذت روحی است

۱۷- کالایی که به عنوان پول و وسیله مبادلاتی انتخاب می شود، باید به طور طبیعی واجد برخی ویژگی ها باشد، کدام یک مصداقیت ندارد؟

۱. عدم فساد پذیری سریع
۲. سبک بودن
۳. سهولت در حمل و نقل
۴. عدم قابلیت تبدیل به واحد های کوچکتر

۱۸- اگر ضریب تکاثر بالقوه پول برابر با ۴ باشد، نرخ ذخیره قانونی برابر است با :

۱. ۰،۲۵
۲. ۴
۳. ۰،۵
۴. ۵

۱۹- کدام یک از موارد زیر جزو منابع پایه پولی ترازنامه بانک مرکزی محسوب نمی شود؟

۱. ذخایر اضافی بانکی

۲. ذخایر طلای بانک مرکزی

۳. خالص ذخایر ارزی

۴. وام ها و اعتبارات اعطایی بانک مرکزی به بانک های تجاری

۲۰- کدام یک از موارد زیر جزو عوامل موثر بر افزایش عرضه پول نیست؟

۱. کاهش پایه پولی
۲. کاهش نسبت اسکناس به سپرده
۳. کاهش نرخ ذخایر قانونی
۴. کاهش نرخ ذخیره اضافی

تعداد سوالات : تستی : ۴۰ تشریحی : ۰ | زمان آزمون (دقیقه) : تستی : ۹۰ تشریحی : ۰ | سری سوال : ۱ یک

عنوان درس : اقتصاد کلان (۲)،اقتصاد کلان مقدماتی،اقتصاد کلان۲،اقتصادکلان ۲،اقتصادکلان میانه ۲

رشته تحصیلی/کد درس : مهندسی کشاورزی (اقتصادکشاورزی)،مهندسی کشاورزی - اقتصادکشاورزی ۱۱۲۱۰۳۷ - ،علوم اقتصادی (نظری)،علوم اقتصادی،اقتصاد اسلامی ۱۲۲۱۱۲۴ - ،مهندسی کشاورزی - اقتصاد کشاورزی،اقتصاد کشاورزی ۱۲۲۱۲۰۲ - ،علوم اقتصادی گرایش اقتصاداسلامی،اقتصاد اسلامی ۱۲۲۱۲۱۸ - ،اقتصاد۱۲۲۱۳۱۰

۲۱- اگر سطح درآمد ۲۰۰۰ واحد و تقاضای حقیقی پول و عرضه حقیقی پول به صورت زیر باشد

$$\frac{M}{P}=۵۰۰-۲۰۰r \quad \frac{MS}{P}=۲۵۰$$

در این صورت نرخ بهره تعادلی در اقتصاد برابراست :

۱. ۱۲.۵ ۲. ۳ ۳. ۱.۵ ۴. ۱.۲۵

۲۲- منحنی LM بیانگر ترکیب هایی از درآمد ملی و نرخ بهره است که :

۱. بازار کالایی اقتصاد را به تعادل می رساند
۲. بازار پولی اقتصاد را به تعادل می رساند
۳. کل اقتصاد را به تعادل می رساند
۴. تجارت خارجی را به تعادل می رساند

۲۳- کدام یک از موارد زیر صحیح نیست؟

۱. در تمام نقاط روی LM بازار پولی تعادل دارد
۲. در تمام نقاط سمت راست و پایین LM بازار پول اضافه تقاضا دارد
۳. در تمام نقاط سمت چپ و بالای LM بازار پول اضافه تقاضا وجود دارد
۴. در تمام نقاط سمت راست و پایین LM بازار پول کمبود عرضه پول دارد

۲۴- شیب منحنی LM با کدام یک ازعبارت های زیر برابر است؟

۱. $\frac{۱}{h}$ ۲. $\frac{۱}{k}$ ۳. $\frac{k}{h}$ ۴. $\frac{۱}{h}$

۲۵- در حالت کلاسیک منحنی LM به شکل ..... است.

۱. صعودی ۲. نزولی ۳. عمودی ۴. افقی

۲۶- دام نقدینگی بیانگر کدام گزینه می باشد؟

۱. کشش تقاضای پول نسبت به نرخ بهره واحد است
۲. کشش تقاضای پول نسبت به نرخ بهره صفر است
۳. قیمت اوراق قرضه بسیار پایین باشد
۴. نرخ بهره در حد پایین قرار گیرد

۲۷- شیب منحنی LM از دیدگاه کلاسیک به شکل:

۱. افقی است ۲. عمودی است ۳. صعودی است ۴. نزولی است

تعداد سوالات : تستی : ۴۰ تشریحی : ۰ | زمان آزمون (دقیقه) : تستی : ۹۰ تشریحی : ۰ | سری سوال : ۱ یک

عنوان درس : اقتصاد کلان (۲)،اقتصاد کلان مقدماتی،اقتصاد کلان۲،اقتصادکلان ۲،اقتصادکلان میانه ۲

رشته تحصیلی/کد درس : مهندسی کشاورزی (اقتصادکشاورزی)،مهندسی کشاورزی - اقتصادکشاورزی ۱۱۲۱۰۳۷ - ،علوم اقتصادی (نظری)،علوم اقتصادی،اقتصاد اسلامی ۱۲۲۱۱۲۴ - ،مهندسی کشاورزی - اقتصاد کشاورزی،اقتصاد کشاورزی ۱۲۲۱۲۰۲ - ،علوم اقتصادی گرایش اقتصاداسلامی،اقتصاد اسلامی ۱۲۲۱۲۱۸ - ،اقتصاد۱۲۲۱۳۱۰

۲۸- در نقاط بالا و راست منحنی IS کدام حالت زیر برقرار است؟

۱. مازاد عرضه کالا ۲. کمبود عرضه کالا ۳. اضافه تقاضای کالا ۴. تعادل بازار کالا

۲۹- شیب منحنی IS در حالت عادی چگونه است

۱. مثبت است ۲. منفی است

۳. هم مثبت وهم منفی است ۴. افقی است

۳۰- هر آنچه که ضریب تکاثر مدلهای ساده کینزی را افزایش دهد IS را ..... می کند.

۱. پر شیب تر ۲. کم شیب تر ۳. بدون تغییر ۴. موازی

۳۱- کدام یک از موارد با ترکیب سیاست پولی و مالی مرتبط نمی شود؟

۱. کاهش هزینه های دولت ۲. افزایش عرضه حقیقی پول

۳. سیاست همسازی پول ۴. سیست تطابق سازی

۳۲- در ارتباط با حساب جاری کدام گزینه درست است؟

۱. ورود و خروج سرمایه و کالا بحث می شود ۲. ورود و خروج کالا و خدمات بحث می شود

۳. ورود کالا و و خروج سرمایه بحث می شود ۴. خروج کالا و ورود سرمایه بحث می شود

۳۳- مفهوم خالص صادرات یعنی چه؟

۱. مجموع صادرات و وردات ۲. مابه التفاوت صادرات و وردات

۳. همان خالص سرمایه است ۴. بیانگر ورود سرمایه است

۳۴- کدام یک از موارد جزو مهمترین عوامل موثر بر شیب AD به حساب نمی آید؟

۱. نرخ مالیات ۲. ضریب درآمد عرضه پول

۳. میل نهایی به مصرف ۴. ضریب نرخ بهره سرمایه گذاری

۳۵- منحنی تقاضای کل در کدام یک ازموارد زیر کاملا عمودی است؟

۱. IS عمودی و LM افقی ۲. LM افقی و IS صعودی

۳. LM و IS شیب منفی داشته باشد ۴. IS و LM شیب مثبت داشته باشد

تعداد سوالات : تستی : ۴۰ **تشریحی :** ۰ **زمان آزمون (دقیقه) : تستی :** ۹۰ **تشریحی :** ۰ **سری سوال :** ۱ یک

عنـــوان درس : اقتصاد کلان (۲)،اقتصاد کلان مقدماتی،اقتصاد کلان۲،اقتصادکلان ۲،اقتصادکلان میانه ۲

رشته تحصیلی/کد درس : مهندسی کشاورزی (اقتصادکشاورزی)،مهندسی کشاورزی - اقتصادکشاورزی ۱۱۲۱۰۳۷ - ،علوم اقتصادی (نظری)،علوم اقتصادی،اقتصاد اسلامی ۱۲۲۱۱۲۴ - ،مهندسی کشاورزی - اقتصاد کشاورزی،اقتصاد کشاورزی ۱۲۲۱۲۰۲ - ،علوم اقتصادی گرایش اقتصاداسلامی،اقتصاد اسلامی ۱۲۲۱۲۱۸ - ،اقتصاد۱۲۲۱۳۱۰

۳۶- کدامیک از موارد جزو عوامل تعیین کننده شیب منحنی AS نمی باشد؟

۱. منحنی عرضه نیروی کار
۲. تابع تولید
۳. منحنی تقاضای نیروی کار
۴. فرض مربوط به عدم توهم و عدم چسبندگی دستمزد و قیمت

۳۷- اثر جایگزینی کامل به چه مفهوم می باشد؟

۱. معادل افزایش مخارج دولتی دقیقا سرمایه گذاری خصوصی افزایش می یابد
۲. معادل افزایش مخارج دولتی دقیقا سرمایه گذاری خصوصی کاهش می یابد
۳. افزایش مخارج دولتی کمتر از سرمایه گذاری خصوصی باشد
۴. افزایش سرمایه گذاری خصوصی کمتر از مخارج دولتی باشد

۳۸- بیکاری که بر اثر استهلاک مهارتهای شغلی کارگران و عدم سازگاری مهارت کارگران با فن آوری جدید و فرصت های شغلی موجود بوجود می آید عبارت است از :

۱. بیکاری ساختاری ۲. بیکاری فصلی ۳. بیکاری اصطکاکی ۴. بیکاری سیکلی

۳۹- بیکاری که بر اثر رکود فعالیت های اقتصادی طی ادوار تجاری بوجود می آید به بیکاری ..... موسوم است.

۱. بیکاری اصطکاکی ۲. بیکاری سیکلی ۳. بیکاری ساختاری ۴. بیکاری فصلی

۴۰- اگر تعداد بیکاران برابر با ۲۰۰ و تعدادشا غلین برابر با ۸۰۰ باشد،نرخ بیکاری برابر است با :

۱. ۴۰ درصد ۲. ۲۰ درصد ۳. ۲۵ درصد ۴. ۱۰ درصد

1221310 - 96-97-3

شماره سوال	پاسخ صحیح	وضعیت کلید	
۱	الف		عادي
۲	ج		عادي
۳	الف		عادي
۴	ج		عادي
۵	الف		عادي
۶	ج		عادي
۷	ج		عادي
۸	د		عادي
۹	ج		عادي
۱۰	ج		عادي
۱۱	ب		عادي
۱۲	ج		عادي
۱۳	ج		عادي
۱۴	ج		عادي
۱۵	ب		عادي
۱۶	ج		عادي
۱۷	د		عادي
۱۸	الف		عادي
۱۹	الف		عادي
۲۰	الف		عادي
۲۱	د		عادي
۲۲	ب		عادي
۲۳	ج		عادي
۲۴	ج		عادي
۲۵	ج		عادي
۲۶	د		عادي
۲۷	ب		عادي
۲۸	الف		عادي
۲۹	ب		عادي
۳۰	ب		عادي
۳۱	الف		عادي
۳۲	ب		عادي
۳۳	ب		عادي
۳۴	ب		عادي
۳۵	الف		عادي
۳۶	د		عادي
۳۷	ب		عادي
۳۸	الف		عادي
۳۹	ب		عادي
۴۰	ب		عادي

96-97-2

تعداد سوالات : تستی : ۴۰ تشریحی : ۰ | زمان آزمون (دقیقه) : تستی : ۹۰ تشریحی : ۰ | سری سوال : یک ۱

عنوان درس : اقتصاد کلان (۲)،اقتصاد کلان مقدماتی،اقتصاد کلان ۲،اقتصادکلان ۲،اقتصادکلان میانه ۲

رشته تحصیلی/کد درس : مهندسی کشاورزی (اقتصادکشاورزی)،مهندسی کشاورزی - اقتصادکشاورزی ۱۱۲۱۰۳۷ - ،علوم اقتصادی (نظری)،علوم اقتصادی،اقتصاد اسلامی ۱۲۲۱۱۲۴ - ،مهندسی کشاورزی - اقتصاد کشاورزی،اقتصاد کشاورزی ۱۲۲۱۲۰۲ - ،علوم اقتصادی گرایش اقتصاداسلامی،اقتصاد اسلامی ۱۲۲۱۲۱۸ - ،اقتصاد۱۲۲۱۳۱۰

استفاده از ماشین حساب ساده مجاز است

۱- در نظریه تقاضای پول مکتب کمبریج، با افزایش سطح قیمتها تقاضای پول چه تغییری می کند؟

۱. تقاضای حقیقی پول ثابت می ماند.
۲. تقاضای حقیقی پول به همان نسبت افزایش می یابد.
۳. تقاضای حقیقی پول به همان نسبت کاهش می یابد.
۴. تقاضای اسمی پول به همان نسبت کاهش می یابد.

۲- در نظریه تقاضای سفته بازی کینز، نرخ بهره بحرانی چه مفهومی دارد؟

۱. نرخ بهره ای است که بازدهی نگهداری پول را صفر می کند.
۲. نرخ بهره ای است که بازدهی نگهداری پول را حداکثر می کند.
۳. نرخ بهره ای است که بازدهی اوراق قرضه را صفر می کند.
۴. نرخ بهره ای است که بازدهی اوراق قرضه را حداکثر می کند.

۳- در کدام یک از نظریه های تقاضای پول، بازدهی نگهداری پول صفر نیست بلکه مطلوبیت روانی و راحتی فراهم شده توسط آن نوعی بازدهی برای پول محسوب می شود؟

۱. تقاضای سفته بازی کینز
۲. تقاضای سفته بازی توبین
۳. تقاضای معاملاتی بامول و توبین
۴. تقاضای پول فریدمن

۴- بر اساس نظریه تقاضای معاملاتی پول بامول- توبین، با افزایش ۱۰ درصد در درآمد، تقاضای معاملاتی پول چه تغییری می کند؟

۱. ۱۰ درصد افزایش می یابد
۲. ۱۰ درصد کاهش می یابد
۳. ۵ درصد افزایش می یابد
۴. ۵ درصد کاهش می یابد

۵- بر اساس تحلیل کینز چنانچه درآمد سالانه یک برگه اوراق قرضه ۲۰۰۰ ریال و در حال حاضر نرخ بهره ۲۰ درصد باشد و انتظار بر آنست که یکسال بعد نرخ بهره ۲۵ درصد خواهد بود. قیمت انتظاری اوراق قرضه چقدر است؟

۱. ۸۰۰۰ ۲. ۱۰۰۰۰ ۳. ۲۰۰۰ ۴. ۴۰۰۰

۶- کدام گزینه بدهی بانک مرکزی محسوب می شود؟

۱. خالص ذخایر ارزی بانک مرکزی
۲. اسکناس و مسکوک در دست اشخاص
۳. اوراق قرضه دولتی
۴. وام های اعطایی بانک مرکزی به بانکهای تجاری

تعداد سوالات : تستی : ۴۰ تشریحی : ۰ | زمان آزمون (دقیقه) : تستی : ۹۰ تشریحی : ۰ | سری سوال : ۱ یک

عنوان درس : اقتصاد کلان (۲)،اقتصاد کلان مقدماتی،اقتصاد کلان۲،اقتصادکلان ۲،اقتصادکلان میانه ۲

رشته تحصیلی/کد درس : مهندسی کشاورزی (اقتصادکشاورزی)،مهندسی کشاورزی - اقتصادکشاورزی ۱۱۲۱۰۳۷ - ،علوم اقتصادی (نظری)،علوم اقتصادی،اقتصاد اسلامی ۱۲۲۱۱۲۴ - ،مهندسی کشاورزی - اقتصاد کشاورزی،اقتصاد کشاورزی ۱۲۲۱۲۰۲ - ،علوم اقتصادی گرایش اقتصاداسلامی،اقتصاد اسلامی ۱۲۲۱۲۱۸ - ،اقتصاد۱۲۲۱۳۱۰

۷- نرخ ذخیره قانونی ۱۵ درصد، نرخ ذخیره اضافی ۱۰ درصد و نسبت اسکناس و مسکوک در دست مردم به سپرده های دیداری ۲۵ درصد است. اگر بانک مرکزی پایه پولی را ۲۰۰ واحد افزایش دهد حجم پول چه تغییری می کند؟

۱. ۵۰۰ واحد افزایش می یابد
۲. ۴۰۰ واحد افزایش می یابد
۳. ۵۰۰ واحد کاهش می یابد
۴. ۴۰۰ واحد کاهش می یابد

۸- کدام گزینه سیاست انبساطی پولی محسوب می شود؟

۱. فروش اوراق قرضه دولتی توسط بانک مرکزی
۲. افزایش نرخ ذخیره قانونی
۳. کاهش نرخ تنزیل
۴. افزایش نرخ ذخیره اضافی

۹- بانکهای تجاری از چه طریق می توانند روی حجم پول تاثیر بگذارند؟

۱. تغییر نرخ ذخیره قانونی
۲. تغییر نرخ ذخیره اضافی
۳. تغییر نرخ تنزیل
۴. تغییر نسبت اسکناس و مسکوک در دست مردم به سپرده های دیداری

۱۰- کدام گزینه نرخ ذخیره اضافی بانکهای تجاری را کاهش می دهد؟

۱. افزایش نرخ تنزیل
۲. افزایش ریسک کمبود نقدینگی برای بانکهای تجاری
۳. افزایش نرخ بهره بازار
۴. هر سه مورد

۱۱- منحنی LMمکان هندسی ترکیباتی از نرخ بهره و درآمد ملی است که در آنها ... .

۱. بازار پول در تعادل است
۲. بازار کالا در تعادل است
۳. بازار پول و کالا هر دو در تعادل هستند
۴. بازار ارز در تعادل است

۱۲- با افزایش حجم پول توسط بانک مرکزی کدام گزینه اتفاق می افتد؟

۱. منحنی LM پرشیب تر می شود.
۲. منحنی LM کم شیب تر می شود
۳. منحنی LM به طرف راست انتقال می یابد
۴. منحنی LM به طرف چپ انتقال می یابد

تعداد سوالات : تستی : ۴۰ **تشریحی :** ۰ **زمان آزمون (دقیقه) : تستی :** ۹۰ **تشریحی :** ۰ **سری سوال :** ۱ یک

عنـــوان درس : اقتصاد کلان (۲)،اقتصاد کلان مقدماتی،اقتصاد کلان۲،اقتصادکلان ۲،اقتصادکلان میانه ۲

رشته تحصیلی/کد درس : مهندسی کشاورزی (اقتصادکشاورزی)،مهندسی کشاورزی - اقتصادکشاورزی ۱۱۲۱۰۳۷ - ،علوم اقتصادی (نظری)،علوم اقتصادی،اقتصاد اسلامی ۱۲۲۱۱۲۴ - ،مهندسی کشاورزی - اقتصاد کشاورزی،اقتصاد کشاورزی ۱۲۲۱۲۰۲ - ،علوم اقتصادی گرایش اقتصاداسلامی،اقتصاد اسلامی ۱۲۲۱۲۱۸ - ،اقتصاد۱۲۲۱۳۱۰

۱۳- در کدام حالت دام نقدینگی اتفاق می افتد؟

۱. تقاضای پول نسبت به نرخ بهره کاملا بی کشش باشد به طوری که منحنی LM افقی شود.

۲. تقاضای پول نسبت به نرخ بهره بی نهایت باکشش باشد به طوری که منحنی LM افقی شود.

۳. تقاضای پول نسبت به نرخ بهره کاملا بی کشش باشد به طوری که منحنی LM عمودی شود.

۴. تقاضای پول نسبت به نرخ بهره بی نهایت باکشش باشد به طوری که منحنی LM عمودی شود.

۱۴- با توجه به اطلاعات زیر اگر درآمد ملی برابر ۲۰۰۰۰ باشد نرخ بهره تعادلی در بازار پول چقدر است؟

$$\frac{Md}{P} = ۱۰۰ + ۰/۲Y - ۲۰۰R$$

$$\frac{MS}{P} = ۱۱۰۰$$

۱. ۵ ۲. ۲۰ ۳. ۱۵ ۴. -۵

۱۵- کدام گزینه درست است؟

۱. در نرخ های بهره بسیار بالا LM پرشیب تر است.

۲. در منطقه کلاسیکی LM افقی تر است.

۳. در منطقه کینزی افراطی LM عمودی است.

۴. در اشتغال کامل LM افقی تر است.

۱۶- با کاهش سطح عمومی قیمت ها کدام گزینه اتفاق می افتد؟

۱. هر دو منحنی LM و IS به طرف چپ منتقل می شوند.

۲. هر دو منحنی LM و IS به طرف راست منتقل می شوند.

۳. منحنی IS به طرف چپ و منحنی LM به طرف راست منتقل می شوند.

۴. منحنی IS به طرف راست و منحنی LM به طرف چپ منتقل می شوند.

۱۷- کدام گزینه منحنی IS را افقی تر می کند؟

۱. افزایش میل نهایی به مصرف

۲. افزایش نرخ مالیات

۳. کاهش حساسیت سرمایه گذاری نسبت به نرخ بهره

۴. افزایش مخارج دولتی

تعداد سوالات : تستی : ۴۰ تشریحی : ۰ | زمان آزمون (دقیقه) : تستی : ۹۰ تشریحی : ۰ | سری سوال : ۱ یک

عنوان درس : اقتصاد کلان (۲)،اقتصاد کلان مقدماتی،اقتصاد کلان۲،اقتصادکلان ۲،اقتصادکلان میانه ۲

رشته تحصیلی/کد درس : مهندسی کشاورزی (اقتصادکشاورزی)،مهندسی کشاورزی - اقتصادکشاورزی ۱۱۲۱۰۳۷ - ،علوم اقتصادی (نظری)،علوم اقتصادی،اقتصاد اسلامی ۱۲۲۱۱۲۴ - ،مهندسی کشاورزی - اقتصاد کشاورزی،اقتصاد کشاورزی ۱۲۲۱۲۰۲ - ،علوم اقتصادی گرایش اقتصاداسلامی،اقتصاد اسلامی ۱۲۲۱۲۱۸ - ،اقتصاد۱۲۲۱۳۱۰

۱۸- با اطلاعات زیر منحنی IS کدام است؟

$$C=۸۰۰+۰/۸YD \quad ' \quad TR=۳۰۰ \quad ' \quad T=۵۰+۰/۲۵Y \quad ' \quad I=۴۰۰-۱۰۰r \quad ' \quad G=۵۰۰$$

۱. $r=۱۹-۰/۰۰۴Y$ ۲. $r=۱۹+۰/۰۰۴Y$ ۳. $r=۴۷۵۰-۰/۰۰۴Y$ ۴. $r=۴۷۵۰+۰/۰۰۴Y$

۱۹- کدام یک از ابزارهای سیاست مالی باعث تغییر در ضریب تکاثر می شود؟

۱. مخارج دولت ۲. مالیات های مستقل ۳. نرخ مالیات ۴. پرداخت های انتقالی

۲۰- اجرای سیاست های پولی و مالی انبساطی به طور همزمان چه تاثیری بر نرخ بهره دارد؟

۱. نرخ بهره افزایش می یابد. ۲. نرخ بهره کاهش می یابد.
۳. نرخ بهره ثابت می ماند. ۴. نمی توان با قاطعیت اظهار نظر کرد

۲۱- با اطلاعات زیر ضریب تکاثر سیاست پولی چقدر است؟

$$C=۸۰۰+۰/۸YD \quad ' \quad T=۱۰۰ \quad ' \quad I=۵۰۰-۱۰۰r$$

$$\frac{Md}{P}=۱۰۰+۰/۴y-۴۰۰r$$

۱. ۵ ۲. ۲/۵ ۳. ۲ ۴. ۴

۲۲- در چه صورت ضریب تکاثر مخارج دولتی با ضریب تکاثر عرضه پول برابر است؟

۱. $b<h$ ۲. $b>h$
۳. $b=h$ ۴. به نرخ مالیات و میل نهایی به مصرف بستگی دارد

۲۳- کدام گزینه کارایی سیاست مالی را بیشتر می کنند؟

۱. کاهش k ۲. افزایش b ۳. کاهش h ۴. افزایش t

۲۴- در کدام حالت سیاست پولی بیشترین کارایی را دارد؟

۱. تقاضای پول نسبت به نرخ بهره کاملا با کشش باشد ۲. تقاضای پول نسبت به نرخ بهره بی کشش باشد
۳. سرمایه گذاری نسبت به نرخ بهره کاملا بی کشش باشد. ۴. ب و ج

تعداد سوالات : تستی : ۴۰ تشریحی : ۰ | زمان آزمون (دقیقه) : تستی : ۹۰ تشریحی : ۰ | سری سوال : ۱ یک

عنوان درس: اقتصاد کلان (۲)،اقتصاد کلان مقدماتی،اقتصاد کلان ۲،اقتصادکلان ۲،اقتصادکلان میانه ۲

رشته تحصیلی/کد درس: مهندسی کشاورزی (اقتصادکشاورزی)،مهندسی کشاورزی - اقتصادکشاورزی ۱۱۲۱۰۳۷ - ،علوم اقتصادی (نظری)،علوم اقتصادی،اقتصاد اسلامی ۱۲۲۱۱۲۴ - ،مهندسی کشاورزی - اقتصاد کشاورزی،اقتصاد کشاورزی ۱۲۲۱۲۰۲ - ،علوم اقتصادی گرایش اقتصاداسلامی،اقتصاد اسلامی ۱۲۲۱۲۱۸ - ،اقتصاد۱۲۲۱۳۱۰

۲۵- اگر درآمد ملی افزایش یابد برای حفظ تعادل تراز پرداخت ها چه اتفاقی می افتد؟

۱. واردات کاهش می یابد
۲. صادرات کاهش می یابد
۳. نرخ بهره افزایش می یابد
۴. نرخ بهره کاهش می یابد

۲۶- کدام گزینه در مورد نقاط سمت راست و پایین منحنی BP درست است؟

۱. مازاد تراز پرداخت ها واضافه عرضه ارز وجود دارد
۲. مازاد تراز پرداخت ها واضافه تقاضا ارز وجود دارد
۳. کسری تراز پرداخت ها واضافه عرضه ارز وجود دارد
۴. کسری تراز پرداخت ها واضافه تقاضای ارز وجود دارد

۲۷- اگر تلاقی IS و LM در سمت چپ و بالای منحنی BP باشددر سیستم نرخ ارز ثابت کدام گزینه اتفاق می افتد؟

۱. منحنی LM به طرف راست و پایین انتقال می یابد.
۲. منحنی BP به طرف چپ و بالا انتقال می یابد.
۳. هر دو منحنی IS و BP به طرف چپ انتقال می یابند.
۴. منحنی LM به طرف چپ و بالا انتقال می یابد.

۲۸- کدام گزینه در خصوص کارایی سیاست های پول و مالی درست است؟

۱. در سیستم نرخ ارز ثابت سیاست مالی کارایی ندارد ولی سیاست پولی کارایی زیادی دارد.
۲. در سیستم نرخ ارز ثابت سیاست پولی کارایی ندارد ولی سیاست مالی کارایی زیادی دارد.
۳. در سیستم نرخ ارز شناور سیاست پولی کارایی ندارد ولی سیاست مالی کارایی زیادی دارد.
۴. سیاست پولی در هر صورت کاراتر از سیاست مالی است.

۲۹- در سیستم نرخ ارز شناور کسری تراز پرداختها چه تاثیری بر صادرات و واردات دارد؟

۱. صادرات و واردات هر دو افزایش می یابند.
۲. صادرات و واردات هر دو کاهش می یابند.
۳. صادرات کاهش و واردات افزایش می یابد.
۴. صادرات افزایش و واردات کاهش می یابد.

۳۰- منحنی عرضه کل اقتصاد از کدام بازار بدست می آید؟

۱. بازار پول
۲. بازار کالا
۳. بازار کار
۴. بازار ارز

۳۱- در کدام یک از نظریه های تورم، در کنار تورم ، تولید و اشتغال نیز افزایش می یابد.

۱. نظریه پولی تورم
۲. نظریه تورم فشار تقاضا
۳. نظریه تورم فشار هزینه
۴. نظریه تورم ساختاری

تعداد سوالات : تستی : ۴۰ **تشریحی :** ۰ | **زمان آزمون (دقیقه) : تستی :** ۹۰ **تشریحی :** ۰ | **سری سوال :** ۱ یک

عنـــوان درس : اقتصاد کلان (۲)،اقتصاد کلان مقدماتی،اقتصاد کلان۲،اقتصادکلان ۲،اقتصادکلان میانه ۲

رشته تحصیلی/کد درس : مهندسی کشاورزی (اقتصادکشاورزی)،مهندسی کشاورزی - اقتصادکشاورزی ۱۱۲۱۰۳۷ - ،علوم اقتصادی (نظری)،علوم اقتصادی،اقتصاد اسلامی ۱۲۲۱۱۲۴ - ،مهندسی کشاورزی - اقتصاد کشاورزی،اقتصاد کشاورزی ۱۲۲۱۲۰۲ - ،علوم اقتصادی گرایش اقتصاداسلامی،اقتصاد اسلامی ۱۲۲۱۲۱۸ - ،اقتصاد۱۲۲۱۳۱۰

۳۲- کدام گزینه در مورد سیاست مالی انبساطی درست است؟

۱. منحنی IS و تقاضای کل را به طرف راست انتقال می دهد.

۲. منحنی IS و تقاضای کل را به طرف چپ انتقال می دهد.

۳. منحنی IS را به طرف راست و تقاضای کل را به طرف چپ انتقال می دهد.

۴. منحنی IS را به طرف چپ و تقاضای کل را به طرف راست انتقال می دهد.

۳۳- در صورت انعطاف پذیری قیمت ها و دستمزدهای اسمی و عدم توهم پولی، منحنی عرضه کل به چه صورت است؟

۱. عرضه کل افقی است

۲. عرضه کل عمودی است

۳. عرضه کل شیب مثبت دارد

۴. عرضه کل شیب منفی دارد

۳۴- در حالت عمومی کینزی در صورت افزایش قیمت ها کدام گزینه درست است؟

۱. دستمزدهای اسمی به اندازه افزایش قیمت ها افزایش می یابند

۲. دستمزدهای اسمی بیشتر از افزایش قیمت ها افزایش می یابند.

۳. دستمزدهای اسمی کمتر از افزایش قیمت ها افزایش می یابند.

۴. دستمزدهای اسمی ثابت می مانند

۳۵- کدام گزینه در مورد شیب منحنی عرضه کل درست است؟

۱. هرچه منحنی عرضه نیروی کار کم شیب تر باشد منحنی عرضه کل نیز کم شیب تر است.

۲. هرچه منحنی تقاضای نیروی کار کم شیب تر باشد منحنی عرضه کل نیز کم شیب تر است.

۳. هرچه منحنی تابع تولید پر شیب تر باشد منحنی عرضه کل نیز کم شیب تر است.

۴. هر سه مورد

۳۶- اگر تابع تولید $y = ۲۰N$ تابع عرضه نیروی کار $W = ۱۰ + ۴N$و تابع تقاضای نیروی کار $W = ۲۰P - ۲N$باشد در صورتی که سطح عمومی قیمت ها برابر ۵ باشد مقدار عرضه کل چقدر است؟

۱. ۳۰۰ ۲. ۱۵ ۳. ۱۷۰ ۴. ۷۰

تعداد سوالات : تستی : ۴۰ **تشریحی :** ۰ **زمان آزمون (دقیقه) : تستی :** ۹۰ **تشریحی :** ۰ **سری سوال :** ۱ یک

عنـــوان درس : اقتصاد کلان (۲)،اقتصاد کلان مقدماتی،اقتصاد کلان۲،اقتصادکلان ۲،اقتصادکلان میانه ۲

رشته تحصیلی/کد درس : مهندسی کشاورزی (اقتصادکشاورزی)،مهندسی کشاورزی - اقتصادکشاورزی ۱۱۲۱۰۳۷ - ،علوم اقتصادی (نظری)،علوم اقتصادی،اقتصاد اسلامی ۱۲۲۱۱۲۴ - ،مهندسی کشاورزی - اقتصاد کشاورزی،اقتصاد کشاورزی ۱۲۲۱۲۰۲ - ،علوم اقتصادی گرایش اقتصاداسلامی،اقتصاد اسلامی ۱۲۲۱۲۱۸ - ،اقتصاد۱۲۲۱۳۱۰

۳۷- افزایش حجم پول در الگوی کلاسیک چه نتایجی دارد؟

۱. افزایش نرخ بهره- افزایش اشتغال- افزایش دستمزدهای اسمی

۲. ثابت ماندن نرخ بهره- افزایش اشتغال - افزایش دستمزدهای اسمی

۳. کاهش نرخ بهره- ثابت ماندن اشتغال- افزایش دستمزدهای اسمی

۴. ثابت ماندن نرخ بهره- ثابت ماندن اشتغال- افزایش دستمزدهای اسمی

۳۸- با افزایش موجوی سرمایه

۱. منحنی عرضه کل و تابع تولید هر دو به طرف راست جابجا می شوند.

۲. منحنی عرضه کل و تابع تولید هر دو به طرف چپ جابجا می شوند.

۳. منحنی عرضه کل به طرف راست و تابع تولید به طرف چپ جابجا می شوند.

۴. منحنی عرضه کل به طرف راست جابجا شده اما تابع تولید تغییر نمی کند.

۳۹- بر اساس منحنی فیلیپس بلند مدت ...

۱. بین تورم و بیکاری رابطه ای وجود ندارد.

۲. بین تورم و بیکاری رابطه ی عکس وجود دارد.

۳. بین تورم و بیکاری رابطه ی مستقیم وجود دارد.

۴. هر کدام از گزینه های فوق امکان پذیر است.

۴۰- افزایش نرخ تورم انتظاری چه تاثیری بر منحنی فیلیپس کوتاه مدت دارد؟

۱. باعث حرکت روی منحنی فیلیپس به طرف بالا و چپ می شود.

۲. باعث حرکت روی منحنی فیلیپس به طرف پایین و راست می شود.

۳. منحنی فیلیپس کوتاه مدت را به طرف بالا و راست جابجا می کند.

۴. منحنی فیلیپس کوتاه مدت را به طرف پایین و چپ جابجا می کند.

1221310 - 96-97-2

	وضعیت کلید	پاسخ صحیح	شماره سوال
عادي		الف	۱
عادي		الف،ب،ج،د	۲
عادي		د	۳
عادي		ج	۴
عادي		الف	۵
عادي		ب	۶
عادي		الف	۷
عادي		ج	۸
عادي		ب	۹
عادي		الف،ب،ج،د	۱۰
عادي		الف	۱۱
عادي		ج	۱۲
عادي		ب	۱۳
عادي		ج	۱۴
عادي		الف	۱۵
عادي		ب	۱۶
عادي		الف	۱۷
عادي		الف	۱۸
عادي		ج	۱۹
عادي		د	۳۰
عادي		الف،ب،ج،د	۳۱
عادي		ج	۳۲
عادي		الف	۳۳
عادي		الف،ب،ج،د	۳۴
عادي		ج	۳۵
عادي		د	۳۶
عادي		الف	۳۷
عادي		ب	۳۸
عادي		د	۳۹
عادي		الف،ب،ج،د	۴۰
عادي		ب	۴۱
عادي		الف	۴۲
عادي		ب	۴۳
عادي		ج	۴۴
عادي		د	۴۵
عادي		الف	۴۶
عادي		الف،ب،ج،د	۴۷
عادي		الف،ب،ج،د	۴۸
عادي		الف،ب،ج،د	۴۹
عادي		ج	۵۰